＜ハローカラー印刷サービス＞のご案内

2019年度受験対策の下記セミナーの「切腹資料」、および、平成31年度（2019年度）「観光白書」（要旨版）、「観光庁研修テキスト」（令和元年最新版）を格安で印刷してお送りします。
コンビニで印刷すると、カラー印刷は1枚 50 円もします。＜ハローカラー印刷サービス＞の格安印刷サービスを是非ご利用ください。

●＜ハローカラー印刷サービス＞で販売中の資料
①＜日本歴史＞セミナー の「切腹資料」
②＜日本地理＞セミナー の「切腹資料」
③＜一般常識＞セミナー の「切腹資料」
④＜通訳案内の実務＞セミナー の「切腹資料」
⑤平成 31 年度（2019 年度）「観光白書」（要旨版）

●各資料の説明
①6 月 30 日開催の＜日本歴史＞セミナーの「切腹資料」（カラー、A4版 84 ページ）（1,500 円）
http://www.hello.ac/2019.6.30.pdf
（ご参考）動画：https://youtu.be/gec9HWCS0mw

②7 月 6 日開催の＜日本地理＞セミナーの「切腹資料」（カラー、A4版 82 ページ）（1,500 円）
http://www.hello.ac/2019.7.6.pdf
（ご参考）＜動画＞（その1）：https://youtu.be/ezXAqLrWSk8
（ご参考）＜動画＞（その2）：下記の（0:40～2:48)の時間帯をご覧ください。
https://youtu.be/tPXvP4yETwk

③7 月 21 日開催の＜一般常識＞セミナーの「切腹資料」（カラー、A4版 66 ページ）（1,500 円）
https://e9.wingmailer.com/wingmailer/cr.cgi?id=E741&c_no=4
（ご参考）＜動画＞：https://youtu.be/b2SazqzhZGk

④＜通訳案内の実務＞セミナー の「切腹資料」（カラー、A4版 44 ページ）（1,500 円）
http://www.hello.ac/2019.8.5.pdf

（ご参考）＜動画＞（前半）：https://youtu.be/OzaOG8U8Rlghttps://youtu.be/OzaOG8U8Rlg

⑤平成 31 年度（2019 年度）「観光白書」（要旨版）（カラー、A4版 69 ページ）（1,500 円）
https://www.mlit.go.jp/common/001294574.pdf

※過去 3 年間の出題実績から、「観光白書」は、平成 30 年度（2018 年度）ではなく、平成 31 年度（2019 年度）の内容から出題される可能性が高いです！

＜ハローカラー印刷サービス＞申込書

●申込書の件名と宛先
・件名：＜ハローカラー印刷サービス＞申込み（氏名）←必ず、氏名をお書きください。
・宛先：info@hello.ac

記

●通訳案内士資格：（該当する先頭に〇印をご記入ください）
（　）（　　語）（　　年度合格）
（　）（　　語）（　　年度受験予定）
（　）（特に受験の予定はない）

●2019 年度の受験科目：（該当する先頭に〇印をご記入ください）
・第１次筆記試験
（　）外国語（　　語）
（　）日本地理
（　）日本歴史
（　）一般常識
（　）通訳案内の実務
・第２次口述試験
（　）第２次口述試験のみ（　　語）

●氏名：
●住所：
●電話：
●メールアドレス：
●ハローとの関係：
●ご希望の「資料」の（　）に〇印をご記入ください。
（　）①6 月 30 日開催の＜日本歴史＞セミナーの「切腹資料」一式（1,500 円）
（　）②7 月 6 日開催の＜日本地理＞セミナーの「切腹資料」一式（1,500 円）
（　）③7 月 21 日開催の＜一般常識＞セミナーの「切腹資料」一式（1,500 円）
（　）④8 月 4 日開催の＜通訳案内の実務＞（1,500 円）
（　）⑤平成 31 年度（2019 年度）「観光白書」（要旨版）（1,500 円）
●合計金額：（　　円）
●振込み予定日（　　月　　日）

以上

2019 年度＜日本地理＞セミナー 参考資料

外国人に人気の日本の観光スポットランキング＜ベスト 30＞

世界最大級の旅行コミュニティサイト「トリップアドバイザー」が発表した「外国人に人気の日本観光スポットランキング」(2018 年)によると、ベスト 30 は以下の通りである。
これらは、ガイドラインにある「外国人観光旅客が多く訪れている、又は、外国人観光旅客の評価が高い観光資源」と言うことができるので、受験者としては、しっかり押さえておく必要がある。

1 位(1)伏見稲荷大社／京都府京都市(5 年連続第 1 位)
2 位(3)広島平和記念資料館(原爆ドーム、広島平和記念公園)／広島県広島市
3 位(4)宮島 (厳島神社)／広島県廿日市市
4 位(5)東大寺／奈良県奈良市
5 位(7)新宿御苑／東京都新宿区
6 位(14)兼六園／石川県金沢市
7 位(10)高野山(奥之院)／和歌山県高野町
8 位(8)金閣寺／京都府京都市
9 位(9)箱根彫刻の森美術館／神奈川県箱根町
10 位(13)姫路城／兵庫県姫路市
11 位(30)三十三間堂／京都府京都市
12 位(11)奈良公園／奈良県奈良市
13 位(26)成田山 新勝寺／千葉県成田市
14 位(-)サムライ ミュージアム／東京都新宿区
15 位(-)白谷雲水峡／鹿児島県屋久島町
16 位(-)浅草寺／東京都台東区
17 位(-)日光東照宮／栃木県日光市
18 位(-)栗林公園／香川県高松市
19 位(25)両国国技館／東京都墨田区
20 位(12)永観堂禅林寺／京都府京都市
21 位(16)長谷寺／神奈川県鎌倉市
22 位(-)東京都庁舎／東京都新宿区
23 位(-)トヨタ産業技術記念館／愛知県名古屋市
24 位(-)白川郷合掌造り集落／岐阜県白川村
25 位(29)京都駅ビル／京都府京都市
26 位(-)立山黒部アルペンルート／富山県立山町
27 位(初)平等院／京都府宇治市
28 位(初)根津美術館／東京都港区
29 位(-)地獄谷野猿公苑／長野県山ノ内町
30 位(初)三千院／京都府京都市
※カッコ内は昨年順位、「初」はランキング初登場の意

以上

2019 年度全国通訳案内士試験直前対策セミナー
＜日本地理＞直前対策セミナー資料

（2019年7月6日）

ハロー通訳アカデミー
植山源一郎

＜合格への道＞

「彼を知り己を知れば百戦殆からず」と申します。
まず、既出問題（最低 4 年分）を見て、出題傾向、自分の強い分野、弱い分野を知ることがすべての出発点になります。

●第１次筆記試験＜日本地理＞【問題用紙】（解答付）（2015 年～2018 年）
http://www.hello.ac/geo.2015.2018.pdf

●第１次筆記試験＜日本地理＞【解答例】（2004 年～2018 年）
http://www.hello.ac/geo.kaitourei.pdf

次に＜合格体験記＞を読むことにより、合格者の足跡をたどり、合格への道のりを追体験してください。
＜合格体験記＞は合格への道筋を示してくれます。
また、勉強に行き詰まったときに＜合格体験記＞を読むと、必ず道が開けます。

●2018 年度＜合格体験記＞

＜無料学習サイト・資料＞

本資料とともに、下記の＜無料学習サイト・資料＞も有効活用していただきたい。

●＜項目別地図帳＞（必須）

●＜都道府県別地図帳＞（右に、90度回転させてご利用ください）（必須）

●マラソンセミナー＜日本地理＞動画学習コーナー

●マラソンセミナー＜日本地理＞音声学習コーナー

●第 1 次邦文試験対策＜特訓 1800 題＞無料自習学習コーナー

●（写真問題対策）＜Flashcards Deluxe＞による学習法
＜Flashcards Deluxe＞でも、＜特訓 1800 題＞を 4 択問題形式で学習できます。

＜ガイドライン＞（試験方法・合格判定）

●2019 年度ガイドラインは、2018 年度とほとんど同じである。

＜試験全体について＞

日本地理、日本歴史及び一般常識についての筆記試験は、外国人観光旅客が多く訪れている又は外国人観光旅客の評価が高い観光資源に関連する地理、歴史並びに産業、経済、政治及び文化についての主要な事柄（日本と世界との関わりを含む。）のうち、外国人観光旅客の関心の強いものについての基礎的な知識を問うものとする。

(1)試験方法

・試験は、外国人観光旅客が多く訪れている又は外国人観光旅客の評価が高い観光資源に関連する日本地理についての主要な事柄（日本と世界との関わりを含む。）のうち、外国人観光旅客の関心の強いものについての基礎的な知識を問うものとする。
・試験の方法は、多肢選択式（マークシート方式）とする。
・試験時間は、40 分とする。
・試験の満点は、100 点とする。
・問題の数は、40 問程度とする。
・内容は、地図や写真を使った問題を中心としたものとする。

（※）2019 年度では、2018 年度のガイドラインの下線部分が削除された。

・試験は、外国人観光旅客が多く訪れている又は外国人観光旅客の評価が高い観光資源に関連する日本地理についての主要な事柄及び現在の日本人の生活、文化、価値観等につながるような日本地理についての主要な事柄（日本と世界との関わりを含む。）のうち、外国人観光旅客の関心の強いものについての基礎的な知識を問うものとする。

(2)合否判定

・合否判定は、原則として70点を合格基準点として行う。
・実際の平均点が、合格基準点から著しく乖離した科目については、Ⅰ（4）（※）において記載した合格基準の事後的な調整を行うこともある点に留意すること。

（※）筆記試験の合否判定については、科目ごとに合格基準点を設定し、すべての科目について合格基準点に達しているか否かを判定することにより行う。受験者には筆記試験の合否のほか、科目ごとに合格基準点に達したか否かを通知する。実際の平均点が、合格基準点から著しく乖離した科目については、当該科目の試験委員と試験実施事務局から構成される検討会を開催する。その結果、必要があると判断された場合には、合格基準の事後的な調整を行う。この調整は、平均点の乖離度及び得点分布を考慮して行う。
（⇒過去数年間、合格基準点が下げられることはあっても上げられることはなかった。）

●そもそも、「合格基準点」とは何か？

通訳案内士試験は、1949 年から約 70 年の歴史を持つ国家試験だが、長年に渡り、「難問、奇問、珍問の通訳案内士試験」の異名を誇ってきた。

下記は、その件で、私が「AERA」から取材を受けた記事である。

・問題がニッチすぎる？難問奇問珍問の国家資格「通訳案内士」

マスコミに叩かれるようになって初めて、観光庁も思い腰を上げ、「ガイドライン」→「合格基準点」の設定、改正を重ねてきたが、その際、＜合格基準点＝出題者が、その科目の平均点となるように作成する基準点＞ということが大前提となってきた。つまり、平均点を取れば、合格ということである。
それでも、日本地理、一般常識の合格基準点（＝平均点）が、年度により、40 点台という「難問、奇問、珍問がなくならない現状」がある。

＜日本地理＞の問題作成委員の変遷

●問題作成委員

マークシート方式が採用された2004年度から2018年度までの出題形式、内容、配点構成を分析すると、＜日本地理＞の問題作成委員は、3グループ（1グループ2名）が担当したと考えられる。

【Aグループ】2004年度～2007年度を担当
【Bグループ】2008年度～2010年度を担当
【Cグループ】2011年度～2018年度を担当

【Cグループ】が、2019年度を担当するかどうかは、不明であるが、2015年、2016年、2017年、2018年度の出題傾向はよく見ておくことが大切である。

年度別の大問、小問の配点構成、問題数

●2011年度～2014年度
【大問1】2点×10題＝20点
【大問2】3点×10題＝30点
【大問3】2点×10題＝20点
【大問4】3点×10題＝30点
2点×20題＋3点×20題＝100点
問題数：40題

●2015年度
【大問1】3点×20題＝60点
【大問2】3点×10題＝30点
【大問3】2点×5題＝10点
3点×30題＋2点×10題＝100点
問題数：35題

●2016年度
【大問1】2点×14題＋3点×4題＝40点
【大問2】2点×9題＋3点×14題＝60点
2点×23題＋3点×18題＝100点
問題数：38題

●2017年度
2点×11題＋3点×26題＝100点
問題数：37題

●2017年度
2点×17題＋3点×22題＝100点
問題数：39題

●年度別＜正解の番号の個数＞

正解	2015年度	2016年度	2017年度	2018年度
1	5	↗ 12	↘ 8	↗ 11
2	6	↗ 9	↗ 10	↘ 7
3	11	↘ 9	↘ 8	↗ 11
4	13	↘ 8	↗ 10	→ 10

※＜日本地理＞の正解の番号には、規則性がなく、「迷ったら、○番を選べ！」とは言いにくい。

●年度別＜写真、地図の枚数＞

	2015年度	2016年度	2017年度	2018年度
写真	9	8	15	12
地図	0	3	3	2
計	9	11	18	14

※増加傾向にあった写真、地図が、2018 年度には減少した。

2015年度～2018年度に出題された重要項目

＜ハロー注意報！＞　★は、2019年度にも出題が予想される重要項目です。

＜世界遺産、世界文化遺産＞
★三保の松原(2015)(2017)
★屋久島(2015)(2018)
★那智の滝(和歌山県)(2017)(2018)
旧集成館の反射炉跡(鹿児島)(2017)(2018)
★厳島神社(2018)
★「富士山ー信仰の対象と芸術の源泉」(2015)
★「明治日本の産業革命遺産」(2017)
★「石見銀山遺跡とその文化的景観」(2016)
★「古都京都の文化財」(2015)
★旧グラバー住宅(長崎)(2017)
★「琉球王国のグスク及び関連遺産群の構成資産」(2017)
世界自然遺産の位置(2015)
忍野八海(2015)
知床国立公園(2015)
今帰仁城跡(なきじん)(2017)
「紀伊山地の霊場と表参道」の名瀑(2017)
熊野詣の湯垢離場(ゆごりば)(2017)
つぼ湯(和歌山県)(2017)

＜特別天然記念物＞
阿寒湖のマリモ(2018)
タンチョー(2018)
イリオモテヤマネコ(2018)

＜国立公園・国定公園＞
★支笏洞爺国立公園(2018)
★阿寒摩周国立公園(2018)
★釧路湿原国立公園(2018)
★知床国立公園(2018)
★大雪山国立公園(2018)
★中部山岳国立公園(2015)
★上信越高原国立公園(2015)
★妙高戸隠連山国立公園(2015)
★白山国立公園(2015)
★慶良間(けらま)諸島国立公園(2017)
★やんばる国立公園(2017)
「立山黒部アルペンルート」がある国立公園(2015)
金沢城公園(2018)
釧路市(2018)
大石林山(だいせきりんざん)(2017)
尾瀬(尾瀬ヶ原と燧ヶ岳(ひうちがたけ)(2017)
本州最大の高層湿原(2017)

＜その他の公園＞
★栗林公園(2016)(2017)(2018)
★兼六園(金沢市)(2015)(2016)(2018)
仙巌園(鹿児島、島津家)(2016)(2018)
天赦園(宇和島市、伊達氏)(2016)(2018)
★偕楽園(水戸)(2018)
浜離宮恩賜庭園(2018)
小石川後楽園(2018)
上野恩賜公園(2018)
新宿御苑(2018)
あしかがフラワーパーク(2018)
回遊式大名庭園(2018)
館林つつじが岡公園(2018)
岩手公園(盛岡城跡)(2018)
玉藻公園(高松城跡)(2018)
琴引公園(2018)
★弘前公園(2018)
高遠城址公園(伊那市)(2018)
国営海浜ひたち公園(2018)
縮景園(広島市、浅野氏)(2018)
中津万象園(丸亀市)(2018)
島津家別邸(2018)
羊山公園(2018)
★新倉山浅間公園(あらくらやませんげん)(2017)
モエレ沼公園(札幌市)(2017)
笛吹川フルーツ公園(2017)
香雪園(函館)(2016)
函館公園(2016)
★地獄谷野猿公苑(山ノ内町)(長野県)(2015)

＜広域周遊ルート＞
★「日本のてっぺん。きた北海道ルート」(2017)
★「アジアの宝悠久の自然美への道ひがし北・海・道」(2016)
★「北海道ガーデン街道」(2016)
★「風のガーデン」(富良野)(2016)
★「日本の奥の院・東北探訪ルート」(2017)
★「昇龍道(ドラゴンルート)」(2016)
★「スピリチュアルな島～四国遍路～」(2016)
★「緑の道～山陰～」(2017)
★支笏湖(2016)
★屈斜路湖(日本最大のカルデラ湖)(2016)(2017)
★サロマ湖(2016)
★層雲峡(石狩川上流)(2016)
★十和田湖(2016)
トマム(2016)
美幌(2016)
ふきだし公園(羊蹄山)(2016)
錦仙峡(渚滑川渓谷)(2016)
恵庭(2016)

＜温泉＞
★地獄谷温泉(スノーモンキー)(長野県)(2017)
★城崎温泉(兵庫県豊岡市)(2016)(2018)
★指宿温泉(2016)(2018)
皆生温泉(かいけ)(鳥取県)(2016)(2018)
玉造温泉(松江市)(2016)(2018)
秋保温泉(あきう)(仙台名取川)(2016)(2017)
石手寺(道後温泉)(2016)(2017)
湯田中渋温泉郷(2016)(2017)
伊香保温泉(群馬県)(2018)
古里温泉(2018)
黒川温泉(2018)
砂むし温泉(2018)
★大涌谷(2018)
★三朝温泉(鳥取県)(2018)

★草津温泉(2018)
★湯河原温泉(神奈川県)(2018)
袋田温泉(茨城県)(2018)
湯の児温泉(2018)
湯西川温泉(日光)(2018)
湯布院温泉(2018)
日奈久温泉(2018)
有福温泉(島根県江津市)(2018)
竜化の滝(塩原温泉)(2018)
「神の湯」(2018)
★有馬温泉(兵庫県)(2017)
★宝塚温泉(兵庫県)(2017)
7つの外湯めぐり(鴻の湯他)を楽しめる温泉(2017)
秋田県の温泉(2017)
上林温泉(長野県)(2017)
温海温泉(あつみ、鶴岡市)(2017)
岩室温泉(新潟市)(2017)
玉川温泉(秋田県仙北市)(2017)
金泉(2017)
月岡温泉(新発田市)(2017)
崎の湯(和歌山県)(2017)
信州高山温泉郷(2017)
新潟県村上市にある温泉(2017)
瀬波温泉(村上市)(2017)
仙人風呂(和歌山県)(2017)
大町温泉郷(2017)
大鰐温泉(青森県)(2017)
湯村温泉(兵庫県)(2017)
不老ふ死温泉(青森県深浦町)(2017)
蓼科温泉郷(2017)
鶯宿温泉(おうしゅく)(岩手県雫石)(2017)
★道後温泉(2016)
★日本三古湯(2016)
★由布院温泉(2016)
鞍馬温泉(2016)
雲仙温泉(2016)
遠刈田温泉(とおがった)(蔵王町)(2016)
温泉津(ゆのつ)(2016)
古湯・新湯・小地獄(温泉)(2016)
作並温泉(さくなみ)(仙台広瀬川)(2016)
仙台の奥座敷(温泉)(2016)
鈍川温泉(2016)
武雄温泉(2016)
平戸温泉(2016)
鳴子温泉(なるこ)(大崎市)(2016)

＜ジオパーク＞
日本ジオパーク(2015)
三笠ジオパーク(2015)
糸魚川ジオパーク(2015)
室戸ジオパーク(2015)
霧島ジオパーク(2015)
石炭鉱山、炭田が主要なジオパーク(2015)

＜歴史上の人物＞
★葛飾北斎(2015)(2017)
★榎本武揚(2015)(2016)
★土方歳三(2016)
★歌川広重(2017)
★松尾芭蕉(2017)
小林一茶(2017)
堀辰夫(2017)
快川国師(2017)
夢窓国師(2017)
坂本龍馬(2016)
高田屋嘉兵衛(2016)
辰野金吾(2016)
本野精吾(2016)
伊藤博文(2015)
大久保利通(2015)
徳川慶喜(2015)
宇多天皇(2015)
徳川家康(2015)

＜歴史上の事件・事項＞
★「漢委奴国王」(金印)(2018)
★鶴ヶ城(会津若松城)(戊辰戦争)(2018)
★西南戦争(2018)
みちのくの小京都(2018)
山陰の小京都(2018)
角館(かくのだて)(城下町、仙北市)(2018)
「出雲国風土記」(733年)(2018)
たたら製鉄(2018)
まがたま作り(青めのう)(2018)
雲南市、奥出雲町の産業(2018)
玉鋼生産地(日刀保たたら)(2018)
1889年に鎮守府がおかれた場所(2018)
現存する洋式工場として最古の建物(2018)
旧札幌農学校演舞場(2017)
★富嶽三十六景(2015)
★奥の細道(2017)
「閑さや岩にしみ入る蝉の聲」(2017)
★札幌時計台(2017)
★平泉(2017)
豊平館(ほうへいかん、札幌)(2017)
旧金毘羅大芝居(日本最古の芝居小屋)(2017)
金丸座(かなまるざ、香川)(2017)
康楽館(秋田県)(2017)
斜陽館(青森)(2017)
歌舞伎座(2017)
戊辰戦争最後の舞台(星形要塞)(2016)
★五稜郭(2016)
★吉野ヶ里遺跡(佐賀県)(2016)
伊達政宗の御廟(ごびょう)(2016)
感仙殿(忠宗霊廟)(2016)
瑞鳳殿(正宗霊廟)(2016)
善応殿(綱宗霊廟)(2016)
大極殿(天皇の政務所)(2016)
ジョサイア・コンドル(2016)
フランク・ロイド・ライト(2016)
東京駅丸の内駅舎・日本銀行本店設計者(2016)
トラピスチヌ修道院(2016)
佐渡金山(新潟県)(2016)
生野銀山(兵庫県)(2016)
足尾銅山(栃木県)(2016)
別子銅山(愛媛県)(2016)
西都原古墳群(2016)
平安京(2015)
将軍宣下(徳川幕府)(2015)
大政奉還(2015)

＜山、川、渓谷、洞窟＞
大歩危峡(吉野川)(2018)
三段峡(広島県)(2018)
紫雲山(2018)
花仙山(2018)
吉野川(2018)
上毛三山(2017)
蝦夷富士(ふきだし公園)(2017)
最上川(2017)

子持山(こもちやま)(2017)
秋山郷(中津川沿い)(2017)
昭和新山(2017)
赤城山(2017)
創成川(札幌)(2017)
樽前山(2017)
湯殿山(2017)
馬見ケ崎河川敷(山形県)(2017)
妙義山(2017)
有珠山(2017)
羊蹄山(2017)
龍河洞(高知県)(2017)
天人峡(大雪山南西麓)(2016)
広瀬川(仙台市)(2016)
四国三郎(吉野川)(2016)
鬼怒沼山(2016)
九頭竜川(2016)
玄武洞(兵庫県豊岡市)(2016)
五台山(高知県)(2016)
高尾山(八王子市)(2015)
黒部川(2016)
四万十川(高知県)(2016)
七北田川(仙台市北部)(2016)
女峰山(2016)
石鎚山(2016)
早雲山(2015)
大涌谷(2015)
男体山(2016)
長良川(2016)
白根山(2016)
函館山(2016)
保津峡(2016)
鳴瀬川(宮城県北部)(2016)
鈴鹿川(2016)
白神山地(2015)

＜海、海峡、海岸＞
★東尋坊(福井県)(2016)
★虹の松原(佐賀県)(2016)
★気比の松原(けひ)(敦賀市)(2016)
★三大松原(三保の松原)
中津渓谷(高知県)(2018)
鳴門海峡の渦潮(2018)
与那覇前浜ビーチ(2018)
浦富海岸(鳥取県)(2017)
国賀海岸(くにが)(隠岐諸島)(2017)
丹後海岸(京都府)(2017)
白兎海岸(鳥取県)(2017)
万座毛(まんざもう)(2017)
雨晴海岸(あまはらし、富山県高岡市)(2016)
越前海岸(福井県敦賀市)(2016)
鬼の洗濯板(2016)

＜岬、灯台、湾＞
伊良湖岬(渥美半島西端)(2016)(2018)
★石廊崎(2016)(2018)
★東平安名崎(ひがしへんなざき、宮古島)(2017)(2018)
★華厳の滝(日光)(2018)
★黒部峡谷(2018)
★潮岬(紀伊半島南端)(2018)
★直島(2018)
宮良湾(2018)
金武湾(2018)
御前崎(2018)
称名滝(立山市、日本一の落差)(2018)
川平湾(かぴらわん、石垣島)(2018)
残波岬(2018)
舟浮湾(2018)
辺戸岬(沖縄最北端)(2018)
辺野古崎(2018)
★御前崎(2017)
宗谷岬(日本本土最北端)(2017)
納沙布岬(日本本土最東端)(2017)
常布の滝(じょうふ、草津市)(2017)
浄蓮の滝(♪天城超え♪)(2017)
榛名山(はるなさん)(2017)
スコトン岬(礼文島の岬)(2017)
ノシャツプ岬(稚内市)(2017)
伊勢湾(2016)
★英虞湾(2016)
牡鹿半島(2016)
金華山(2016)
恵山(2016)
佐多岬(鹿児島)(2016)
三河湾(2016)
志摩半島南部の湾(2016)
小笠原諸島(二見港がある島)(2016)
長崎鼻(鹿児島)(2016)
弟島(2016)
的矢湾(2016)
父島(2016)
名取川(仙台市南部)(2016)
立待岬(2016)

＜滝、池、湖＞
★富士五湖(2017)
★本栖湖(2016)(2017)
(千円札の裏の逆さ富士)
★河口湖(2015)(2017)
★山中湖(2015)(2017)
★精進湖(2015)(2017)
★西湖(2015)(2017)
★千円札の裏にかかれている湖(2015)
★富士五湖 (西から東に並べた順番)(2015)
(西から本栖湖, 精進湖, 西湖, 河口湖, 山中湖)
(覚え方:山中君と川口君がサイコロ振って、遊んでいたら障子が破れて、もう、どうすんの)
養老の滝(岐阜)(2017)(2018)
雲場池(軽井沢)(2018)
大正池(上高地)(2018)
明神池(上高地)(2018)
田代池(上高地)(2018)
マリユドゥの滝(西表島)(2017)
★阿寒湖(マリモ)(2017)
★摩周湖(透明度が高い)(2017)
★華厳の滝(日光)(2017)
吹割の滝(ふきわれ、群馬県沼田市)(2017)
赤目四十八滝(三重県名張市)(2017)
袋田の滝(ふくろだ)(茨城県大子町)(2017)
棚下不動滝(たなした)(渋川市)(2017)
男滝・女滝(おだき・めだき)(2017)
東洋のナイアガラ(2017)
箕面の滝(大阪府箕面市)(2017)
経ヶ岬灯台(2016)
犬吠埼灯台(2016)
真名井の滝(2016)
池田湖(鹿児島)(2016)
★中禅寺湖(噴火でできた)(2016)
★桃源台(芦ノ湖湖畔)(2015)
★白糸の滝(2015)

＜路、坂道＞
★いろは坂(2016)
四十八坂(岩手県)(2016)
椎坂峠(しいさか)(群馬県沼田市)(2016)
地獄坂(全国に多数あり)(2016)

＜平野、盆地、台地、高原＞
鬼押出し園(群馬県)(2018)
北軽井沢(2017)
万座(2017)
日本平(2017)
千畳敷(函館)(2016)
カルスト台地(2015)
仙台平野(2015)
大都市とそれが立地する平野の組合せ(2015)
濃尾平野(名古屋市)(2015)
福岡平野(2015)

＜地形その他＞
水上高原(2017)
沈水カルスト地形(2015)
ドリーネ(2015)
ラピエ(2015)

＜島、半島＞
★種子島(2018)
★竹富島(2017)(2018)
★宮古島(2018)
★西表島(2018)
★石垣島(2018)
★沖ノ鳥島(日本最南端の島)(東京都)(2018)
★与那国島(日本最西端の島)(国境の島)(沖縄県)(2018)
★豊島(2018)
口永良部島(2018)
女木島(2018)
男木島(2018)
波照間島(2018)
硫黄島(2018)
久米島(2017)
渡嘉敷島(とかしきじま)(2017)
伊江島(2017)
渥美半島(2016)
伊豆半島(2016)
三浦半島(2016)
兄島(2016)
桜島(2016)
母島(2016)

＜寺、神社＞
★耕三寺(西の日光)(2015)(2018)
★中尊寺(平泉町)(2016)(2017)
★伏見稲荷大社(2015)(2017)
★出雲大社(2018)
★太宰府天満宮(菅原道真が祭神)(神紋は梅紋)(2018)
櫛原天満宮(2018)
鵜戸神宮(2018)
海に立つ鳥居(2018)
櫛田神社(2018)
広島東照宮(2018)
太皷谷稲成神社(2018)
八重垣神社(2018)
平成の大遷宮2016年(2018)
筥崎宮(はこざきぐう)(2018)
日御碕神社(2018)
恵林寺(えりんじ)(甲州市)(2017)
善光寺(2017)
太鼓谷稲成神社(たいこだにいなり)(津和野市)(2017)
大泉寺(甲府市)(2017)
長禅寺(甲府市)(2017)
日本五大稲荷(2017)
武田信玄の菩提寺(2017)
福徳稲荷神社(下関市)(2017)
豊川稲荷(豊川市)(2017)
龍潭寺(りょうたんじ)(浜松市)(2017)
戸隠神社(2017)
★立石寺(りっしゃくじ)(山形市)(2017)
★日光東照宮(2016)
★二荒山神社(2016)
★日光山輪王寺(家光の霊廟)(2016)
★永平寺(福井県)(2016)
★四国八十八ケ所めぐり(2016)
(四国にある空海(弘法大師)ゆかりの88か所の寺院の総称)
貴船神社(2016)
善通寺(西院、御誕生院)(2016)
大谷寺(2016)
竹林寺(高知県)(2016)
霧島神宮(鹿児島)(2016)
霊山寺(発願の寺)(2016)
★鹿苑寺(金閣)(2015)
★慈照寺(銀閣)(2015)
★教王護国寺(東寺)(真言宗総本山)(2015)
★清水寺(2015)
★西芳寺(2015)
★西本願寺(浄土真宗本願寺派)(2015)
★東本願寺(浄土真宗大谷派)(2015)
★天龍寺(2015)
★龍安寺(2015)
★延暦寺(大津市)(2015)
★平等院(宇治市)(10円硬貨の鳳凰堂の社寺所在地)(2015)
醍醐寺(2015)
高山寺(2015)
御室御所(仁和寺)(2015)
富士山本宮浅間神社(2015)
薬王院(2015)
瑞龍寺(ずいりゅうじ)(前田利長の菩提寺)(2015)
浅間神社(2015)
大山祇神社(おおやまづみじんじゃ)(2015)
尾山神社(前田利家とその正室を祀る)(2015)

＜城・城郭・城下町＞
弘前城跡(2018)
三つの日本一を持つ城(石垣、天守、井戸)(2018)
津軽藩主の居城跡(2018)
南部藩主の居城跡(2018)
丸亀城(2018)
首里城跡(2017)
春日城跡(上越市)(2017)
雲海(2017)
上田城(上田市)(2017)
★竹田城跡(虎臥城)(「日本のマチュピチュ」「天空の城」)(兵庫県朝来市)(2017)
★備中松山城(岡山県高梁市)(現存天守を持つ山城としては最も高い所にある)(2017)
群上八幡(奥美濃城下町)(2016)
★二条城(古都京都の文化財)(2015)
★松本城(深志城)(烏城)(2015)
★松江城(島根県)(2015)

★(伊予)松山城(愛媛県)(2015)
熊本城(熊本県)(2015)
岡山城(岡山県)(2015)

＜街道＞
★中山道(木曽街道)(2017)
★妻籠宿(2017)
★馬籠宿(2017)
伊那街道(2017)
神戸淡路鳴門自動車道(2015)
瀬戸中央自動車道(2015)
西瀬戸自動車道(2015)
本州四国連絡道路(2015)

＜橋＞
「しまなみ海道」の四国側起点(今治)(2018)
「しまなみ海道」の本州側起点(尾道)(2018)
綾の照葉大吊橋(宮崎県)(2017)
九重“夢”大吊橋(大分県)(2017)
祖谷のかずら橋(2017)
谷瀬の吊り橋(たにぜ)(奈良県十津川村)(2017)
日本一長い歩行者用吊り橋(2017)
竜神大吊橋(常陸太田市)(2017)
眼鏡橋(2016)
錦帯橋(岩国市)(2016)
通潤橋(つうじゅんきょう)(熊本県)(2016)
日本最大級の石造りアーチ水路橋(2016)
西田橋(2016)
瀬戸大橋(2015)
大鳴門橋(2015)

＜祭＞
★よさこい祭(2016)(2018)
★阿波踊り(2016)(2018)
★博多どんたく(2018)
ホーランエンヤ(2018)
火の国祭り(2018)
玉取祭(玉せせり)(2018)
徳島市の夏祭り(2018)
博多祇園山笠(2018)
博多松囃子(2018)
おはら祭り(2018)
★葵祭(下鴨神社、上賀茂神社)(2017)
★祇園祭(八坂神社)(2017)
★時代祭(平安神社)((2017)
★京都三大祭(2017)
★ねぶた祭(弘前市)(2017)
さくらまつり(弘前市)(2017)
琴弾八幡宮大祭(2016)
群上おどり(2016)
新居浜太鼓祭り(2016)

＜市場、商店街＞
ひがし茶屋街(金沢)(2018)
錦市場(京都)(2018)
近江町市場(金沢)(2018)
黒門市場(大阪)(2018)
新京極(京都)(2018)
狸小路(札幌)(2018)
天文館(鹿児島)(2018)
道頓堀(2018)
柳橋連合市場(福岡)(2018)
和商市場(釧路)(2018)
国際通り(那覇市)(2017)
黒壁スクエア(長浜市)(2017)
ハルニレテラス(軽井沢市)(2017)
境町通り(京都市)(2017)
宮川朝市(高山市)(2016)
あつみ温泉朝市(温海、鶴岡市)(2016)
輪島朝市(2016)
呼子の朝市(佐賀県)(2016)
勝浦朝市(千葉県)(2016)
函館朝市(2016)
錦市場(京都)(2015)
黒門市場(大阪)(2015)
築地場外市場(東京都)(2015)
牧志公設市場(沖縄県)(2015)

＜料理、特産品＞
あまおう(福岡)(2018)
とちおとめ(栃木)(2018)
紅ほっぺ(静岡)(2018)
きっぱん(2018)
くんぺん(2018)
こいのか(九州沖縄農業研究センター)(2018)
サーターアンダギー(2018)
ソウルフード骨付鳥発祥の地(2018)
ちんすこう(2018)
琉球菓子(2018)
しょっつる鍋(秋田)(2017)
ひっつみ(青森・岩手)(2017)
芋煮(山形県、宮城県)(2017)
郷土料理(2017)
粕汁(2017)
皿鉢料理(2016)
さぬきうどん(2016)
ずんだ餅(2016)
ふくめん(愛媛県)(2016)
名物料理(2016)
牛タン焼き(2016)
笹かまぼこ(2016)
治部煮(じぶに)(金沢市の郷土料理)(2016)
仙台の定番人気グルメ(2016)
祖谷そば(いや、徳島県)(2016)

＜旅館・ホテル＞
富士屋ホテル(箱根)(2018)
万平ホテル(軽井沢)(2018)
金谷ホテル(日光)(2018)
川奈ホテル(伊東市)(2018)
旧三笠ホテル(2018)
ジョン・レノンが滞在したホテル(2018)

＜博物館・美術館＞
★足立美術館(島根県安来市)(2016)(2018)
★大和ミュージアム(呉市海事歴史科学館)(2015(2018)
★森鴎外旧宅・森鴎外記念館(島根県津和野町)(2016)(2018)
「名園と横山大観コレクション」の美術館(2018)
MOA美術館(熱海市)(2018)
ベネッセハウスミュージアム(2018)
九州国立博物館(2018)
鴻嘘館跡展示館(こうろかん、福岡市)(2018)
大原美術館(倉敷市)(2018)
地中美術館(2018)
島根県立美術館(松江市)(2018)
福岡アジア美術館(2018)
西周旧居(2018)
福岡市博物館(2018)
李禹煥美術館(2018)
北方文化博物館(新潟市)(2017)
札幌市資料館(2017)

日下部民塾館（高山市）(2016)
水木しげる記念館（鳥取県）(2016)
小泉八雲記念館（松江市）(2016)
★ガラスの森美術館（2015）
★彫刻の森美術館（2015）
ラリック美術館（2015）
小田急グループの観光ルート以外にある美術館（2015）
森美術館（東京都）（2015）
平山郁夫美術館（2015）
＜ランキング＞
★柿田川湧水群（名水百選）（2018）
「世界の夢の旅行先10選」(CNN)(2018)
日本のベストビーチ （2018）
日本百景(2018)
群馬県に所在する日本三大奇勝(2017)
日本の滝百選（2016）
ミシュラン三つ星の展望（函館夜景）(2016)
高岡市にある白砂青松・渚百選(2016)
名水百選第一号宗祇水(2016)

＜都市・集落＞
「飛騨高山の古い町並」(2016)
小城市(クリーク、佐賀県）（2016）
潮来市(水郷、茨城県）（2016）
柳川市(福岡市）（2016）
伊勢志摩サミット開催地（2016）
札幌市とほぼ同緯度(43度)の都市（ローマ(42度)（2015）
東京大都市圏に次ぐ人口規模の大都市圏（上海）（2015）
日本の都市人口率（90%）（2015）

＜鉄道・駅・空港＞
★黒部峡谷鉄道（宇奈月温泉～欅平）(2018)
★トロッコ式電車(2018)
SLやまぐち号終着地(2018)
★最も標高の高いJR小海線の駅(野辺山駅)（1,346m）(2017)
甲斐大泉駅(2017)
信濃川上駅(2017)
清里駅(2017)
押上駅(2016)
嵯峨野トロッコ列車(2016)
女満別空港(2016)
上野駅(2016)
浅草駅(2016)
稚内空港(2016)
中標津空港(2016)
東武鉄道の始発終着駅(2016)
北千住駅(2016)
紋別空港(2016)
両毛線（さいたま市）（2015）
岩見沢駅（2015）
中央本線：甲府市（2015）
東海道本線：横浜市（2015）
東北本線：さいたま市（2015）

＜人工建造物（寺・神社・城・橋以外）＞
★原爆ドーム(2018)
サンシヤイン水族館(2016)
スカイツリータウンにある水族館(2016)
すみだ水族館(2016)
五稜郭タワー(2016)
合掌造り民家園（岐阜県白川村）(2016)
知覧武家屋敷(鹿児島)(2016)
天橋立の全長(2016)
「三笠ジオパーク」近くに立地していた炭鉱（2015）
高島炭鉱（世界遺産）（2015）
三池炭鉱（世界遺産）（2015）
美祢炭鉱（2015）
夕張炭鉱（2015）

＜観光ルート（広域周遊ルート以外）＞
★立山黒部アルペンルート（2018）
★「観光立国ショーケース」（2018）
金沢駅から和倉温泉までの観光ルート(2016)
鹿児島観光ルート(2016)
強羅（2015）
箱根の観光ルート（2015）
箱根町（2015）
箱根湯本（2015）

＜観光地・名所＞
「天下第一の桜」と称される名所(2018)
サイクリストの聖地(2018)
タンチョウ(2018)
会津随一の花見の名所(2018)
樹齢100年を超えるコヒガンザクラ(2018)
樹齢約150年の大藤棚(2018)
津和野市(2018)
特別天然記念物(2018)
縄文杉(2018)
枝垂桜(2018)
国の重要文化的景観(2017)
橋野鉄鉱山(釜石）（2017）
端島炭坑(長崎）（2017）
北一硝子（小樽市）(2017)
天狗山展望所（小樽市）(2017)
姨捨の棚田（おばすてのたなだ）（長野県千曲市）(2017)
どんこ船で水郷めぐりのできる都市(2016)
伊根の舟屋(2016)
御崎馬（みさきうま）(都井岬)(2016)
白米千枚田（しろよねせんまいだ）（輪島市）(2016)
「雪の大谷」を見学できる地点（室堂）（2015）
ウミガメの産卵地（2015）
クビナガリュー（2015）
海鳥の生息地（2015）

＜海外の地名＞
ガラパゴス諸島（2015）
イエローストーン（2015）
シュバルトバルト（2015）
グレートバリアリーフ（2015）
エコツーリズム（2015）

＜日本遺産＞
★日本遺産(2018)
「鎮守府横須賀・呉・佐世保・舞鶴～日本近代化の躍動を体感できるまち～」(2018)

世界遺産、広域観光周遊ルート、国立公園のまとめ

●北海道

【世界遺産】

・知床
①川:岩尾別川、カムイワッカ川、テッパンベツ川、羅臼川
②滝:フレペの滝、カムイワッカ湯の滝、カムイワッカの滝
③湖沼:知床五湖、羅臼湖
④山:羅臼岳(1,661m)、知床硫黄山(1,562m)、知床岳(1,254m)
⑤岬:プユニ岬、知床岬

【広域観光周遊ルート】

・日本のてっぺん。きた北海道ルート
①オトンルイ風車群(幌延町)(全長 3.1 kmにも及ぶ壮観な風車群)
②サロベツ原生花園(豊富町)(100 種類以上の高山植物が咲き利尻山も眺望)
③宗谷丘陵(稚内市)(稚内三大景勝地の一つ白い道のフットパス)
④上野ファーム(旭川市)(北海道ガーデン街道の庭園の一つ。北国ならではの花々が開花する　庭園)

・アジアの宝悠久の自然美への道ひがし北・海・道(2016)
①Explore the Wonderland in summer(①ファーム富田(中富良野町)②四季彩の丘(美瑛町)③十勝千年の　森(清水町)④芝桜(大空町東藻琴)⑤メルヘンの丘(女満別町)⑥釧路川カヌー体験⑦摩周湖(弟子屈町)⑧ホエールウォッチング⑨北海道ガーデン街道(2016))
②Explore the Wonderland in winter(①旭山動物園(旭川市)②層雲峡温泉氷瀑まつり(上川町)③富良野スキー場(富良野市)⑤フロストフラワー(釧路市阿寒湖)⑥SL 冬の湿原号(釧路市ほか)⑦ガリンコ号Ⅱ(紋別市)⑧流氷ウォーク(網走市・斜里町)④然別湖コタン(鹿追町))

【国立公園】

・利尻礼文サロベツ国立公園(利尻島、礼文島、サロベツ原野(ペンケ沼(トー)、パンケ沼(トー)、サロベツ原野はラムサール条約登録湿地)

・知床国立公園(羅臼岳(らうすだけ)、硫黄山(いおうざん)、羅臼湖、知床五湖、岩尾別(いわおべつ)温泉、羅臼温泉、ウトロ)(2018)

・阿寒摩周国立公園(雄阿寒(おあかん)岳、雌阿寒(めあかん)岳)、アトサヌプリなどの火山、摩周湖、屈斜路湖(2016)(2017)、阿寒湖(2016)(2017)
湖の透明度(m)ベスト 3(1 位摩周湖(28.0)、2 位倶多楽湖(22.0)、3 位支笏湖(17.5))
湖の深さ(m)ベスト 3(1 位田沢湖(280.0)、2 位支笏湖(265.4)、3 位摩周湖(137.5)(2017))
湖の大きさ(平方キロメートル)ベスト 3(1 位琵琶湖(670.3)、2 位霞ヶ浦(167.6)、3 位サロマ湖(151.9))

・釧路湿原国立公園(釧路湿原、特別天然記念物タンチョウの繁殖地、日本で初めてラムサール条約登録湿地、細岡展望台)(2018)

・大雪山国立公園(大雪山(2018)、トムラウシ山、十勝岳連峰、然別湖(しかりべつこ)、層雲峡(2016)、天人峡(2016))

・支笏洞爺国立公園(羊蹄山(2017)、恵庭岳、有珠山、昭和新山(2017)、支笏湖(2016)(2018)、洞爺湖、定山渓温泉(札幌の奥座敷)・登別温泉)

●東北地方

【世界遺産】

・白神山地（白神岳、暗門滝、十二湖、二ツ森、白神ライン、津軽峠、津軽国定公園十二湖、悠久の森白神フェスティバル）

・平泉―仏国土（浄土）を表す建築・庭園及び考古学的遺跡群（中尊寺（金色堂）、毛越寺、観自在王院跡、無量光院跡、金鶏山）

・明治日本の産業革命遺産：製鉄・製鋼、造船、石炭産業（橋野鉄鉱山・高炉跡（岩手県釜石市））

【広域観光周遊ルート】

・日本の奥の院・東北探訪ルート

①蔵王温泉（山形県山形市）（約 1,900 年の歴史がある蔵王温泉の、一度に 200 人が入れる大露天風呂。）
②山寺（山形県山形市）（約 1,100 年前に開かれたお寺。山門から奥の院までの石段は 800 段を超える。）
③日本三景・松島【ミシュラン三ツ星】（宮城県松島町）（約 900 年もの昔から偉人に親しまれてきた日本三景。海に浮かぶ多島美を楽しめる。）
④平泉【世界遺産】（岩手県平泉町）（約 900 年前に建てられた中尊寺金色堂には、ミイラ化した亡骸が納められている。）
⑤猊鼻渓舟下り（岩手県一関市）（船頭の歌を聴きながら絶景舟下りを楽しむ。運玉投げで運だめしも楽しい。）
⑥角館（秋田県仙北市）（約 400 年前の町並みをそのまま残し、四季折々に伝統的景観が楽しめる。）
⑦白神山地【世界遺産】（青森県西目屋村ほか）（世界最大級のブナの原生が残る世界遺産。鮮やかな自然や滝を楽しめる。）
⑧羽黒山【ミシュラン三ツ星】（山形県鶴岡市）（約 1,400 年前に開かれた修験の山。山頂付近の五重の塔は国宝に指定。）

【国立公園】

・十和田八幡平国立公園（十和田湖、奥入瀬渓流、八甲田山、田代平湿原、八幡平、玉川温泉、秋田駒ヶ岳、岩手山）

・磐梯朝日国立公園（出羽三山（2018）：月山・羽黒山・湯殿山、飯豊山、朝日岳、磐梯山、桧原湖、五色沼、雄国沼、猪苗代湖、吾妻山、安達太良山）

・三陸復興国立公園（蕪島：ウミネコ大繁殖地、小袖海岸：つりがね洞、鵜ノ巣断崖、陸前高田奇跡の一本松、碁石海岸：雷岩と乱暴谷、巨釜半造、金華山）

●関東地方

【世界遺産】

・富士山－信仰の対象と芸術の源泉（富士五湖(西湖、精進湖、本栖湖、山中湖、河口湖)（2015）（2017）、忍野八海（2015）、青木ヶ原樹海、白糸ノ滝（2015）、三保の松原（2015）（2017）、富嶽三十六景（2015））（2015）

・日光（日光東照宮）（2016）（2018）、二荒山神社（2016）、山輪王寺（2016）、大猷院（2018）、日光江戸村、中禅寺湖、鬼怒川温泉、草津温泉、伊香保温泉、中禅寺湖温泉、いろは坂（2016）

・富岡製糸場と絹産業遺産群（富岡製糸場、田島弥平旧宅、高山社跡、荒船風穴）（2017）

・小笠原諸島（父島、母島、西之島、各島周辺の岩礁・海域）（2016）

・国立西洋美術館本館(ル・コルビュジエの建築と都市計画の一部として)

【広域観光周遊ルート】

・広域関東周遊ルート(「東京圏大回廊」)

①自然大回廊(太平洋)コース(日光杉並木、偕楽園、国営ひたち海浜、鋸山地獄のぞき、スパリゾートハワイアンズ、五色沼湖沼群、大洗磯前神社)
②自然大回廊(日本海)コース(上高地、昇仙峡、糸魚川海岸、スノーモンキー、いもり池、たらい舟、レストランかまくら村)
③江戸文化回廊コース(日光東照宮唐門、善光寺、草津温泉、伊香保温泉、桐生の着物着付け体験、益子焼陶芸体験、蔵造りの街並み)

【国立公園】

・日光国立公園(日光東照宮(2016)、日光二荒山神社(2016)、輪王寺(2016)、白根山(2016)、男体山(2016)、戦場ヶ原、華厳滝、鬼怒川温泉、川治温泉、那須岳、那須温泉郷、甲子温泉、塩原温泉郷、尾瀬沼、尾瀬ヶ原、三条の滝)

・富士箱根伊豆国立公園(富士山、富士五湖(2015)、田貫湖、青木ヶ原、白糸ノ滝、箱根山のカルデラや中央火口丘、芦ノ湖(2015)、箱根温泉、天城山、達磨山、大島、利島、新島、式根島、神津島、三宅島、御蔵島、八丈島)

・小笠原国立公園(兄島海域公園、宮之浜、長崎展望台、旭山、東平アカガシラカラスバトサンクチュアリ、小港海岸、南島、千尋岩)

・秩父多摩甲斐国立公園(金峰山、瑞牆山、大菩薩嶺、雲取山、西沢渓谷、東沢渓谷、御岳昇仙峡、三峰山(三峯神社)、御岳山)

・南アルプス国立公園(日本第二の高峰の北岳、赤石岳、甲斐駒ヶ岳、鳳凰山、天竜川、大井川、釜無川、野呂川(富士川水系早川の上流部))

・尾瀬国立公園(尾瀬沼、只見川、会津駒ヶ岳、田代山湿原、帝釈山、三条の滝、至仏山、燧ヶ岳、大江湿原、アヤメ平)(2017)

●中部地方

【世界遺産】

・白川郷・五箇山の合掌造り集落(萩町集落、相倉集落、菅沼集落)

【広域観光周遊ルート】

・昇龍道(2016)
①Dragon コース(下呂温泉、和倉温泉、飛騨酒蔵、一位一刀彫、関鍛冶伝承館、金箔工芸、犬山祭、大須商店街)
②Nostalgic コース(伊勢神宮、松本城、熊野古道、高山、白川郷、妻籠宿、五箇山、志賀高原、海女小屋体験)
③Great Nature コース(黒部峡谷、黒部ダム、雪の大谷、琵琶湖、養老の滝、東尋坊、福井県立恐竜博物館)
④Ukiyo-e コース(富士山、名古屋城、関ヶ原古戦場、岡崎城、旧東海道宿場町、東海道広重美術館、トヨタ自動車工場・トヨタ館)

【国立公園】

・伊勢志摩国立公園(英虞湾(2016)、伊勢神宮(2017)、的矢湾、五ヶ所湾、賢島、答志島、神島、二見浦、鳥羽水族館、ミキモト真珠島、合歓の郷、朝熊山(伊勢志摩スカイライン))(2016)

・中部山岳国立公園（立山、上高地、焼岳、穂高岳、朝日岳、乗鞍岳、黒部立山アルペンルート(2015)、雪の大谷(2015)、姫川、梓川、神通川、黒部川、黒部峡谷、上高地温泉、白骨温泉、ライチョウ、カモシカ）(2015)

・上信越高原国立公園（志賀高原、谷川岳、本白根山、白砂山、岩菅山、四阿山、浅間山、烏帽子岳、苗場山）

・白山国立公園（白山、経ヶ岳、姥ヶ滝、百四丈滝、不動滝、イヌワシ、ツキノワグマ、ニホンカモシカ、クロユリ、ブナ、ニッコウキスゲ、ゴゼンタチバナ、ハクサンコザクラ）

・妙高戸隠連山国立公園（妙高山、焼山、黒姫山、戸隠山、飯縄山、雨飾山、飯綱高原、野尻湖、赤倉温泉、小谷温泉、雨飾温泉）

●近畿地方

【世界遺産】

・古都京都の文化財（賀茂別雷神社（上賀茂神社）、賀茂御祖神社（下鴨神社）、教王護国寺（東寺）、清水寺(2015)、延暦寺（比叡山）(2015)、醍醐寺、仁和寺、平等院、宇治上神社、高山寺、西芳寺（別称・苔寺）(2015)、天龍寺、鹿苑寺（金閣寺）(2015)、慈照寺（銀閣寺）(2015)、龍安寺（石庭が有名）、西本願寺（本願寺）、二条城(2015)）(2015)(2017)

・古都奈良の文化財（東大寺、正倉院、興福寺、春日大社、元興寺、薬師寺、唐招提寺、平城宮跡、春日山原始林）

・法隆寺地域の仏教建造物（南大門、金堂、五重塔、夢殿、伝法堂、回廊、釈迦三尊像、百済観音像、玉虫厨子）

・紀伊山地の霊場と参詣道(熊野古道)（熊野三山、熊野那智大社、熊野本宮大社、熊野速玉大社、高野山、吉野大峯、熊野参詣道、高野参詣道、大峯奥駈道）

・姫路城(姫路城のうち、天守閣等を含む中曲輪より内側が構成資産。姫路城は白鷺城とも呼ばれる。国宝四城：姫路城・松本城・彦根城・犬山城)

【広域観光周遊ルート】

・美の伝説
①KANSAI～世界遺産と絶景伝統と自然の美の競演～（清水寺、彦根城、三方五湖、天橋立(2016)、鳥取砂丘、山陰海岸ジオパーク、三朝温泉、鳴門渦潮、明石海峡大橋・、姫路城、姫路フルーツパーク、神戸夜景）
②KANSAI～日本の精神文化の聖地美の伝承～（高野山、那智の滝(2017)、橋杭岩、東大寺、法隆寺、石舞台古墳、大阪城、仁徳天皇陵古墳）

【国立公園】

・吉野熊野国立公園（吉野山、大峰山、大台ヶ原山、熊野川、北山川、潮岬、那智山、那智滝、金峯山寺、熊野三山、南紀勝浦温泉、南紀白浜温泉）

・山陰海岸国立公園（鳥取砂丘：日本最大の砂丘、国の天然記念物）、浦富海岸（国の名勝、日本の白砂青松 100 選、日本の渚 100 選）、城崎温泉(2016)、但馬海岸、玄武洞公園（国の天然記念物））

・瀬戸内海国立公園（六甲山、高崎山、蓬莱峡、寒霞渓、鳴門海峡、淡路島、小豆島、五色台、姫島）

●中国地方

【世界遺産】

・石見銀山遺跡とその文化的景観(銀鉱山跡と鉱山町、石見銀山街道、港と港町、温泉(玉造温泉、温泉津温泉)、宍道湖、松江城、出雲大社、県立しまね海洋館アクアス)(2016)

・原爆ドーム(爆心地付近に残った唯一の建物、広島平和記念公園、ユネスコの「負の世界遺産」に登録されている。)(2018)

・厳島神社(構成資産:厳島神社(2018)とその周囲の海及び背後の弥山原始林(天然記念物)。「安芸の宮島」と呼ばれ日本三景の一つ。厳島神社の平舞台は、四天王寺(大阪市)の石舞台、住吉大社(大阪市)の石舞台と共に「日本三舞台」の一つ。お土産としては、「もみじまんじゅう」や「しゃもじ」。平家納経)

【広域観光周遊ルート】

・せとうち・海の道
①新ゴールデンルート～新たな西日本発見の旅(①多島美②姫路城③栗林公園(2016)④倉敷美観地区⑥錦帯橋(日本三名橋の一つ)⑦しまなみ海道(2015)⑧祖谷渓)
②歴史と芸術に出会う美のルート(厳島神社、栗林公園、大山祇神社、金刀比羅宮、現代アートの聖地として有名な直島、後楽園、イサム・ノグチ庭園美術館)
③空と島と海に溶け込むサイクリングルート(①多島美②オリーブ公園・サイクリング③あわじ花さじき・サイクリング④しまなみ海道)

・縁(えん)の道～山陰～
①日本の原風景(世界遺産・日本遺産見聞録)(①太皷谷稲成神社②石見銀山③出雲大社④和菓子と抹茶(松江市)日本の三大和菓子処⑤たたら製鉄⑦大山⑧三朝温泉)
②ジオパーク&ナショナルパーク・アクティビティ(①三瓶山②ローソク島③三朝温泉④シャワークライミンク⑤大山牛乳ソフトクリーム⑥ダウンヒルサイクル(大山町)⑦サンドボード⑧シーカヤック)

【国立公園】

・大山隠岐国立公園(大山、三瓶山、蒜山、国賀海岸、白島海岸、地蔵崎、加賀の潜戸、日御碕)

●四国地方

【世界遺産】

・明治日本の産業革命遺産 製鉄・製鋼、造船、石炭産業(萩反射炉、松下村塾。韮山反射炉、三菱長崎造船所、端島炭鉱(軍艦島)、旧グラバー住宅(2017)、三池炭鉱・三池港、官営八幡製鐵所)

【広域観光周遊ルート】

・スピリチュアルな島～四国遍路～(2016)
①四国スピリチュアル・コース(①第1番札所霊山寺②小豆島八十八ヶ所霊場③さぬきうどん作り体験④藍染体験⑤かつおのタタキ⑥足摺岬⑦外泊石垣の里⑧道後温泉本館)
②四国鉄道クラシカル・コース(①丸亀城②金刀比羅宮③かずら橋④祖谷そば打ち体験⑤紙すき体験⑥四万十川遊覧船(2016)⑦鯛めし⑧砥部焼体験)
③四国大自然ドライブ・コース(①鳴門うず潮②日和佐うみがめ博物館③御厨人窟④モネの庭⑤しまなみ海道⑥マイントピア別子⑦寒霞渓(日本三大渓谷美)⑧エンジェルロード)

【国立公園】

・足摺宇和海国立公園(足摺岬、宇和海、滑床渓谷、篠山、法華津峠、大堂海岸、柏島)

●九州地方

【世界遺産】

・屋久島(縄文杉、ウィルソン株、紀元杉、千尋の滝、いなか浜、大川の滝、屋久島灯台、横河(よっこ)渓谷。世界遺産への登録は 1993 年で、姫路城・法隆寺・白神山地とともに日本で最初に登録された。)

【広域観光周遊ルート】

・温泉アイランド九州広域観光周遊ルート(2016)
①鉄道・バスで廻る九州の魅力満喫コース(①嬉野温泉(日本三大美肌の湯)③黒豚しゃぶしゃぶ④クルスの海⑤地獄めぐり⑥太宰府天満宮(2018)⑦天神地下街)
②九州の歴史・自然をレンタカーで廻るコース(①太宰府天満宮②有田焼体験③平和公園④熊本城⑤えびの高原(2016)⑥霧島神宮(2016)⑦杵築市城下町)
③火山の島・九州一周コース(①桜島(2016)②えびの高原(2016)③高千穂峡④地獄めぐり⑤阿蘇草千里⑥雲仙温泉(2016)⑦祐徳稲荷神社)

【国立公園】

・雲仙天草国立公園(雲仙地域:雲仙岳、仁田峠、雲仙温泉、地獄(古湯・新湯・小地獄)、天草地域:海域公園、羊角湾、富岡半島(富岡城))

・霧島錦江湾国立公園(霧島山、桜島(2016)、開聞岳、韓国岳、えびの高原(2016)、佐多岬(2016)、長崎鼻(2016)、池田湖、鰻池)

・阿蘇くじゅう国立公園(阿蘇山阿蘇五岳(中岳・高岳・根子岳・杵島岳・烏帽子岳)、九重山、久住高原、高崎山(高崎山自然動物園)

・西海国立公園(九十九島、西海パールシーリゾート、ポットホール(小値賀町斑島)、福江海中公園、大瀬埼灯台、阿値賀島(国の天然記念物))

・屋久島国立公園(宮之浦岳、屋久島三岳、千尋の滝、口永良部島)(2018)

・奄美群島国立公園(奄美大島、加計呂麻島、徳之島、沖永良部島、与論島、百合ヶ浜)

●沖縄

【世界遺産】
・琉球王国のグスク及び関連遺産群(首里城跡(しゅりじょうあと)、今帰仁城跡(なきじんじょうあと)、座喜味城跡(ざきみじょうあと)、勝連城跡(かつれんじょうあと)、中城城跡(なかぐすくじょうあと)、園比屋武御嶽石門(そのひゃんうたきいしもん)、玉陵(たまうどぅん)、識名園(しきなえん)、斎場御嶽(せーふぁうたき))

【広域観光周遊ルート】
・Be.Okinawa 琉球列島周遊ルート
①Gateway to Okinawa Lifestyle & Culture(人々の暮らしと琉球文化)(①沖縄県立博物館・美術館②壷屋焼体験③海ぶどう(久米島)④チュラフクギ(久米島)⑤久米島紬の里ユイマール館⑥泡盛⑦ずぅーずぅーぱるんかい(郷土料理体験)(宮古島)⑧伊良部大橋⑨那覇まちまーい(那覇のまち歩きガイド))
②Secrets of Okinawa History(沖縄の歴史と琉球王国の誕生秘話)(①斎場御嶽(沖縄最高の聖地)②尚円王御庭公園(伊是名島)③クマヤ洞窟(伊平屋島)④宮良殿内⑤唐人墓⑥張水御嶽(宮古島)⑦首里城⑧玉陵(第二尚氏王統歴代の巨大な墓陵))
③Wild Adventure of Okinawa Archipelago(五感で感じる沖縄の自然)(①古座間味ビーチ(座間味島)②ニシ浜ビーチ(阿嘉島)③阿波連ビーチ(渡嘉敷島)④川平湾(石垣島)(2018)⑤石垣やいま村(石垣島)(2018)⑥重要伝統的構造物群保存地区(竹富島)(2018)⑦西表島のマングローブ群(2018)⑧海底遺跡(与那国島)

【国立公園】

・西表石垣国立公園(沖縄県西表島(2018)、石垣島(2018)、イリオモテヤマネコ、カンムリワシ、ラムサール条約登録湿地である名蔵アンパル)

・慶良間諸島国立公園(慶良間諸島、座間味島、渡嘉敷島、"ケラマブルー"と呼ばれる透明度の高い海やサンゴ礁、ザトウクジラの繁殖地)

・やんばる国立公園(やんばる 3 村(国頭村、大宜味村、東村)与那覇岳、ヤンバルクイナ、オキナワトゲネズミ、ノグチゲラ)

日本の世界遺産

日本の世界遺産は、近年では、2013 年、2015 年、2016 年、2017 年、2018 年に出題されている。
特に、原爆ドームが、2013 年、2018 年に、また、明治日本の産業革命遺産製鉄・製鋼、造船、石炭産業が、2017 年、2018 年に連続して出題されているので注意が必要である。
各年度の問題を見て、＜出題のされ方＞を理解した上で準備をすることが重要である。

●世界遺産とは

世界遺産(World Heritage)とは、1972 年のユネスコ総会で採択された「世界の文化遺産及び自然遺産の保護に関する条約」(世界遺産条約)に基づいて世界遺産リストに登録された、遺跡、景観、自然など、人類が共有すべき「顕著な普遍的価値」をもつ物件のことで、移動が不可能な不動産やそれに準ずるものが対象となっている。
日本では、文化遺産 18 件、自然遺産 4 件の合計 22 件が登録されている。(2019 年 7 月 5 日現在)

●文化遺産(Cultural Heritage)(計 18 件)

(1)法隆寺地域の仏教建造物(奈良県)(1993 年登録)
(2)姫路城(兵庫県)(1993 年登録)
(3)古都京都の文化財(京都府、滋賀県)(1994 年登録)(2015)
(4)白川郷・五箇山の合掌造り集落(岐阜県、富山県)(1995 年登録)
(5)★原爆ドーム(広島県)(1996 年登録)(2013)(2018)
(6)厳島神社(広島県)(1996 年登録)(2018)
(7)古都奈良の文化財(奈良県)(1998 年登録)
(8)日光の社寺(栃木県)(1999 年登録)(2016)
(9)琉球王国のグスク及び関連遺産群(沖縄県)(2000 年登録)(2017)
(10)紀伊山地の霊場と参詣道(奈良県、和歌山県、三重県)(2004 年登録)
(11)石見銀山遺跡とその文化的景観(島根県)(2007 年登録)(2016)
(12)平泉－仏国土(浄土)を表す建築・庭園及び考古学的遺跡群(岩手県)(2011 年)
(13)富士山―信仰の対象と芸術の源泉(山梨県、静岡県)(2013 年)(2015)
(14)富岡製糸場と絹産業遺産群(群馬県)(2014 年登録)
(15)★明治日本の産業革命遺産製鉄・製鋼、造船、石炭産業(2015 年登録)(2017)(2018)
(16)ル・コルビュジエの建築作品－近代建築への顕著な貢献(国立西洋美術館＝東京都)(2016 年登録)
(17)★『神宿る島』宗像・沖ノ島と関連遺産群(2017 年登録)
(18)★「長崎と天草地方の潜伏キリシタン関連遺産」(長崎、熊本両県)(2018 年 7 月登録)

●自然遺産(Natural Heritage)(計 4 件)

(1)屋久島(鹿児島県)(1993 年登録)(2015)
(2)白神山地(青森県、秋田県)(1993 年登録)(2015)
(3)知床(北海道)(2005 年登録)(2015)
(4)小笠原諸島(東京都)(2011 年登録)(2015)(2016)

※覚え方⇒(小笠原君が、屋久杉の前で、白装束で、『知床旅情』を歌った。)
※「日本の世界遺産」詳しくは、下記をご覧ください。
http://nihon-sekaiisan.com/

●百舌鳥・古市古墳群

「百舌鳥・古市古墳群」(大阪府)が、2019 年 6 月 30 日からアゼルバイジャンで開催される世界遺産委員会で登録が決定される見通しである。
百舌鳥・古市古墳群は、古墳時代の最盛期(4世紀後半から5世紀後半)にかけて築造された、古代日本列島の王たちの墓群であり、古代日本の政治文化の中心地のひとつであり、大陸に向かう航路の出発点であった大阪平野に位置している。墳丘の長さおよそ500mにおよぶものをはじめとする、世界でも独特な鍵穴型の前方後円墳が多数集まり、これらと多数の中小墳墓が密集して群を形成している。
本資産の古墳には、前方後円墳、帆立貝形墳、円墳、方墳という4種類があり、これらの型式は、日本列島各地の古墳の規範となった標準化されたものだった。世界各地の多くの墳墓の墳丘が棺や室に盛土・積

石しただけのものであるのに対して、古墳の墳丘は葬送儀礼の舞台として幾何学的なデザインを施し、埴輪などの土製品で飾り立てた建築的な傑作である。本古墳群は、古代中央集権国家が成立する直前の時代にあって、激動する東アジア情勢への対応として展開した、墳墓によって権力を象徴した日本列島の人々の歴史を物語る顕著な証左でもある。本資産は，古墳時代において，社会階層の違いを示唆する高度に体系だった葬送文化が存在し、古墳築造が社会の秩序を表現していたことを物語っている。また本資産は、各地の古墳群が形づくる階層構造の頂点に位置し、列島一円の古墳群の群構成の規範となったものであった。

大仙陵古墳（だいせんりょうこふん）または大山古墳（だいせんこふん）

●天皇を政治利用する意図から創設＝捏造された「天皇陵」

古墳群のうち「天皇陵」とされたものは、古代からそのように伝えられてきたわけではなく、江戸末期から明治にかけ、幕府や維新政府が、万世一系として天皇を政治利用する意図から創設＝捏造されたものであった。古代から中世までの天皇の「陵墓」がどこにあるかは、江戸時代になると全く分からなくなっていたのであり、そもそも、古墳に被葬者名は残されていない。確たる証拠なしに、神武天皇から連なる万世一系の天皇の墓とみなす陵墓整備が、水戸藩による幕府への進言、天皇の権威を背景に成立した明治維新政府の手で進められたというわけです。

●発掘による「不都合な真実」を恐れる宮内庁＝政府与党

「陵墓」に指定されている古墳のうち、天皇陵は 41 基、皇后陵は 11 基、皇太子などの墓は 34 基であり、天皇、皇后、皇子等を合葬したものを差し引くと合計 85 基あるが、天皇家の墓とされる「陵墓」は「尊崇の対象」であるとして、宮内庁は「静安と尊厳の保持がもっとも重要だ」という立場から、学術調査を含む立ち入りを厳しく規制してきた。これは、発掘により、「仁徳天皇陵」「応神天皇陵」などと指定された根拠が崩れることを恐れているだけの理由である。宮内庁の担当者は、「元禄年間に朝廷が仁徳天皇の墓と指定しました。宮内庁もこの見解を支持しています。考古学者の間で諸説出ていることは認識していますが、墓碑銘などの 100％確実な『仁徳天皇陵ではない』という証拠が出てこない限りは、指定を変える予定はありません」と、江戸時代の認定を覆すつもりはないようだ。墳丘内の発掘調査で真相が明らかになることを期待する声は大きいが、今のところ墳丘内を発掘調査する予定はない。

●処刑を免れた天皇は、「象徴天皇制」のもと、新たな国民支配の道具として政治利用されてきた

第二次世界大戦後、連合国のイギリス、オーストラリア、ソ連、中華民国は、昭和天皇の戦争責任を追及し、「昭和天皇は死刑にすべき」と主張していた。アメリカ国内でも、戦争終結直前の1945年6月29日に行われた世論調査によれば、「昭和天皇を処刑するべき」とする意見が33％を占めていた。

しかし、マッカーサーは、「天皇は処刑せず、生かしておいて、戦後の日本国民支配のために利用すべきである。敗戦したとは言え、天皇には、少なくとも、4個師団の軍隊に相当する政治力はある。利用しない手はないだろう。」との政治的判断で、大方の反対を押し切って、天皇をあえて処刑しないことにした。

マッカーサーは、「堀端（ほりばた）天皇」と呼ばれるほど、戦後日本の絶対権力者であったが、彼は、回顧録に「私は日本国民に対して事実上無制限の権力を持っていた。歴史上いかなる植民地総督も征服者も総司令官も、私ほどの権力を持ったことはない。私の権力は至上だった。。。」と書いている。

処刑を免れた天皇は、日本国と日本国民統合の「象徴」とする「象徴天皇制」のもと、時の政権（支配者層）におもちゃのように政治利用されてきたが、最近では、安倍政権によるNHKをはじめとするマスメディア総動員により演出された「令和改元フィーバー」が記憶に新しい。

国民支配の道具として天皇を利用したい支配者層にとって、「陵墓」発掘によって「不都合な真実」が出てくることは「絶対にあってはならない」というわけである。

「神宿る島」宗像・沖ノ島と関連遺産群（2017年7月に世界遺産に登録）

●ウィキペディアの説明

宗像三女神（むなかたさんじょしん）は、宗像大社（福岡県宗像市）を総本宮として、日本全国各地に祀られている三柱（みはしら）の女神の総称である。記紀（古事記、日本書紀のこと）に於いてアマテラスとスサノオの誓約（うけい）で生まれた女神らで宗像大神（むなかたのおおかみ）、道主貴（みちぬしのむち）とも呼ばれ、あらゆる「道」の最高神として航海の安全や交通安全などを祈願する神様として崇敬を集めている。

※神は柱に降りて来ると考えられるので、神のことを柱で数えます。三柱とは、三つの神様のこと。

●宗像三女神の別称は「道主貴」

宗像三女神は、「道主貴（みちぬしのむち）」という別称を持っています。
「貴（むち）」という尊称は、最も高貴な神にのみ贈られるもので、「貴」が付く別称を持つのは、宗像三女神と、伊勢神宮の大日靈貴（おおひるめのむち／天照大御神）、出雲大社の大己貴（おおなむち／大国主命）のみとなっています。このことから、宗像大社が、伊勢神宮や出雲大社と並んで、古くから、皇室や人々から厚く信仰されていたことがわかります。

●誓約（うけい）とは

誓約（うけい）とは、お互いに譲れないことがあった時に、どちらが正しいかを占うことで、賭けに勝った方が正しいことになります。
アマテラスとスサノオは、生んだ神の性別でどちらが正しいかを占うことにしました。アマテラスはスサノオの剣を受け取ると、バキボキと素手で 3 つに折りにし、井戸水で清め、口に含んでバリボリと噛み砕いた。そして『ふーっ』と吹き出すと、霧のような吐息の中から三人の女神が生まれてきました。これが、宗像三女神と呼ばれる航海の神々です。

●「宗像・沖ノ島と関連遺産群」世界遺産推進会議の説明（1）

日本列島と朝鮮半島を結ぶ海域に荘厳な姿を現す沖ノ島。人々は古来、その島の神を敬い、畏れ、航海安全の祈りを捧げてきました。国宝に指定された神への奉献品はおよそ八万点。
立ち入りさえも許さない厳格な禁忌（きんき）は、五百年間にも及ぶ古代祭祀（さいし）の跡を千年以上手つかずで守り伝えてきました。
沖ノ島への信仰を起源とする宗像三女神（むなかたさんじょしん）への信仰が受け継がれてきた沖ノ島、大島、九州本土の宗像大社三宮（むなかたたいしゃ）、遥か彼方に沖ノ島を望む大島の沖津宮遙拝所（おきつみやようはいじょ）、信仰の伝統を築いた人々が眠る新原・奴山古墳群（しんばる・ぬやまこふんぐん）。

●「宗像・沖ノ島と関連遺産群」世界遺産推進会議の説明（2）

世界遺産「神宿る島」宗像・沖ノ島と関連遺産群とは？
九州本土から約60㎞離れた沖ノ島と、大島および九州本土に位置するその関連遺産群は、古代から現在まで発展し継承されてきた、神聖な島を崇拝する文化的伝統の顕著な物証です。
沖ノ島には、日本列島、朝鮮半島および中国大陸の諸国間の活発な交流に伴い、4世紀後半から9世紀末まで続いた、航海安全に関わる古代祭祀遺跡が残されています。
古代豪族の宗像氏は、沖ノ島に宿る神への信仰から、宗像三女神信仰を育みました。
沖ノ島は三女神をまつる宗像大社の一部として、島にまつわる禁忌や遥拝の伝統とともに、今日まで神聖な存在として継承されてきました。

●「宗像・沖ノ島と関連遺産群」世界遺産推進会議の説明（3）

『古事記』『日本書紀』によれば、三女神は天照大神（あまてらすおおみかみ）と素戔嗚尊（すさのおのみこと）の誓約（うけい）のもとに誕生し、天照大神の神勅（しんちょく）によって、大陸との交通の要路にあたる「海北道中（かいほくどうちゅう）」（宗像より朝鮮半島に向かう古代海路）に降臨し、以降、国家の守護神として崇敬されています。
また、「日本書紀」には、宗像三女神が「道主貴（みちぬしのむち）」、すなわち国民のあらゆる道をお導きに

なる最も尊い神として崇敬を受けていたことが記されています。「貴」とは最も高貴な神に贈られる尊称です。道主貴（※宗像三女神）以外には、伊勢神宮の大日靈貴(おおひるめのむち)（※天照大神）、出雲大社の大己貴(おおなむち)（※大国主命）のみですので、宗像三女神が皇室をはじめ人々からいかに篤い崇敬を受けられていたかがうかがえます。

●宗像三女神
宗像大社沖津宮（おきつみや・おきつぐう）（沖ノ島）：（長女神）田心姫神（たごりひめのかみ）
宗像大社中津宮（なかつみや・なかつぐう）（大島）：（次女神）湍津姫神（たぎつひめのかみ）
宗像大社辺津宮（へつみや・へつぐう）（九州本土）：（三女神）市杵島姫神（いちきしまひめのかみ）

日本の八百万の神々の中でも唯一の三姉妹の女神で、いずれも美人として知られています。
田心姫は「多紀理姫（たぎりひめ）」、湍津姫は「多岐都姫（たぎつひめ）」ともいい、これらは「潮流が速く激しい様子」を表す言葉です。また、「市杵島」は、「神霊を斎（いつ）き祀る島」、つまり「神を祀り神に仕える島」という意味で、広島県・宮島の厳島神社の社名の由来になったとも言われています。宗像三女神は、人々に恵みをもたらす一方で、危険な一面も持つ海の神秘的な力が神格化されたもので、神霊を鎮め、航海の安全や豊漁を祈願するために全国に祀られました。宗像三女神を祀る神社は、全国に 7,000 余社、あるいは8,500社あるとも言われ、これは日本で5番目という多さです。宗像大社は、これらの神社の総本社となっています。

三カ所の祭祀遺跡

●「宗像・沖ノ島と関連遺産群」世界遺産推進会議のホームページ
http://www.okinoshima-heritage.jp/

●宗像大社のホームページ
http://www.munakata-taisha.or.jp/index.html

沖ノ島

宗像大社沖津宮（沖ノ島）

宗像大社中津宮大社（大島）

宗像大社辺津宮社殿（九州本土）

宗像大社沖津宮遥拝所(大島の北側)

古代宗像氏の墳墓群（新原・奴山古墳群）（九州本土）

宗像大社（沖津宮・中津宮・辺津宮）の歴史

●古墳時代（4 世紀（300 年代）後半）

倭（ヤマト王権）と百済（朝鮮半島）との交易が活発になり、沖ノ島の巨岩群の周辺で、航海の安全や交流の成就を祈る大規模な祭祀が行われるようになる。

巨岩の上で始まった祭祀は、初めは岩と岩とが重なる隙間に奉献品を並べて祈祷をするスタイルでしたが、5 世紀（400 年代中頃）には、大石を石で四角く囲って祭壇を造るようになりました。

さらに 5 世紀後半になると、祭祀の会場は巨岩の上から屋根の庇（ひさし）のように突き出した巨岩の陰へと移りました。

●飛鳥時代（7 世紀（600 年代）後半）

沖ノ島で行われていた祭祀が、大島の御嶽山（みたけさん／224m）（御嶽山祭祀遺跡）や九州本土の宗像山（下高宮祭祀遺跡）でも営まれるようになる。この頃になると、岩陰で行われていた沖ノ島の祭祀は、半分は露天に出て行われるようになります。やがて 8 世紀（700 年代）に入ると、巨岩群から少し離れた平坦な露

天で祭祀が行われるようになり、この形の祭祀は 9 世紀（800 年代）末頃までの約 200 年間続きました。

●奈良時代（8 世紀（700 年代）前半）

この頃までに、沖津宮・中津宮（御嶽山祭祀遺跡）・辺津宮（下高宮祭祀遺跡）に宗像三女神が祀られる。
それまで自然崇拝だった信仰に、宗像三女神という人格神への信仰も重なり、両者が併存しながら、後世の宗像地域の信仰の基盤となっていきました。（宗像三女神については後述）

●平安時代

・9 世紀（800 年代）

豪族・宗像氏が神主として神社に奉仕することになる。日本と唐や新羅との間の公的な交流がなくなり、沖津宮・中津宮・辺津宮でそれまで行われていた古代祭祀も下火になる。遣唐使が廃止され、京の都では「国風文化」と呼ばれる文化が花開いた頃、宗像地域の古代からの祭祀は一旦の終わりを告げます。しかし、沖ノ島はその後も「神宿る島」として崇拝され、古代祭祀遺跡はほぼ手付かずの状態で現代に受け継がれました。

・12 世紀（1100 年代）

平安時代末期にあたる 12 世紀頃までに、九州本土の下高宮祭祀遺跡がある丘陵の麓に、辺津宮の社殿が造営される。

●室町時代～安土桃山時代

・16 世紀（1500 年代）

16 世紀までに、大島の御嶽山祭祀遺跡がある御嶽山の麓に、中津宮の社殿が造営される。
中津宮の社殿は御嶽山山頂と参道で結ばれ、一体となっています。

・1578 年（天正六年）

前年に焼失した辺津宮本殿が、大宮司・宗像氏貞（うじさだ）により再建される。

・1590 年（天正十八年）

辺津宮拝殿が筑前領主・小早川隆景により再建される。
16 世紀に再建された辺津宮の本殿と拝殿は現在まで残り、共に国の重要文化財に指定されています。

●江戸時代

・17 世紀（1600 年代）半ば

この頃までに、沖ノ島の古代祭祀の祭場だった巨岩群の間に沖津宮の社殿が造営され、島全体が沖津宮の境内と定められる。

・1675 年（延宝三年）

第三代福岡藩主・黒田光之（みつゆき）により、地域にある宗像大社の末社が辺津宮の境内に集められ、祀られる。江戸時代には、福岡藩主・黒田氏により、辺津宮の社殿の造営や修理が度々行われました。

・18 世紀（1700 年代）半ば

この頃までに、大島の北岸に沖津宮遙拝所が設けられる。
遙拝所は他にもいくつか存在したようで、例えば江戸時代には、九州本土の江口浜に沖津宮と中津宮の遙拝所があり、福岡藩主が辺津宮を参拝した後は、ここから沖津宮と中津宮を遙拝したと伝わっています。

●明治時代

1907 年（明治 40 年）
辺津宮の拝殿・本殿が重要文化財に指定される。

●昭和時代

・1933 年（昭和 8 年）

沖津宮遙拝所の現在の建物が完成する。

・戦後

第二次世界大戦後、荒廃していた宗像神社が、宗像市出身の実業家・出光佐三（いでみつさぞう）の寄進によって整備される。

・1963 年（昭和 38 年）

宗像大社辺津宮で、日本で初めての車用交通安全お守りの授与が始まる。

●戦後の復興に尽力した出光佐三

出光佐三は、出光興産の創業者で、宗像大社の復興のために結成された「宗像神社復興期成会」（現・宗像大社復興期成会）での初代会長として中心的な役割を果たした人物です。境内の整備だけでなく、神社史の編纂や古代祭祀遺跡の学術調査などについても尽力しました。その功績が大きかったので、境内のどこかに名前を残させてほしいという申し出が神社側からあったものの、出光氏本人は「畏れ多いので」ということで断り続けたという話が伝わっています。

「長崎と天草地方の潜伏キリシタン関連遺産」（長崎、熊本県）（2018年7月に世界遺産に登録）

長崎と天草地方の潜伏キリシタン関連遺産は、江戸時代250年間の禁教令下における厳しい弾圧の中、宣教師不在でありながら、信者のみで信仰を守り通しながらも、孤立せずに一般社会との関わりも持ちつつ、共同体を存続させるための生き方・暮らし方を創造したことが評価され、2018年7月に、ユネスコの世界遺産に登録されました。

登録を受けて、バチカン（ローマ教皇庁）は、「聖霊が宣教師の説教を通じて灯した火は、カトリック共同体の祈りの生活を隠れて維持した平信徒の中に息づいてきた」とするフランシスコ教皇の談話を発表しました。

この他、潜伏キリシタンの末裔である前田万葉枢機卿が「弾圧した者とされた者、それらの子孫お互いに敬意をはらうことで真の平和が訪れる」、カトリック長崎大司教区の高見三明大司教は「250年間、キリスト教は日本で迫害されたが、そのことで多くの日本人がキリスト教に関心を持ち始めており、潜伏キリシタン遺産を訪ねることで日本のキリスト教史を再発見することになる。歴史を覚えておくのに建物は重要ではない。その背後にある物語、それが普遍的な価値を持つ」とコメントしました。

大浦天主堂

﨑津天主堂-河浦エリア

広域観光周遊ルート

広域観光周遊ルートは、2015年、2016年、2017年と3年連続で出題されている。各年度の問題を見て、＜出題のされ方＞を理解した上で準備をすることが重要である。

●日本のてっぺん。きた北海道ルート

(1)オトンルイ風車群(幌延町)(全長3.1kmにも及ぶ壮観な風車群)
(2)サロベツ原生花園(豊富町)(100種類以上の高山植物が咲き利尻山も眺望)
(3)宗谷丘陵(稚内市)(稚内三大景勝地の一つ白い道のフットパス)
(4)上野ファーム(旭川市)(北海道ガーデン街道の庭園の一つ。北国ならではの花々が開花する庭園)

●アジアの宝悠久の自然美への道ひがし北・海・道(2016)

(1)Explore the Wonderland in summer(①ファーム富田(中富良野町)②四季彩の丘(美瑛町)③十勝千年の森(清水町)④芝桜(大空町東藻琴)⑤メルヘンの丘(女満別町)⑥釧路川カヌー体験⑦摩周湖(弟子屈町)⑧ホエールウォッチング⑨北海道ガーデン街道(2016)
(2)Explore the Wonderland in winter(①旭山動物園(旭川市)②層雲峡温泉氷瀑まつり(上川町)③富良野スキー場(富良野市)⑤フロストフラワー(釧路市阿寒湖)⑥SL 冬の湿原号(釧路市ほか)⑦ガリンコ号Ⅱ(紋別市)⑧流氷ウォーク(網走市・斜里町)④然別湖コタン(鹿追町))

●日本の奥の院・東北探訪ルート(2017)

(1)蔵王温泉(山形県山形市)(約 1,900 年の歴史がある蔵王温泉の、一度に 200 人が入れる大露天風呂。)
(2)山寺(山形県山形市)(約 1,100 年前に開かれたお寺。山門から奥の院までの石段は 800 段を超える。)
(3)日本三景・松島(ミシュラン三ツ星)(宮城県松島町)(約 900 年もの昔から偉人に親しまれてきた日本三景。海に浮かぶ多島美を楽しめる。)
(4)平泉(世界遺産)(岩手県平泉町)(約 900 年前に建てられた中尊寺金色堂には、ミイラ化した亡骸が納められている。)
(5)猊鼻渓舟下り(岩手県一関市)(船頭の歌を聴きながら絶景舟下りを楽しむ。)
(6)角館(秋田県仙北市)(約 400 年前の町並みをそのまま残し、四季折々に伝統的景観が楽しめる。)
(7)白神山地(世界遺産)(青森県西目屋村ほか)(世界最大級のブナの原生が残る世界遺産。鮮やかな自然や滝を楽しめる。)
(8)羽黒山(ミシュラン三ツ星)(山形県鶴岡市)(約 1,400 年前に開かれた修験の山。山頂付近の五重の塔は国宝に指定。出羽三山のひとつ。)

●広域関東周遊ルート(「東京圏大回廊」)

(1)自然大回廊(太平洋)コース(日光杉並木、偕楽園、国営ひたち海浜、鋸山地獄のぞき、スパリゾートハワイアンズ、五色沼湖沼群、大洗磯前神社)
(2)自然大回廊(日本海)コース(上高地、昇仙峡、糸魚川海岸、スノーモンキー、いもり池、たらい舟、レストランかまくら村)
(3)江戸文化回廊コース(日光東照宮唐門、善光寺、草津温泉、伊香保温泉、桐生の着物着付け体験、益子焼陶芸体験、蔵造りの街並み)

●昇龍道(2016)

(1)Dragon コース(下呂温泉、和倉温泉、飛騨酒蔵、一位一刀彫、関鍛冶伝承館、金箔工芸、犬山祭)
(2)Nostalgic コース(伊勢神宮、松本城、熊野古道、高山、白川郷、妻籠宿、五箇山、志賀高原)
(3)Great Nature コース(黒部峡谷、黒部ダム、雪の大谷、琵琶湖、養老の滝、東尋坊、福井県立恐竜博物館)
(4)Ukiyo-e コース(富士山、名古屋城、関ヶ原古戦場、岡崎城、旧東海道宿場町、東海道広重美術館、トヨタ自動車工場・トヨタ館)

●美の伝説

(1)KANSAI～世界遺産と絶景伝統と自然の美の競演～(清水寺、彦根城、三方五湖、天橋立(2016)、鳥取砂丘、山陰海岸ジオパーク、三朝温泉、鳴門渦潮、明石海峡大橋、姫路城、姫路フルーツパーク、神戸夜景)

(2)KANSAI～日本の精神文化の聖地美の伝承～(高野山、那智の滝、橋杭岩、東大寺、法隆寺、石舞台古墳、大阪城、仁徳天皇陵古墳)

●せとうち・海の道

(1)新ゴールデンルート～新たな西日本発見の旅(①多島美②姫路城③栗林公園(2016)④倉敷美観地区⑥錦帯橋(日本三名橋の一つ)⑦しまなみ海道(2015)⑧祖谷渓)

(2)歴史と芸術に出会う美のルート(厳島神社、栗林公園、大山祇神社、金刀比羅宮、現代アートの聖地として有名な直島、後楽園、イサム・ノグチ庭園美術館)

(3)空と島と海に溶け込むサイクリングルート(①多島美②オリーブ公園・サイクリング③あわじ花さじき・サイクリング④しまなみ海道)

●縁(えん)の道～山陰～(2017)

(1)日本の原風景(世界遺産・日本遺産見聞録)(①太皷谷稲成神社②石見銀山③出雲大社④和菓子と抹茶(松江市)日本の三大和菓子処⑤たたら製鉄⑦大山⑧三朝温泉)

(2)ジオパーク＆ナショナルパーク・アクティビティ(①三瓶山②ローソク島③三朝温泉④シャワークライミング⑤大山牛乳ソフトクリーム⑥ダウンヒルサイクル(大山町)⑦サンドボード⑧シーカヤック)

●スピリチュアルな島～四国遍路～(2016)

(1)四国スピリチュアル・コース(①第1番札所霊山寺②小豆島八十八ヶ所霊場③さぬきうどん作り体験④藍染体験⑤かつおのタタキ⑥足摺岬⑦外泊石垣の里⑧道後温泉本館)

(2)四国鉄道クラシカル・コース(①丸亀城②金刀比羅宮(2017)③かずら橋④祖谷そば打ち体験⑤紙すき体験⑥四万十川遊覧船(2016)⑦鯛めし⑧砥部焼体験)

(3)四国大自然ドライブ・コース(①鳴門うず潮②日和佐うみがめ博物館③御厨人窟④モネの庭⑤しまなみ海道⑥マイントピア別子⑦寒霞渓(日本三大渓谷美)⑧エンジェルロード)

●温泉アイランド九州広域観光周遊ルート(2016)

(1)鉄道・バスで廻る九州の魅力満喫コース(①嬉野温泉(日本三大美肌の湯)③黒豚しゃぶしゃぶ④クルスの海⑤地獄めぐり⑥太宰府天満宮⑦天神地下街)

(2)九州の歴史・自然をレンタカーで廻るコース(①太宰府天満宮②有田焼体験③平和公園④熊本城⑤えびの高原(2016)⑥霧島神宮(2016)⑦杵築市城下町)

(3)火山の島・九州一周コース(①桜島(2016)②えびの高原(2016)③高千穂峡④地獄めぐり⑤阿蘇草千里⑥雲仙温泉(2016)⑦祐徳稲荷神社)

●BeOkinawa 琉球列島周遊ルート

(1)Gateway to Okinawa Lifestyle & Culture(人々の暮らしと琉球文化)(①沖縄県立博物館・美術館②壷屋焼体験③海ぶどう(久米島)④チュラフクギ(久米島)⑤久米島紬の里ユイマール館⑥泡盛⑦ずぅーずぅーぱるんかい(郷土料理体験)(宮古島)⑧伊良部大橋⑨那覇まちまーい(那覇のまち歩きガイド))

(2)Secrets of Okinawa History(沖縄の歴史と琉球王国の誕生秘話)(①斎場御嶽(沖縄最高の聖地)②尚円王御庭公園(伊是名島)③クマヤ洞窟(伊平屋島)④宮良殿内⑤唐人墓⑥張水御嶽(宮古島)⑦首里城⑧玉陵(第二尚氏王統歴代の巨大な墓陵))

(3)Wild Adventure of Okinawa Archipelago(五感で感じる沖縄の自然)(①古座間味ビーチ(座間味島)②ニシ浜ビーチ(阿嘉島)③阿波連ビーチ(渡嘉敷島)④川平湾(石垣島)⑤石垣やいま村(石垣島)⑥重要伝統的構造物群保存地区(竹富島)⑦西表島のマングローブ群⑧海底遺跡(与那国島))

国立公園

国立公園とは、自然公園法に基づき、日本を代表する自然の風景地を保護し利用の促進を図る目的で、環境大臣が指定する自然公園のひとつである。2019 年 7 月現在、34 の国立公園が存在する。
最も新しいものは 2017 年 3 月 7 日に指定された、奄美群島国立公園である。

下記、自分がこれから旅行に出かけるような気持ちでクリックして学習してください。

(1)阿寒国立公園(1934 年 12 月 4 日指定)(2016)
(2)大雪山国立公園(1934 年 12 月 4 日指定)
(3)支笏洞爺国立公園(1949 年 5 月 16 日指定)
(4)知床国立公園(1964 年 6 月 1 日指定)
(5)利尻礼文サロベツ国立公園(1974 年 9 月 20 日指定・利尻礼文国定公園から昇格)
(6)釧路湿原国立公園(1987 年 7 月 31 日指定)
(7)十和田八幡平国立公園(十和田国立公園として 1936 年 2 月 1 日指定)
(8)磐梯朝日国立公園(1950 年 9 月 5 日指定)
(9)三陸復興国立公園(2013 年 5 月 24 日指定)
(10)日光国立公園(1934 年 12 月 4 日指定)(2016)
(11)富士箱根伊豆国立公園(富士箱根国立公園として 1936 年 2 月 1 日指定)(2015)
(12)秩父多摩甲斐国立公園(秩父多摩国立公園として 1950 年 12 月 4 日指定)
(13)南アルプス国立公園(1964 年 6 月 1 日指定)
(14)小笠原国立公園(1972 年 10 月 16 日指定)(2016)
(15)尾瀬国立公園(2007 年 8 月 30 日指定・日光国立公園から尾瀬地域を分離)
(16)中部山岳国立公園(1934 年 12 月 4 日指定)(2015)
(17)伊勢志摩国立公園(1946 年 11 月 20 日指定)
(18)上信越高原国立公園(1949 年 9 月 7 日指定)
(19)妙高戸隠連山国立公園(2015 年 3 月 27 日指定)
(20)白山国立公園(1962 年 11 月 12 日指定・白山国定公園から昇格)
(21)吉野熊野国立公園(1936 年 2 月 1 日指定)
(22)山陰海岸国立公園(1963 年 7 月 15 日指定・山陰海岸国定公園から昇格)
(23)瀬戸内海国立公園(1934 年 3 月 16 日指定)
(24)大山隠岐国立公園(大山国立公園として 1936 年 2 月 1 日指定)
(25)足摺宇和海国立公園(1972 年 11 月 10 日指定・足摺国定公園から昇格)
(26)雲仙天草国立公園(雲仙国立公園として 1934 年 3 月 16 日指定)
(27)霧島錦江湾国立公園(霧島国立公園として 1934 年 3 月 16 日指定・その後「霧島屋久国立公園」となり 2012 年 3 月 16 日に屋久島国立公園の分離等を行い名称及び区域変更)
(28)阿蘇くじゅう国立公園(阿蘇国立公園として 1934 年 12 月 4 日指定)
(29)西海国立公園(1955 年 3 月 16 日指定)
(30)西表石垣国立公園(西表国立公園として 1972 年 5 月 15 日指定・西表政府立公園を移管)
(31)屋久島国立公園(2012 年 3 月 16 日指定・霧島屋久国立公園から屋久島地域を分離)
(32)慶良間諸島国立公園(2014 年 3 月 5 日指定)
(33)やんばる国立公園(2016 年 9 月 15 日指定)
(34)奄美群島国立公園(2017 年 3 月 7 日指定)

★＜世界遺産地域＞を含む国立公園
・自然遺産：知床国立公園、屋久島国立公園、小笠原国立公園
・文化遺産：日光国立公園（日光の社寺）、富士箱根伊豆国立公園（富士山）、吉野熊野国立公園（紀伊山地の霊場と参詣道）瀬戸内海国立公園（厳島神社）

★特に重要な＜国立公園 13＞（過去 3 回以上出題されたもの）
・**日光国立公園**：男体山［二荒山］／中禅寺湖／華厳滝／東照宮／二荒山神社
・**支笏洞爺国立公園**：支笏湖／洞爺湖／倶多楽湖／羊蹄山／昭和新山／登別温泉／定山渓温泉
・**中部山岳国立公園**：北アルプス［飛騨山脈］／立山連峰／上高地／黒部峡谷／宇奈月温泉
・**大山隠岐国立公園**：大山［伯耆富士］／蒜山／ジャージー牛／三瓶山／隠岐諸島／島根半島
・**瀬戸内海国立公園**：六甲山／淡路島／宮島／厳島神社／芸予諸島／小豆島寒霞渓／屋島／鳴門海峡／関門海峡／国東半島／両子山／高崎山／ニホンザル
・**磐梯朝日国立公園**：出羽三山／朝日岳／飯豊山／吾妻山／磐梯山／猪苗代湖／檜原湖
・**吉野熊野国立公園**：瀞峡［瀞八丁］／大台ヶ原山／大峰山／吉野山／潮岬／那智滝／熊野川
・**阿寒国立公園**：屈斜路湖／川湯温泉／摩周湖／霧／高い透明度／阿寒湖／特別天然記念物マリモ
・**釧路湿原国立公園**：日本最大の湿原／特別天然記念物タンチョウ
・**陸中海岸国立公園**：隆起海岸／断崖／海食景観／わが国を代表するリアス式海岸
・**阿蘇くじゅう国立公園**：阿蘇山／世界最大級のカルデラ／九重山／久住高原／鶴見岳／由布院温泉
・**大雪山国立公園**：大雪山／層雲峡
・**足摺宇和海国立公園**：足摺岬／竜串海岸

・詳しくは、こちらをご覧ください。

重要伝統的建造物群保存地区

重要伝統的建造物群保存地区は、日本の文化財保護法に規定する文化財種別のひとつ。
日本の市町村が条例などにより決定した伝統的建造物群保存地区のうち、文化財保護法第 144 条の規定に基づき、特に価値が高いものとして国（文部科学大臣）が選定したものを指す。
略称は重伝建（じゅうでんけん）地区、重伝建（じゅうでんけん）。

●概要
文化財保護法でいう伝統的建造物群保存地区とは、城下町・宿場町・門前町・寺内町・港町・農村・漁村などの伝統的建造物群およびこれと一体をなして歴史的風致を形成している環境を保存するために市町村が定める地区を指す。
この制度は、文化財としての建造物を「点」（単体）ではなく「面」（群）で保存しようとするもので、保存地区内では社寺・民家・蔵などの「建築物」はもちろん、門・土塀・石垣・水路・墓・石塔・石仏・燈籠などの「工作物」、庭園・生垣・樹木・水路などの「環境物件」を特定し保存措置を図ることとされている。

市町村は都市計画法に基づく都市計画または条例により伝統的建造物群保存地区を定め、文部科学大臣は市町村の申し出に基づき、その価値が特に高いものを重要伝統的建造物群保存地区として選定することとされている。
2018 年（平成 30 年）8 月現在、日本全国で 43 道府県 98 市町村の 118 地区が選定されている。

●詳しくは、こちらをご覧ください。

温泉

近年、ローカルな温泉が多数出題されているが、まずは、有名どころをきちんと押さえておくことが重要。

(1)熱海温泉(静岡県)
東京から新幹線で 45 分。全国屈指の知名度と湯量を誇る、日本を代表する温泉地のひとつ。ビーチ・山・グルメ・花火・芸者など、多彩なレジャーを楽しむことができます。

(2)別府温泉(大分県)
源泉数、湧出量ともに日本一を誇り、人が入浴できる温泉地としては世界最大。別府・鉄輪・観海寺・明礬・亀川・柴石・堀田・浜脇の 8 つの温泉地からなる「別府八湯」はそれぞれ泉質が異なり、湯めぐりが楽しめます。

(3)那須温泉(栃木県)
開湯 1380 年の歴史と 7 種類の温泉を湯めぐりできる栃木県内第一位の湧出量を誇る温泉です。近年では新那須温泉を加えた那須八湯としています。それぞれの温泉で効能・泉質が異なるため、湯めぐりが楽しめます。

(4)白浜温泉(和歌山県)
白浜温泉の天然温泉は弱アルカリ性で水素イオンを含み、体の芯から暖まります。とろみもありお肌もつるつるに。「有馬」「道後」とともに『日本三古泉』の一つ。

(5)伊東温泉(静岡県)
低刺激で肌に優しい単純泉と保温効果に優れた弱食塩泉が中心。旅館からリゾートホテルに民宿・ペンションと温泉を満喫できる宿泊施設も多種多彩。相模湾の鮮魚やみかんなど山海の幸が豊富な一大温泉リゾートです。

(6)草津温泉(群馬県)
標高 1200mに広がる豊富な湯量と泉質のよさを誇る温泉地。湯畑を中心に温泉街の雰囲気を今に残し、旅館・ホテル・土産店・飲食店が立ち並ぶ街並みを浴衣でそぞろ歩きしたり、共同浴場の湯めぐりも楽しみの 1 つです。「有馬」「下呂」とともに『日本三名泉』の一つ。

(7)鬼怒川温泉(栃木県)
東京の奥座敷と呼ばれる鬼怒川温泉は、新宿から電車で 2 時間・車で 2 時間半。日光国立公園の雄大な自然と日光へ 40 分程とアクセスのよさでも支持されています。泉質はアルカリ性単純泉・単純泉で火傷に対する効能があるとされています。

(8)道後温泉(愛媛県)(2016)
日本書紀や小説「坊ちゃん」にも登場する日本最古の温泉。改築 120 周年イベント「道後オンセナート」開催中！「有馬」「白浜」とともに『日本三古泉』の一つ。

(9)秋保温泉(宮城県)(2016)
開湯 1500 年の古い歴史を誇る仙台の奥座敷。伊達政宗に愛された湯として有名。仙台から 30 分とアクセスもよく年中観光客で賑わっています。

(10)強羅温泉(神奈川県)
『日本で唯一の登山電車』である箱根登山鉄道の開通により開かれた高原リゾートの先がけ。強羅公園・箱根美術館を中核に早雲山の中腹に広がり、外輪山の山なみが美しい。交通が便利！泉質多彩な温泉が大人気！

(11)箱根湯本温泉(神奈川県)
箱根の玄関口にあり、天平 10(738)年の開湯で古い歴史を持つ温泉地。また、源泉の数は箱根最多を誇り、箱根の中心的な温泉地としても知られています。

(12)由布院温泉(大分県)(2016)
“豊後富士”と称される美しい由布岳の山麓(さんろく)に広がる温泉地。憧れの温泉地として人気の温泉宿も多い。豊富な湯量が特徴。ほとんどの旅館では露天風呂を完備しています。

(13)下呂温泉(岐阜県)
下呂温泉は千年もの歴史のある由緒ある温泉でもあり、古来から人々に親しまれてきました。アルカリ性の泉質はつるつるした肌触りをもたらし、「美人の湯」とも言われています。「草津」「有馬」とともに『日本三名泉』の一つ。

(14)伊香保温泉(群馬県)
伊香保温泉は上越・長野新幹線で約 2 時間とアクセスも抜群。万葉の時代から人々に親しまれてきた石段街がシンボルの温泉地で、黄金の湯と白銀の湯と 2 種類の源泉を引き込んでいます。立寄り温泉もある歴史深い温泉地。

(15)有馬温泉(兵庫県)
有馬温泉は、日本書紀や古事記などにも記された古くからの温泉で、『日本三古泉』と呼ばれています。「草津」「下呂」とともに『日本三名泉』の一つ。「白浜」「道後」とともに『日本三古泉』の一つ。大阪の奥座敷とも呼ばれる。

(16)飛騨高山温泉(岐阜県)
古い町家が並び、小京都の風情を感じられます。ミシュラン社観光ガイドブックで最高ランク 3 つ星評価を受けた『飛騨高山』から新しく湧き出た温泉です。

(17)定山渓温泉(北海道)
北海道は札幌市南区定山渓。札幌の奥座敷と呼ばれる人気の温泉地。無色透明でまろやかな塩辛さが特徴のナトリウム塩化物泉。汗の蒸発を防ぎ体の芯からポカポカ温まります。札幌国際スキー場の麓にあり車で約 30 分です。

(18)越後湯沢温泉(新潟県)
『国境の長いトンネルを抜けると雪国であった』小説雪国の舞台越後湯沢温泉は、冬場県境を越えて越後に入ると今でも景色が変わります。900 年以上の長い歴史とスキーリゾートとしての近代文化が共存する温泉地です。

(19)河口湖温泉(山梨県)
富士山のふもとの湖、河口湖に位置する風光明媚な温泉地。客室やお風呂から見える富士山の眺望が自慢の宿も多いです。「麗峰の湯」「天水の湯」「霊水の湯」「芙蓉の湯」「秀麗の湯」の 5 つの源泉が湧出しています。

(20)いわき湯本温泉(福島県)
源泉は地下約50メートルから汲み上げた毎分5トンの湧出量を誇る摂氏59度の天然硫黄泉。泉質は全国的に珍しい含硫黄で、「美人の湯」(美肌作用・解毒作用・末梢血管拡張作用)を始め数々の効能を併せ持っています。

※三名泉:有馬温泉、草津温泉、下呂温泉(覚え方:名馬が、草食べて、ゲロ吐いた)
※三古泉:有馬温泉、白浜温泉、道後温泉(覚え方:古い白馬が、道で後ずさりした)

●基本データ
・日本の大まかな位置：北緯（20 度～45 度）、東経（123 度～154 度）
・日本の最北端：（宗谷岬）（北海道）(2017)
・日本の最南端：（沖ノ鳥島）（東京都）
・日本の最東端：（南鳥島）（東京都）
・日本の最西端：（与那国島）（沖縄県）
・国土の面積：（約 37 万 8 千平方キロメートル）
・国土を構成する島の数：（6,852）
・東経 135 度が通る都市：（兵庫県明石市）
・東経 140 度・北緯 40 度：（秋田県大潟村）
・東京の年平均気温：（15.9℃）
・東京の年間降水量：（1466.7mm）
・年平均気温 18℃台の都市：（鹿児島）
・9 月の降水量が 400mm 台の都市：（高知）
・年平均気温 20℃台の都市：（那覇、奄美）

●地理・地形用語
・（環太平洋火山帯）：日本列島が属する太平洋の周囲を取り巻く火山帯のことで、火山列島や火山群の総称。別名環太平洋造山帯とも言い、アルプス・ヒマラヤ造山帯とともに世界の 2 大造山帯とも言われる。
・（プレート）日本列島は、次の四つのプレートの上に乗っている。①北米プレート②ユーラシアプレート③太平洋プレート④フィリピン海プレート
・（フォッサマグナ）：本州中央部を横断する大地溝帯。日本を地質構造上、東北日本と西南日本に分ける。
・（大陸棚）：大陸周辺にある水深 200 メートル以内の浅い海底。
・（成層火山）：溶岩と砕屑物が何層にも堆積して形成され、円錐形の山体と広い裾野を持つ。【代表例】富士山（静岡県・山梨県）。
・（カルデラ）：火山の中心部に形成された大規模な円形またはそれに近い凹地。【代表例】阿蘇山（熊本県）。
・（溶岩ドーム）：溶岩の粘性が大きく、高さの割にすそ野の広がりが狭い。【代表例】大山（鳥取県）、昭和新山（北海道）。
・（堰止め湖）：火山噴出物や山崩れなどにより、川が堰き止められて生じた湖。【代表例】中禅寺湖（栃木県）、富士五湖（山梨県）
・（扇状地）：河川が山地から平地に流れ出す際、谷の出口を頂点に、河川が運んできた砂などが扇形に堆積してできる地形。【代表例】甲府盆地（山梨県）。
・（カルスト地形）：石灰岩地域の溶食によってできた地形。【代表例】秋吉台・秋芳洞（山口県）。
・（関東ローム層）：関東に広く分布する火山灰が堆積した地層。
・（リアス式海岸）：山地の沈降により生じた鋸歯状の屈曲を持つ海岸。【代表例】三陸海岸南部、志摩半島、若狭湾。
・（三角州）：河川が運んできた砂などが河口付近に堆積してできる地形。【代表例】太田川⇒広島平野。
・（砂洲）：湾口に形成された砂礫の堆積による嘴状の地形が発達して対岸に達し、内に潟を抱くようになったもの。【代表例】天橋立（京都府）
・（砂嘴(さし)）：堆積した砂礫が海岸から沖へ細長く伸びた地形。先端が湾曲するかぎ状砂嘴と、先が分かれた分岐砂嘴がある。【代表例】野付崎（北海道）

●気象用語
・（フェーン現象）：山地から吹き下ろす高温で乾燥した風。日本では夏の日本海側に典型的に見られる。
・（やませ）：初夏の頃に東北地方太平洋側に吹く冷涼湿潤な北東風。オホーツク気団と寒流の千島海流が原因で、しばしば冷害をもたらす。
・（夏日）：一日の最高気温が 25℃以上の日。

・(真夏日):一日の最高気温が 30℃以上の日。
・(猛暑日):一日の最高気温が 35℃以上の日。
・(熱帯夜):最低気温が 25℃より下がらない夜。
・(冬日):一日の最低気温が 0℃未満の日。
・(真冬日):一日の最高気温が 0℃未満の日。

●注意すべき山・川・湖・島
・山の高さベスト3:①(富士山)(静岡県・山梨県)②(北岳)(山梨県)③(奥穂高岳)(長野県・岐阜県)
・各地方最高峰:(旭岳)(北海道)、(燧ヶ岳)(福島県・東北地方)、(八経ヶ岳)(奈良県・近畿地方)、(大山)(鳥取県・中国地方)、(石鎚山)(愛媛県・四国地方)、(宮之浦岳)(鹿児島県屋久島・九州地方)
・川の長さベスト3:①(信濃川)②(利根川)③(石狩川)
・川の流域面積ベスト3:①(利根川)②(石狩川)③(信濃川)
・日本三急流:(最上川)(山形県)、(富士川)(山梨県・静岡県)、(球磨川)(熊本県)
・湖の広さベスト3:①(琵琶湖)(滋賀県)②(霞ヶ浦)(茨城県)③(サロマ湖)(北海道)
・湖の深さベスト3:①(田沢湖)(秋田県)②(支笏湖)(北海道)③(十和田湖)(青森県・秋田県)
・島の大きさベスト3:①(沖縄島)②(佐渡島)③(奄美大島)(※主要 4 島及び北方領土を除く)

●新幹線
・東海道新幹線(1964 年 10 月 1 日)
・山陽新幹線(1972 年 3 月 15 日)
・東北新幹線(盛岡駅以南)(1982 年 6 月 23 日)
・上越新幹線(1982 年 11 月 15 日)
・山形新幹線(1992 年 7 月 1 日)
・秋田新幹線(1997 年 3 月 22 日)
・北陸新幹線(2015 年 3 月 14 日)
・東北新幹線(盛岡駅以北)(2002 年 12 月 1 日)
・九州新幹線(鹿児島ルート)(2004 年 3 月 13 日)
・北海道新幹線(2016 年 3 月 26 日)(2016)

●小京都
・(弘前)(青森県):「津軽の小京都」。津軽リンゴとねぷた祭で有名。百石町・代官町・蔵主町といった当時をしのばせる町名が残る。
・(角館(かくのだて))(秋田県):「みちのくの小京都」。武家屋敷の姿を最もよく残す町といわれ、城下町は北に内町(武家町)、南に外町(町人町)、中央部に火除けと整然と区分けされている。
・(高山)(岐阜県):「飛騨の小京都」。代官の居所であった陣屋跡や古い町並みがそっくり残る。春秋 2 回の高山祭でも有名。
・(金沢)(石川県):前田家百万石の財力が築き上げた文化都市。今も町には当時を偲ばせる風情が残り、兼六園や武家屋敷など見所多数。加賀友禅、金沢漆器、九谷焼など伝統工芸の宝庫でもある。
・(尾道)(広島県):背後の山が海の近くまで迫り、坂道が続く落ちついた城下町。「しまなみ海道」の本州側の玄関都市。
・(津和野)(島根県):「山陰の小京都」。津和野川に沿って山に囲まれた静かな城下町。津和野城跡や森鴎外、西周の旧居がある。
・(萩)(山口県):毛利氏の城下町として栄えた武家屋敷が残る史跡の町。吉田松陰など明治維新の志士を多く輩出した町としても知られる。

●焼き物
・(益子焼)(栃木県)
・(越前焼)(福井県)
・(九谷焼)(石川県)
・(瀬戸焼)(愛知県)
・(美濃焼)(岐阜県)

・(信楽焼)(滋賀県)
・(備前焼)(岡山県)
・(萩焼)(山口県)
・(有田焼)(佐賀県)
・(伊万里焼)(佐賀県)
・(唐津焼)(佐賀県)
・(壷屋焼)(沖縄県)

●重要な国際条約
・ワシントン条約:絶滅に瀕した野生動植物の取引を規制
・バーゼル条約:有害廃棄物の国際移動を規制
・生物多様性条約:生物多様性の保全
・気候変動枠組み条約:温室効果ガス濃度の安定化
・ラムサール条約:渡り鳥の生息地など重要な湿地を保護

名数

「名数」とは、同類のものをいくつかまとめ、その数をつけて総称する呼び方のことである。

●自然

・(日本三景):松島(宮城県)、天橋立(京都府)、厳島(安芸の宮島)(広島県)(2016)
(覚え方:松島や、天橋立、厳島)(五七五の調子で覚える)
・(日本三名山):富士山(静岡県・山梨県)、立山(富山県)、白山(石川県)(2015)
・(三大松原):三保の松原(静岡県静岡市)、虹ノ松原(佐賀県唐津市)、気比松原(福井県敦賀市)(2015)
・(富士五湖):山中湖、河口湖、西湖、精進湖、本栖湖(2015)
・(名水百選):長良川(2016)
・(渚百選):雨晴海岸(2016)
・(三大清流):柿田川、長良川、四万十川(2016)
・(滝百選):真名井の滝(2015)
・(大和三山):耳成山(みみなしやま)・畝傍山(うねびやま)・天香具山(あまのかぐやま)
(覚え方:春すぎて夏来にけらし耳成の畝傍ほすてふ天の香具山)(百人一首)
・(出羽三山):月山・羽黒山・湯殿山(覚え方:相撲取りの羽黒山がお湯に入って月を見た)
・(日光三山):男体山・女峰山・太郎山
・(三大瀑布・三名瀑):華厳の滝(栃木県)、袋田の滝(茨城県)、那智の滝(和歌山県)
・(日本三急流):最上川(山形県)、富士川(山梨県・静岡県)、球磨川(熊本県)
・(日本三大河川):石狩川、利根川、信濃川
・(日本三大湖):琵琶湖(滋賀県)、霞ヶ浦(茨城県)、サロマ湖(北海道)

●観光

・(日本三大テーマパーク):東京ディズニーリゾート、ユニバーサル・スタジオ・ジャパン、ハウステンボス
・(三大和牛):松坂牛、神戸牛、近江牛(←米沢牛とする場合もある)
・(日本三大ラーメン):札幌ラーメン、喜多方ラーメン、博多ラーメン
(覚え方:札幌に来た(喜多)からには、博多ラーメンだ)

●文化

・(日本三名園):偕楽園(茨城県)、兼六園(石川県)、後楽園(岡山県)(2015)
・(四国八十八ケ所めぐり):発願の寺(2016)
・(三名城):名古屋城、熊本城、大坂城(←大阪城ではないことに注意)
・(国宝四城):姫路城、彦根城、松本城、犬山城(←松江城を入れると、国宝五城となる)

●祭

・(東北4大夏祭):仙台七夕まつり(仙台市)、青森ねぶた祭(青森市)、秋田竿燈まつり(秋田市)、花笠まつり(山形市)(過去に多数出題歴あり)
・(日本三大祭):祇園祭(京都府、八坂神社)、天神祭(大阪府、大阪天満宮)、神田祭(東京都、神田明神) (過去に多数出題歴あり)
・(京都三大祭):葵祭(5 月)、祇園祭(7 月)、時代祭(10 月)(過去に多数出題歴あり)
・(三大盆踊り):西馬音内の盆踊り(秋田県羽後町)、郡上おどり(岐阜県郡上市)、阿波踊り(徳島県)

●歴史

・(五街道):東海道、中山道、甲州街道、奥州街道、日光街道(過去に多数出題歴あり)
・(鎌倉五山):「建長寺」「円覚寺」「寿福寺」「浄智寺」「浄妙寺」(覚え方:見学自由な珍妙な寺)
・(京都五山):「南禅寺」「天竜寺(右京区)」「相国寺(上京区)」「建仁寺(東山区)」「東福寺」「万寿寺」
(覚え方:なんてそっけない豆腐まんじゅう)

ジオパーク

ジオパークは、2015年に出題されたのみであるが、無視できない。
＜出題のされ方＞を理解した上で準備をすることが重要である。

●ジオパークとは

ジオパークとは、「地球・大地（ジオ：Geo）」と「公園（パーク：Park）」とを組み合わせた言葉で、「大地の公園」を意味し、地球（ジオ）を学び、丸ごと楽しむことができる場所をいいます。
大地（ジオ）の上に広がる、動植物や生態系（エコ）の中で、私たち人（ヒト）は生活し、文化や産業などを築き、歴史を育んでいます。ジオパークでは、これらの「ジオ」「エコ」「ヒト」の 3 つの要素のつながりを楽しく知ることができます。
例えば、山や川をよく見て、その成り立ちと仕組みに気づくと、今まで何とも思わなかった景色が変わって見えてきます。またその景色が、何千万年、何億年という途方もない年月をかけてつくられてきたことを知れば、私たち人の暮らしは地球活動なしには存在しえないことも分かります。
ジオパークでは、まずそのジオパークの見どころとなる場所を「ジオサイト」に指定して、多くの人が将来にわたって地域の魅力を知り、利用できるよう保護を行います。
その上で、これらのジオサイトを教育やジオツアーなどの観光活動などに活かし、地域を元気にする活動や、そこに住む人たちに地域の素晴らしさを知ってもらう活動を行います。
2018 年 7 月現在、日本ジオパーク 43 地域、その内、9 地域がユネスコ世界ジオパークです。

●世界ジオパーク

(1)洞爺湖有珠山
(2)アポイ岳
(3)**糸魚川**（2015）
(4)隠岐
(5)山陰海岸
(6)**室戸**（2015）
(7)島原半島
(8)阿蘇
(9)伊豆半島

●日本ジオパーク

(10)白滝
(11)**三笠**（2015）
(12)とかち鹿追
(13)下北
(14)八峰白神
(15)男鹿半島・大潟
(16)三陸
(17)鳥海山・飛島
(18)ゆざわ
(19)栗駒山麓
(20)佐渡
(21)磐梯山
(22)苗場山麓
(23)立山黒部
(25)浅間山北麓
(25)白山手取川
(26)下仁田
(27)恐竜渓谷ふくい勝山
(28)筑波山地域
(29)秩父
(30)南アルプス
(31)銚子
(32)箱根
(33)伊豆大島
(34)Mine 秋吉台
(35)おおいた姫島
(36)南紀熊野
(37)四国西予
(38)おおいた豊後大野
(39)天草
(40)**霧島**（2015）
(41)桜島・錦江湾
(42)三島村・鬼界カルデラ
(43)島根半島・宍道湖中海ジオパーク

●参考⇒詳しくは、は、こちらを見ておくこと

【1】【2】「観光立国ショーケース」の関連、発展問題

①北海道の道東エリア＝阿寒湖のマリモ）

②石川県金沢市

★観光立国ショーケースについて（観光庁）

(1) 多様な観光資源のポテンシャルを活かした世界に通用する魅力ある観光地域づくり

(2) 訪日外国人旅行者を地方へ誘客するモデルケースの確立

・選定都市：釧路市、金沢市、長崎市

・日本版 DMO の確立

観光地づくり等の舵取り役として、

(1) 関係者の合意形成

(2) マーケティング等に基づく戦略策定

(3) 各種事業のマネジメント等を行う、日本版 DMO を確立する。

・DMO とは、観光物件、自然、食、芸術・芸能、風習、風俗など当該地域にある観光資源に精通し、地域と協同して観光地域作りを行う法人のこと。

DMO ＝ Destination Management / Marketing Organization

・観光庁が規定した日本版 DMO

『地域の「稼ぐ力」を引き出すとともに地域への誇りと愛着を醸成する「観光地経営」の視点に立った観光地域づくりの舵取り役として、多様な関係者と協同しながら、明確なコンセプトに基づいた観光地域づくりを実現するための戦略を策定するとともに、戦略を着実に実施するための調整機能を備えた法人』

・目的：（2020 年に）多くの外国人旅行者に選ばれる観光立国を体現する観光地域をつくること。

【3】「立山黒部アルペンルート」について

・2016 年度の問題文

立山黒部アルペンルートは、ケーブルカー、ロープウェイ、トロリーバスなどを乗り継ぎ、富山県立山町―長野県大町市間の、(a) 国立公園内にある北アルプスを貫く観光ルートである。広大な景観、可憐な高山植物、秋の紅葉、期間限定(4 月～6 月)の (b)「雪の大谷」などの大自然を楽しむことができる。

・2018 年度の問題文

北アルプスの中央を貫く(a) 立山黒部アルペンルートは、富山県と長野県をケーブルカー・ロープウェイ・トロリーバスなどの乗り物を乗り継いで、美女平、弥陀ヶ原、室堂、大観峰、黒部湖、黒部ダムなどの雄大な大自然を満喫することができる国際的にも大規模な山岳ルートとなっており、東南アジアからの外国人観光客が増加している。また、富山県の立山連峰と後立山連峰の間を流れる黒部川の侵食作用により形成された黒部峡谷では、(b＝宇奈月温泉）から欅平までトロッコ式電車で知られる黒部峡谷鉄道が通じている。

【4】「桜の名所」について

・新宿御苑

・角館＝みちのくの小京都＝枝垂桜）

・一度は行きたい桜の名所 20 選

【5】「伊豆半島」「石廊崎」「柿田川」

【6】「軽井沢」「万平ホテル」「雲場池」

【7】「あしかがフラワーパーク」「湯西川温泉」「竜化の滝」

【8】「出雲大社」「奥出雲町」「足立美術館」「玉造温泉」「津和野」

【9】「厳島神社」「呉」「尾道」「原爆ドーム」

【10】「栗林公園」「丸亀」「直島」

【11】「鳴門」「阿波踊り」「大歩危峡」

【12】「福岡市博物館」「大宰府天満宮」「あまおう」「博多どんたく」

【13】「仙巌園」「指宿温泉」「屋久島」

【14】「宮古島」「石垣島」「竹富島」「西表島」「東平安名崎」「川平（かびら）湾」「ちんすこう」

●2018 年度＜ご当地問題＞（大問 5～大問 14）
栃木県（湯西川温泉、竜化の滝、あしかがフラワーパーク）
軽井沢（万平ホテル、雲場池）
静岡県（伊豆半島、石廊崎、柿田川）
島根県（出雲大社、奥出雲町、足立美術館、玉造温泉、津和野）
広島県（厳島神社、呉、尾道）
香川県（栗林公園、丸亀、直島）
徳島県（鳴門、阿波踊り、大歩危峡）
福岡県（「漢委奴国王」金印、大宰府天満宮、あまおう、博多どんたく）
鹿児島県（仙巌園、指宿温泉、屋久島）
沖縄県（宮古島、石垣島、竹富島、西表島、東平安名崎、川平湾、ちんすこう）

●2017 年度＜ご当地問題＞
北海道（摩周湖、屈斜路湖、モエレ沼公園、創成川、宗谷岬、阿寒湖、マリモ、時計台、羊蹄山）
新潟県（瀬波温泉）
群馬県（吹割の滝、万座、尾瀬、妙高山）
長野県（葛飾北斎、姥捨ての棚田、湯田中渋温泉）
山梨県（恵林寺、河口湖、野辺山駅）
富士山（朝倉山浅間神社、谷瀬の吊り橋）
中山道（妻籠、馬籠、男滝・女滝）
滋賀県（黒壁スクエア）
京都（葵祭、祇園祭、時代祭）
紀伊半島（那智の滝、つぼ湯）
兵庫県（竹田城跡、城崎温泉）
香川県（龍河洞、金丸座）

●2016 年度＜ご当地問題＞
函館（高田屋嘉兵衛、函館山、五稜郭）
仙台（広瀬川、瑞鳳殿、治部煮、秋保温泉）
日光（浅草、日光東照宮、いろは坂、男体山）
東京（辰野金吾、すみだ水族館、父島）
天橋立、三重県志摩半島（英虞湾）

●2015 年度＜ご当地問題＞
長野県（松本城、地獄谷野猿公苑、松江城、山ノ内町）、**金沢市**（兼六園）、**高尾山**

★今後、出題が予想される（まだ出題されていない）＜ご当地問題＞の地域
青森県、岩手県、秋田県、山形県、福島県、茨城県、千葉県、埼玉県、神奈川県、新潟県、富山県、福井県、岐阜県、愛知県、和歌山県、大阪、鳥取県、岡山県、山口県、愛媛県、高知県、佐賀県、長崎県、熊本県、大分県、宮崎県

●2018 年度に出題されなかった＜重要項目＞

・2018 年度に出題されなかった＜広域観光周遊ルート＞

2017 年度出題例
①日本の奥の院・東北探訪ルート（弘前市、玉川温泉、芋煮、立石寺）
②縁の道～山陰の道（国賀海岸、太鼓谷稲成神社）

2016 年度出題例
①アジアの宝悠久の自然美への道ひがし北・海・道（稚内空港、富良野、屈斜路湖、層雲峡）
②昇竜道（長良川、合掌造り民家群、雨晴海岸、白米千枚田）
③スピリチュアルな島～四国遍路～（仁淀川、よさこい祭り、皿鉢料理、発願の寺、御誕生所、道後温泉、五台山）
④温泉アイランド九州（雲仙温泉、通潤橋、えびの高原、長崎鼻）

★今後、出題が予想される（まだ出題されていない）＜広域観光周遊ルート＞
①日本のてっぺん。きた北海道ルート。
②美の伝説（関西）
③広域関東周遊ルート「東京圏大回廊」
④せとうち・海の道
⑤Be.Okinawa 琉球列島周遊ルート

・2018 年度に出題されなかった＜世界遺産＞

2017 年度出題例
①明治日本の産業革命遺産（端島炭鉱、）
②琉球王国のグスク及び関連遺産群（今帰仁城跡(なきじんじょうあと)）

2016 年度出題例
①石見銀山遺跡とその文化的景観（足尾銅山、温泉津）

2015 年度出題例
①小笠原諸島
②古都京都の文化財（伏見稲荷大社、宇治市）
③富士山（忍野八海、本栖湖、精進湖、西湖、河口湖、山中湖）

・2018 年度に出題されなかった＜国立公園＞

2017 年度出題例
①慶良間諸島国立公園（渡嘉敷島）
②やんばる国立公園（大石林山）

・2018 年度に出題されなかった＜ジオパーク＞

2015 年度出題例
①三笠ジオパーク（岩見沢、榎本武揚、夕張炭鉱、
②茨城県北ジオパーク

【1】＜難問★★＞（地図上で場所を問う問題）
阿寒湖（マリモが生息する）屈斜路湖（日本一大きいカルデラ湖）(2016)(2017)摩周湖（透明度が高い）
●対策⇒主な湖、山、川、半島、島、山脈、火山帯の場所を地図上で分かるようにしておくこと。

【2】＜難問★＞（札幌市にあるもの）
①北方文化博物館（新潟市）②モエレ沼公園（札幌市）
③天狗山展望所（小樽市）④北一硝子（小樽市）
●対策⇒重要な施設、公園などは、所在する県、都市などを確認しておくこと。

【3】＜難問★★＞（札幌市で、東西の起点となっている川）
①新川（札幌）②創成川③豊平川④真駒内川
●対策⇒重要な川は、必ず、所在する県、都市を確認しておくこと。
＜項目別地図帳＞
＜都道府県別地図帳＞（右に、90度回転させてご覧ください）

【4】＜良問＞（日本最北端の地）
①宗谷岬（日本本土の最北端）
②納沙布岬（日本本土の最東端）
③ノシャツプ岬（稚内市のノシャップにある岬）
④スコトン岬（礼文島の岬）
●対策⇒最北端が問われたので、東西南も確認しておくこと。
・日本の最北端：（宗谷岬）（北海道）
・日本の最東端：（南鳥島）（東京都）
・日本の最南端：（沖ノ鳥島）（東京都）
・日本の最西端：（与那国島）（沖縄県）

【5】＜良問＞（重要文化財。札幌市内の観光スポット）
①札幌市資料館②札幌時計台③豊平館④北海道旧本庁舎
●おまけ⇒日本三大がっかり名所
（1）高知のはりまや橋（2）札幌の時計台（3）守礼門（沖縄）（4）オランダ坂（長崎）

【6】＜良問＞（蝦夷富士。ふきだし公園。）
①有珠山②昭和新山③樽前山④羊蹄山

羊蹄山

●対策⇒日本各地のご当地富士を確認しておくこと。
①蝦夷富士（羊蹄山）
②知床富士（羅臼岳）
③津軽富士（岩木山）
④南部（片）富士（岩手山）
⑤出羽富士（鳥海山）
⑥会津富士（磐梯山）
⑦信濃富士（黒姫山）
⑧伯耆富士（ほうきふじ）（鳥取県側から）・出雲富士（島根県側から）（大山）
⑨讃岐富士（飯野山）
⑩薩摩富士（開聞岳）

【7】＜良問＞（江戸時代の天守が往時のまま現存する弘前城。弘前市）
【広域観光周遊ルート「日本の奥の院・東北探訪ルート」関連】
さくらまつり
ねぷたまつり
●参考⇒「ねぷた」の語源：「たなばた」（仙台）→「なばた」→「ねぶた」（青森）→「ねぷた」（弘前）
●対策⇒東北四大夏まつり
・仙台七夕まつり（宮城県仙台市）
・青森ねぶた祭（青森県青森市）
・秋田竿燈まつり（秋田県秋田市）
・山形花笠まつり（山形県山形市）

【8】＜難問★★＞（秋田県に所在する温泉）
①大鰐温泉（おおわにおんせん）②玉川温泉
③鶯宿温泉（おうしゅくおんせん）④不老ふ死温泉

【9】＜良問＞（山形市の大鍋でつくる郷土料理）
①芋煮②粕汁③しょっつる鍋④ひっつみ
●参考⇒日本の郷土料理一覧

【10】＜良問＞（芭蕉が、奥の細道で「閑さや岩にしみ入蝉の聲」と詠んだ寺）
①平泉②中尊寺③湯殿山④立石寺（りっしゃくじ）
●参考⇒「あらたふと青葉若葉の日の光」（日光）
「夏草や兵つはものどもが夢のあと」（平泉）
「閑さや岩にしみ入る蝉の聲」（立石寺）
「五月雨をあつめて早し最上川」（最上川）
「荒海や佐渡によこたふ天の河」（佐渡）
●参考⇒日本三大急流（最上川、富士川、球磨川）
●参考⇒出羽三山（羽黒山、湯殿山、月山）
出羽三山の覚え方：（歯が黒い相撲取りの）羽黒山が、お風呂に入りながら、月を見た。

【11】＜難問★★＞（新潟県村上市にある滝）
①岩室温泉②温海温泉（あつみおんせん）③瀬波温泉④月岡温泉

【12】＜難問★★＞（群馬県にある「東洋のナイアガラ」と呼ばれる滝）
①常布の滝（じょうふのたき）②棚下不動滝（たなしたふどうたき）
③吹割の滝（ふきわれのたき）④袋田の滝（ふくろだのたき）

【13】＜良問＞（本州最大の高層湿原）
①尾瀬②北軽井沢③万座④水上高原

尾瀬ヶ原と燧ヶ岳（ひうちがたけ）

●参考⇒ラムサール条約

ラムサール条約は1971年2月2日にイランのラムサールという都市で採択された、湿地に関する条約です。正式名称は、**「特に水鳥の生息地として国際的に重要な湿地に関する条約」**といいますが、この条約は開催地にちなみ、一般に**「ラムサール条約」**と呼ばれています。

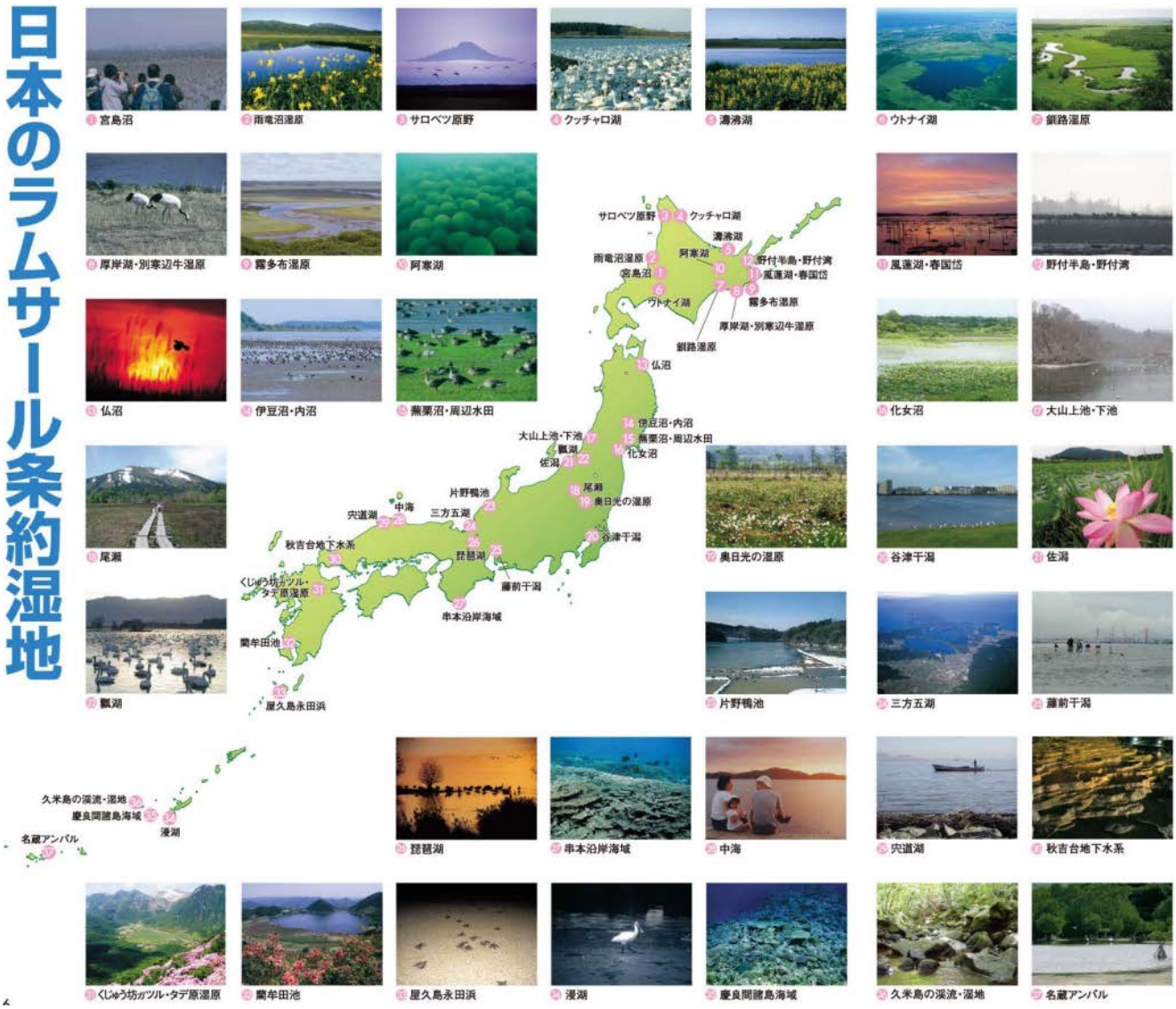

●ラムサール条約登録地(重要なもの)

- 釧路湿原(北海道)
- クッチャロ湖(北海道)
- サロベツ原野(北海道)
- 阿寒湖(北海道)
- 尾瀬(福島県・群馬県・新潟県)
- 琵琶湖(滋賀県)
- 三方五湖(福井県)
- 中海(鳥取県・島根県)
- 宍道湖(島根県)
- 秋吉台地下水系(山口県)

【14】＜難問★＞（群馬県に所在する日本三大奇勝）
①赤城山②子持山（こもちやま）③榛名山（はるなさん）④妙義山（みょうぎさん）
●参考⇒日本三大奇勝：①妙義山（群馬）②寒霞渓（香川）③耶馬渓（大分）

【15】＜難問★★＞（晩年を小布施で過ごした画家）
①小林一茶②堀辰夫③葛飾北斎④歌川広重

【16】＜難問★★＞（国の重要文化的景観）
①秋山郷②善光寺③戸隠神社④姨捨の棚田（おばすてのたなだ）
●参考⇒重要文化的景観とは
地域における人々の生活又は生業及び当該地域の風土により形成された景観地で我が国民の生活又は生業の理解のため欠くことのできないもの（文化財保護法第二条第1項第五号より）
重要文化的景観の説明（→姨捨の棚田は、12番目に掲載されている）

【17】＜難問★＞（長野県の夜間瀬川沿いの9つの温泉地の総称）
①大町温泉郷②信州高山温泉郷③蓼科温泉郷④湯田中渋温泉郷
【18】＜難問★＞（桜と五重塔と富士山を同時にみることができる場所）
①新倉山浅間公園（あらくらやませんげんこうえん）②日本平③笛吹川フルーツ公園④三保の松原

新倉山浅間公園

【19】＜奇問★＞（2015年に開通した日本一長い歩行者用吊り橋）
①竜神大吊橋②九重“夢”大吊橋③谷瀬の吊り橋（たにぜのつりばし）④綾の照葉大吊橋

谷瀬の吊り橋

●参考⇒＜その1＞歩いて渡れる日本の吊り橋ランキング人気トップ10
＜その2＞スリルと絶景が味わえる！おすすめ「吊り橋」厳選25選！

【20】＜難問★＞（武田信玄の菩提寺）
①恵林寺（えりんじ）（甲州市）②大泉寺（甲府市）
③龍潭寺（りょうたんじ）（浜松市）④長禅寺（甲府市）

【21】＜良問＞（富士五湖の中では、標高が最も低い湖）
①河口湖②西湖③精進湖④山中湖

【22】＜難問★＞（JR線で、最も標高の高い小海線（こうみせん）の駅）
①甲斐大泉駅②清里駅③信濃川上駅④野辺山駅

【23】＜難問★★＞（中山道の妻籠宿と馬籠淑の間にある滝）
①男滝・女滝（おだき・めだき）②華厳の滝③秋保大滝④浄蓮の滝（♪天城超え♪）

男滝女滝華厳の滝浄蓮の滝秋保大滝

【24】＜難問★＞（長浜のガラスをテーマにした町）
①黒壁スクエア（滋賀県長浜市）②国際通り（那覇市）③境町通り（京都市）④ハルニレテラス（軽井沢市）

黒壁スクケア（長浜市）ハルニレテラス（軽井沢市）

【25】＜良問＞（京都三大祭）
京都三大祭（→開催日に注意）
・葵祭（京都市上賀茂（下賀茂）神社）（5月15日）・祇園祭（京都市八坂神社）（7月1日から1か月間）
・時代祭（京都市平安神社）（10月22日）
●対策⇒日本三大祭り
・祇園祭（京都市八坂神社）・天神祭（大阪市大阪天満宮）・神田祭（東京都神田明神）

【26】＜良問＞（「紀伊山地の霊場と表参道」の名瀑
①赤目四十八滝（三重県名張市）②那智の滝（和歌山県）
③箕面の滝（大阪府箕面市）④養老の滝（岐阜県）

赤目四十八滝那智の滝箕面の滝養老の滝

【27】＜難問★★＞（熊野詣の湯垢離場（ゆごりば））
①金泉②崎の湯（和歌山県）③仙人風呂（和歌山県）④つぼ湯（和歌山県）

【28】＜良問＞（兵庫県北部の「虎臥城」（とらふすじょう、こがじょう）とも呼ばれる城
①上田城（長野県上田市）②春日城跡（新潟県上越市）
③竹田城跡（兵庫県朝来市）④備中松山城（岡山県高梁市）
●参考⇒竹田城は、ペルーにあるインカ帝国の都市の遺跡を思わせることから、最近、「日本のマチュピチュ」と呼ばれて人気が高まっている。

竹田城跡（日本のマチュピチュ）

【29】＜難問★＞（「鴻の湯」などの7つの外湯めぐりを楽しむことができる温泉）
①有馬温泉②城崎温泉③宝塚温泉④湯村温泉
●参考⇒・三名泉：有馬温泉、草津温泉、下呂温泉（覚え方：名馬が、草食べて、ゲロ吐いた）
・三古泉：有馬温泉、白浜温泉、道後温泉（覚え方：古い白馬が、道で後ずさりした）

【30】＜難問★★＞（隠岐を代表するダイナミックな景勝地）
【広域観光周遊ルート「緑の道～山陰～」関連問題】
①浦富海岸（鳥取県）②国賀海岸（くにがかいがん）（島根県隠岐諸島）
③白兎海岸（鳥取県）④丹後海岸（京都府）

【31】＜難問★＞（日本五大稲荷のひとつ）
①豊川稲荷②太鼓谷稲成神社（たいこだにいなりじんじゃ）
③伏見稲荷大社④福徳稲荷神社（山口県）

【32】＜難問★＞（世界遺産「明治日本の産業革命遺産」関連
①橋野鉄鉱山②旧集成館③端島炭坑（はしま炭鉱）④旧グラバー住宅

【33】＜難問★＞（龍河洞の場所）
①石手寺②祖谷のかずら橋③栗林公園④龍河洞

【34】＜難問★★＞（日本最古の芝居小屋「旧金毘羅大芝居」の愛称
①歌舞伎座②金丸座③斜陽館④康楽館

【35】＜難問★＞（慶良間諸島（けらましょとう）の代表的な島）
①伊江島②久米島③竹富島④渡嘉敷島（とかしきじま）

【36】＜難問★＞（「やんばる国立公園」に所在する観光地）
①マリユドゥの滝（西表島）②大石林山③東平安名岬④万座毛

【37】＜難問★★＞（世界遺産「琉球王国のグスク及び関連遺産群の構成資産」）
①勝連城跡（かつれんぐすくあと）②座喜味城跡（ざきみぐすくあと）
③首里城跡④今帰仁城跡（なきじんぐすくあと）

●2017年度＝平成29年度の問題分析結果
＜良問＞：11題　＜難問★＞：13題　＜難問★★＞：12題　＜奇問★＞：1題　＜合計＞：37題

【1】＜難問★＞「広域観光周遊ルート」の「アジアの宝悠久の自然美への道ひがし北・海・道」関連問題
（このアリアに含まれない空港）①稚内空港②紋別空港③女満別空港④中標津空港

【2】＜良問＞「ひがし北・海・道」の「北海道ガーデン街道」
①恵庭②トマム③富良野④美幌
●参考⇒「北海道ガーデン街道」の8つのガーデン
大雪森のガーデン（上川町）
上野ファーム（旭川市）
風のガーデン（富良野市）(2016)
十勝千年の森（清水町）
真鍋庭園（帯広市）
十勝ヒルズ（幕別町）
紫竹ガーデン（帯広市）
六花の森（中札内村）

【3】＜良問＞「ひがし北・海・道」の阿寒国立公園内に所在する湖
①サロマ湖②屈斜路湖(2016)(2017)③十和田湖④支笏湖(2016)(2017)

【4】＜難問★＞「ひがし北・海・道」エリアの渓谷
①天人峡②ふきだし公園③錦仙峡④層雲峡

【5】＜難問★＞函館に関する問題（「函館発展の恩人」とは）
①榎本武揚②坂本龍馬③高田屋嘉兵衛④土方歳三

【6】＜良問＞ミシュラン三つ星の展望（夜景が有名）
①恵山②五稜郭タワー③立待岬④函館山

【7】＜良問＞戊辰戦争最後の舞台（星形要塞）
①香雪園②五稜郭③千畳敷④函館公園

函館山から望む函館市街地五稜郭タワーから望む五稜郭

【8】＜良問＞仙台に関する問題（「♪青葉城恋唄♪」にもうたわれた川）
①名取川②七北田川③鳴瀬川④広瀬川

【9】＜難問★★＞仙台に関する問題（伊達政宗の御廟（ごびょう））
①感仙殿②瑞鳳殿③善応殿④大極殿

【10】＜難問★＞仙台の定番人気グルメでないもの
①牛タン焼き②笹かまぼこ③ずんだ餅④治部煮（じぶに）（石川県金沢市の郷土料理）

【11】＜難問★＞仙台の奥座敷
①秋保温泉（あきうおんせん）②作並温泉（さくなみおんせん）
③遠刈田温泉（とおがったおんせん）④鳴子温泉（なるこおんせん）

【12】＜良問＞東京都台東区の東武鉄道の始発執着駅
①浅草②上野③押上④北千住

【13】＜良問＞徳川家康の御廟
①大谷寺②日光山輪王寺③日光東照宮④二荒山神社

【14】＜良問＞48か所の急カーブがある観光道路
①いろは坂②四十八坂③椎坂峠（しいさかとうげ）④地獄坂（全国に多数ある）

【15】＜難問★＞この山の噴火により中禅寺湖ができた
①鬼怒沼山②白根山③男体山④女峰山

【16】＜難問★＞東京駅丸の内駅舎や日本銀行本店の設計者
①ジョサイア・コンドル②辰野金吾③フランク・ロイド・ライト④本野精吾

【17】＜難問★＞スカイツリータウンにある水族館
①サンシャイン水族館②スカイツリー水族館③すみだ水族館④ソラマチ水族館

【18】＜難問★＞二見港がある島
①兄島②弟島③父島④母島

【19】＜良問＞名水百選第一号宗祇水
①長良川②鈴鹿川③黒部川④九頭竜川

【20】＜難問★★＞高山に所在しない観光施設
①合掌造り民家園（岐阜県大野郡白川村）②吉島家住宅（高山市）
③日下部民塾館（高山市）④宮川朝市（高山市）

【21】＜難問★＞高岡市にある白砂青松・渚百選
①越前海岸（福井県敦賀市）②雨晴海岸（あまはらしかいがん）
③気比の松原（けひのまつばら）（福井県敦賀市）④虹の松原（佐賀県）
●参考⇒日本の白砂青松100選
過去によく出題された松原
・松島（宮城県塩竈市など）・気比の松原（福井県敦賀市）
・三保の松原（静岡県静岡市清水区）・天橋立（京都府宮津市）・虹ノ松原（佐賀県唐津市）

【22】＜難問★＞金沢駅から和倉温泉までの観光ルート
①東尋坊（福井県坂井市）②兼六園（石川県金沢市）
③白米千枚田（しろよねせんまいだ）（石川県輪島市）④永平寺（福井県）

【23】＜難問★＞間違った組み合わせ
①あつみ温泉朝市（×中尊寺）②勝浦朝市（犬吠埼灯台）③函館朝市（トラピスチヌ修道院）
④呼子の朝市（吉野ヶ里遺跡）

【24】＜難問★＞間違った組み合わせ
①牡鹿半島（金華山）②三浦半島（×御前崎）③伊豆半島（石廊崎）④渥美半島（伊良湖岬）

【25】＜良問＞三重県志摩半島南部の湾
①英虞湾②伊勢湾③三河湾④的矢湾

【26】＜良問＞京都府に所在しない組合せ
①伊根の舟屋（経ヶ岬灯台）②貴船神社（鞍馬温泉）③城崎温泉（玄武洞）
④保津峡（嵯峨野トロッコ列車）

【27】＜奇問★＞天橋立の全長
①1km②3km③10km④30km

【28】＜難問★★＞石見銀山と同一の県（島根県）に所在しない観光施設
①足立美術館（島根県安来市）②水木しげる記念館（鳥取県）
③森鴎外旧宅・森鴎外記念館（島根県津和野町）④小泉八雲記念館（島根県松江市）

【29】＜難問★＞鉱山と県名の間違った組合せ
①足尾銅山（群馬県）（栃木県が正しい）③佐渡金山（新潟県）②生野銀山（兵庫県）
④別子銅山（愛媛県）（←住友が日本を代表する巨大財閥となる礎となった）

【30】＜難問★★＞石見銀山の港町として栄えた温泉
①湯田②玉造③皆生④温泉津（ゆのつ）

【31】＜難問★★＞広域観光周遊ルート「スピリチュアルな島～四国遍路～」
①仁淀川②栗林公園③天赦園④四万十川

【32】＜難問★＞正しい組合せ
①徳島県（阿波おどり）（さぬきうどん）②香川県（琴弾八幡宮大祭）（ふくめん）
③愛媛県（新居浜太鼓祭り）（祖谷そば）④高知県（よさこい祭り）（皿鉢料理）

【33】＜難問★★＞「四国八十八ケ所めぐり」関連問題
①霊山寺②善通寺③石手寺④竹林寺

【34】＜難問★＞どんこ船で水郷めぐりのできる都市
①柳川市②潮来市③小城市④吉元肥市

【35】＜難問★＞古湯・新湯・小地獄の3つに分かれ、湯けむり漂う温泉
①武雄温泉②由布院温泉③平戸温泉④雲仙温泉

【36】＜難問★＞日本最大級の石造りアーチ水路橋
①眼鏡橋②錦帯橋③西田橋④通潤橋

【37】＜難問★★＞文章の正誤問題
①真名井の滝②御崎馬（みさきうま）③西都原古墳群④鬼の洗濯板

【38】＜難問★★＞観光ルートの問題
①長崎鼻②桜島③佐多岬④霧島神宮

●2016年度＝平成28年度の問題分析結果
＜良問＞：11題
＜難問★＞：18題
＜難問★★＞：8題
＜奇問★＞:1題
＜合計＞：38題

【1】＜良問＞小笠原諸島の南島が位置する自治体
①北海道②東京都③鹿児島県④沖縄県

【2】＜難問★★＞南島が参考にしたエコツーリズムの方法、制度
①イエローストーン②グレートバリアリーフ③ガラパゴス④シュバルトバルト

【3】＜難問★★＞小笠原諸島の南島に関する問題
小笠原諸島の南島
※父島の南西にある無人島。第三紀由来の典型的な沈水カルスト地形がみられる。かつては常緑低木が生い茂っていたが、ヤギの食害により所々に地面が露出した現在の姿になった。植生回復のため昭和40年代にはヤギの駆除が行われ、2003年（平成15年）からは自然保護の観点により観光客の入島に際して、東京都認定の自然ガイドの同行、定められたルート以外は立ち入り禁止、1日あたりの入島人数は100人まで、上陸時間は2時間以内、等の自主ルールが設けられている。

【4】＜良問＞日本の世界自然遺産、北から。
(A)知床(B)白神山地(D)屋久島(C)小笠原諸島
※覚え方（南から）⇒（小笠原君が、屋久杉の前で、白装束で、『♪知床旅情♪』を歌った。）

【5】＜難問★＞小笠原諸島における外来種の問題
ノネコ
※ノネコは、メグロなどの陸鳥類や、カツオドリなどの海鳥類を食べてしまいます。父島や母島に多く生息しており、無人島の弟島にも生息していました。

【6】＜難問★＞「三笠ジオパーク」最寄りのJRの駅
岩見沢

【7】＜難問★★＞「三笠ジオパーク」関連の問題
三笠ジオパーク

【8】＜難問★★＞「三笠ジオパーク」は、かつて炭鉱として栄えていたが、その発展に寄与した人物
①徳川慶喜②大久保利通③榎本武揚④伊藤博文

【9】＜難問★＞「三笠ジオパーク」近くに立地していた炭鉱
①三池炭鉱（世界遺産）②高島炭鉱（世界遺産）③夕張炭鉱④美祢炭鉱

【10】＜難問★★＞石炭の鉱山、炭田が主要なジオサイトとなっているジオパークは？
①霧島ジオパーク②室戸ジオパーク③糸魚川ジオパーク
④茨城県北ジオパーク（但し、2017年（平成29年）12月22日に認定が取り消された）

【11】＜良問＞「古都京都の文化財」（世界遺産）に関する問題
古都京都の文化財（世界遺産）

【12】＜良問＞京都市に所在しない「古都京都の文化財」
①天龍寺②延暦寺③龍安寺④醍醐寺

【13】＜良問＞「古都京都の文化財」の構成資産に含まれていないもの
①慈照寺②伏見稲荷大社③清水寺④西芳寺

【14】＜良問＞「古都京都の文化財」のうち、10円硬貨に描かれている鳳凰堂の社寺が所在する場所
①長岡京市②亀岡市③宮津市④宇治市

【15】＜難問★★＞「古都京都の文化財」の構成資産について誤っている説明
①二条城②鹿苑寺（金閣）③教王護国寺（東寺）④高山寺（♪女ひとり♪）

●古都京都の文化財

賀茂御祖神社

清水寺（きよみずでら）

鹿苑寺（ろくおんじ）

慈照寺（じしょうじ）

天竜寺（てんりゅうじ）

龍安寺（りょうあんじ）

二条城(にじょうじょう)

延暦寺（えんりゃくじ）

【16】＜良問＞世界遺産「富士山ー信仰の対象と芸術の源泉」の構成資産のうち、山梨県に所在するもの
①三保松原②白糸ノ滝③富士山本宮浅間神社④忍野八海

★富士山-信仰の対象と芸術の源泉

三保の松原からの富士山

白糸の滝

山宮浅間神社

北口本宮富士浅間神社

【17】＜難問★＞「富士五湖」を西から東に並べた順番
本栖湖精進湖西湖河口湖山中湖

※「富士五湖」の覚え方（その2）：西から東
もっと少し精進すれば、最高の川が山中にできる
・もっと少し→本栖湖
・精進→精進湖（しょうじこ）
・最高→西湖（さいこ）
・川→河口湖
・山中→「山中湖」

※「富士五湖」の覚え方（その1）：東から西
山中君と川口君が、サイコロ振って、遊んでいたら、障子が破れて、もう、どうすんの
（山中湖）（川口湖）（西湖）（精進湖）（本栖湖）

【18】＜良問＞「富士五湖」のうち、千円紙幣に描かれている湖
①本栖湖②精進湖③河口湖④山中湖

【19】＜難問★＞箱根の観光ルート
（小田急グループの観光ルート）箱根湯本→強羅→早雲山→大涌谷→桃源台→箱根町
※箱根山戦争（箱根山サルカニ合戦）：
1950年から1968年にかけて西武グループ（堤康次郎＝堤清二、堤義明の父）（ピストル堤の異名あり）と小田急グループ、およびその背後にいる五島慶太（強盗慶太の異名あり）の東急グループの間で繰り広げられた箱根の輸送シェア争いの通称。巨大グループ同士の衝突が熾烈を極めたため、これに舞台となった箱根山の名を冠して「戦争」と呼ばれ、「箱根山サルカニ合戦」とも揶揄された。

【20】＜難問★＞小田急グループの観光ルート以外にある美術館
①彫刻の議美術館②ガラスの森美術館③森美術館④ラリック美術館

【21】＜難問★＞国宝の指定を受けた城
①岡山城（岡山県）②熊本城（熊本県）③松江城（島根県）④松山城（愛媛県）

【22】＜良問＞「地獄谷野猿公苑」が所在する市町村
①上田市②諏訪市③野沢温泉村④山ノ内町

【23】＜良問＞「立山黒部アルペンルート」がある国立公園
①上信越高原②妙高戸隠連山③白山④中部山岳

【24】＜難問★＞「雪の大谷」を見学できる地点
①美女平②室堂③大観峰④黒部平

【25】＜難問★＞金沢市内の観光地について誤りはどれか
(a)日本三名園の一つである兼六園
(b)前田利家とその正室が祀られている尾山神社
(c)加賀藩二代藩主前田利長の菩提寺である妙立寺
※前田利長の菩提寺は、瑞龍寺（ずいりゅうじ）である。

【26】＜難問★＞間違っている組合せ
①築地場外市場＝東京都②錦市場＝京都府
③黒門市場＝兵庫県（正しくは、大阪市である）④牧志公設市場＝沖縄県

【27】＜難問★＞高尾山に関する問題
高尾山（八王子市にある）

【28】＜奇問★＞高尾山駅から山頂までの距離（Km）
①0.8②1.8③2.8④3.8

【29】＜難問★★＞「瀬戸内しまなみ海道」のルート上に所在しない観光地
①大山祇神社（おおやまづみじんじゃ）②耕三寺③平山郁夫美術館④大和ミュージアム

【30】＜難問★★＞「四国連絡道路」に関する真偽問題
四国連絡道路

【31】＜良問＞大都市とそれが立地する平野の組合せで誤っているもの
①仙台市＝仙台平野②横浜市＝関東平野
③名古屋市＝濃尾平野④福岡市＝筑紫平野（正しくは、福岡平野である）

【32】＜難問★＞札幌市とほぼ同じ緯度(43度)の都市
①ローマ(42度)②パリ(48度)③北京(39度)④ロサンゼルス(34度)

【33】＜難問★★＞2014年における東京大都市圏(3,783万人)に次ぐ人口規模の大都市圏
①上海（2,418万人）②ジャカルタ（3,120万人）③北京（2,171万人）④ロサンゼルス（398万人）

【34】＜難問★＞日本の都市人口率
①30%②50%③70%④90%

【35】＜難問★＞JR線の最初に停車する県庁所在地として間違っているもの
①東海道本線：横浜市②東北本線：さいたま市③高崎線：前橋市（正しくは、さいたま市）
④中央本線：甲府市

●2015年度＝平成27年度の問題分析結果
＜良問＞：11題　＜難問★＞：14題　＜難問★★＞：8題　＜奇問★＞:2題
＜合計＞：35題

全国通訳案内士試験　第1次筆記試験＜日本地理＞解答例															
西暦	2004	2005	2006	2007	2008	2009	2010	2011	2012	2013	2014	2015	2016	2017	2018
平成	16	17	18	19	20	21	22	23	24	25	26	27	28	29	30
1	1	3	3	1	2	3	2	4	3	3	2	2	1	4	4
2	5	2	1	10	3	4	3	1	4	1	4	3	3	2	3
3	2	6	2	14	2	2	4	4	1	4	1	1	2	2	4
4	3	7	3	15	4	4	3	3	1	2	3	3	4	1	2
5	4	8	1	5	3	3	3	2	3	1	3	2	3	2	2
6	2	3	4	3	2	1	4	1	4	3	1	1	4	4	2
7	5	4	1	3	2	3	1	2	3	4	4	4	2	3	4
8	3	3	1	3	3	3	4	3	3	1	1	3	4	2	3
9	2	1	2	5	3	4	3	3	4	4	3	3	2	1	3
10	5	4	3	3	1	2	2	3	1	1	1	4	4	4	1
11	7	3	9	8	2	1	2	2	2	2	3	4	1	3	4
12	8	1	8	11	2	2	4	3	4	4	1	2	1	3	3
13	10	3	5	2	4	3	1	4	1	2	1	2	3	1	4
14	1	3	2	5	4	1	4	1	1	1	3	4	1	4	3
15	2	4	1	14	3	3	2	4	3	4	2	4	3	3	1
16	4	2	4	3	2	4	2	1	1	2	3	4	2	4	2
17	2	2	3	3	2	1	3	4	2	3	4	4	3	4	1
18	5	3	4	4	4	1	4	1	2	2	2	1	3	1	3
19	5	2	4	1	2	2	3	4	4	2	2	3	1	3	1
20	4	1	1	4	3	2	1	4	4	4	1	3	1	1	1
21	4	1	4	9	3	4	1	4	4	3	4	3	2	1	2
22	3	4	2	1	15	5	1	1	2	1	2	4	3	4	2
23	1	10	7	3	4	3	3	3	2	2	1	4	1	1	4
24	3	2	8	10	13	17	8	2	1	4	1	2	2	1	4
25	2	8	5	7	3	2	3	1	3	3	3	3	1	3	3
26	4	3	4	2	4	18	11	4	2	3	2	3	3	2	1
27	1	5	2	10	2	3	1	3	4	2	1	1	2	4	1
28	5	5	1	1	17	8	14	4	4	1	4	4	2	3	1
29		4	2	5	2	1	3	2	3	1	1	4	1	2	4
30		8	3	7	20	7	18	4	4	4	4	3	4	2	3
31		1	10	5	2	2	2	3	1	2	2	4	1	2	1
32		3	6	2	4	4	1	2	1	4	3	1	4	3	3
33			7	3	2	1	4	1	3	3	1	2	3	4	3
34			8	1	4	4	2	4	1	4	4	4	1	2	1
35			2	4	1	2	2	4	3	3	3	3	4	4	4
36			5	J	3	1	3	3	3	1	1		4	2	3
37			3	C	1	3	3	4	2	2	3		2	4	2
38			2	D	3	2	1	3	1	4	2		1		1
39			7	E	1	4	3	4	4	3	4				4
40			3	A	3	4	4	1	3	1	4				

日本地理－ 1 （解答番号 1 ～ 3 ）　　平成 30 年度

各問題に対する解答は配付したマークシートの解答欄にマークすること。例えば 1 と表示のある問題に対して④と解答する場合は、解答番号 1 の解答欄の④にマークすること。

1

観光庁では、訪日外国人旅行者を地方へ誘客するモデルケースとして、三都市を「観光立国ショーケース」に選定している。北海道の道東エリアにある観光立国ショーケース選定都市が関係する a 国立公園と阿寒摩周国立公園の二つの国立公園では、わが国の宝である特別天然記念物「タンチョウ」と「阿寒湖のマリモ」を見学することができる。

問 1　空欄 a に入る語句で正しいものはどれか、次の①～④から一つ選びなさい。　(3 点)

① 支笏洞爺　② 大雪山　③ 知床　④ 釧路湿原　1

2

観光立国ショーケース選定都市の一つである石川県金沢市は、歴史と文化とグルメ満載の街となっており、市内には、日本三名園の一つの兼六園や金沢城公園、 a 茶屋街を含む三つの茶屋街、そして金沢 21 世紀美術館、b 近江町市場などがある。

問 1　空欄 a に入る語句で正しいものはどれか、次の①～④から一つ選びなさい。　(3 点)

① 上三之町　② 長町　③ ひがし　④ 片町　2

問 2　下線部 b のように、外国人観光客が多く訪れる市場と商店街の組合せで、それぞれ同じ都道府県に所在するものはどれか、次の①～④から一つ選びなさい。　(3 点)

① 黒門市場 ＝ 新京極　② 錦市場 ＝ 道頓堀
③ 柳橋連合市場 ＝ 天文館　④ 和商市場 ＝ 狸小路　3

3

北アルプスの中央を貫く a 立山黒部アルペンルートは、富山県と長野県をケーブルカー・ロープウェイ・トロリーバスなどの乗り物を乗り継いで、美女平、弥陀ヶ原、室堂、大観峰、黒部湖、黒部ダムなどの雄大な大自然を満喫することができる国際的にも大規模な山岳ルートとなっており、東南アジアからの外国人観光客が増加している。

また、富山県の立山連峰と後立山連峰の間を流れる黒部川の侵食作用により形成された黒部峡谷では、［ b ］から欅平までトロッコ式電車で知られる黒部峡谷鉄道が通じている。



問 1　下線部 a に関連して、アルペンルートの高原バスから見ることのできる滝はどれか、次の①～④から一つ選びなさい。 (3 点)

① 華厳滝　② 称名滝　③ 養老の滝　④ 那智滝　［ 4 ］

問 2　空欄［ b ］に入る語句で正しいものはどれか、次の①～④から一つ選びなさい。 (3 点)

① 草津温泉　② 宇奈月温泉　③ 湯布院温泉　④ 黒川温泉　［ 5 ］

4

江戸時代の［ a ］藩主内藤家の屋敷があった土地の一部が公園として開放された［ b ］は、敷地内に日本庭園・フランス式庭園・イギリス式庭園などが巧みにデザインされ、c 春の桜の時期には多くの外国人観光客が訪れ、外国人に人気の観光スポットとなっている。

問 1　空欄［ a ］は、城跡が城址公園となり、樹齢 100 年を超えるコヒガンザクラが約 1500 本以上あり、「天下第一の桜」と称される名所となっている。空欄［ a ］に入る語句で正しいものはどれか、次の①～④から一つ選びなさい。 (3 点)

① 松代　② 高遠　③ 小諸　④ 高田　［ 6 ］

問 2　空欄［ b ］に入る語句で正しいものはどれか、次の①～④から一つ選びなさい。 (2 点)

① 上野恩賜公園　② 浜離宮恩賜庭園　③ 小石川後楽園　④ 新宿御苑　［ 7 ］

問 3　下線部 c に関連して、桜の名所に関する次の記述について、正しいものはどれか、次の①～④から一つ選びなさい。 (3 点)

① 弘前公園は、南部藩主の居城であった弘前城跡にできた桜の名所である。
② 岩手公園は、津軽藩主の居城で不来方城とも呼ばれた盛岡城跡にできた桜の名所である。
③ 角館は、みちのくの小京都と呼ばれる城下町で枝垂桜が見事である。
④ 鶴ヶ城は、西南戦争で約1ヵ月の攻防戦に耐えた名城と知られ、会津随一の花見の名所となっている。

［ 8 ］

5

静岡県の伊豆半島は、東京からも近く、週末旅行に人気の観光地となっている。自然が豊かで富士山を望める美しい海や絶景の夕日、滝や峠のある伊豆高原、早咲きの桜で有名な河津桜をはじめ、梅林・水仙・菜の花など四季の花々も楽しめる。

右の地図上の b に位置する [b] は、[b] 湧水群として名水百選にも選ばれている名水の湧き出る川であり、[b] 公園の「わき間」から湧き出した湧水により始まっている。

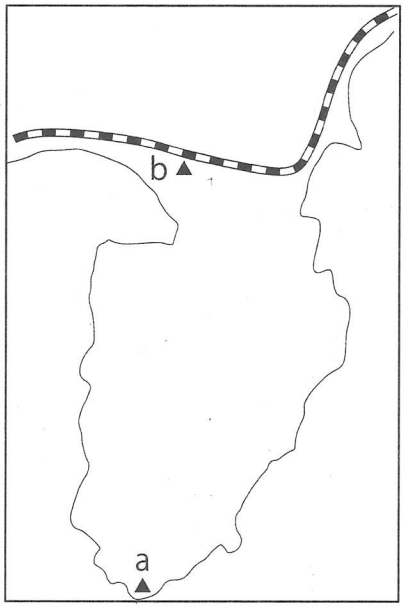

問 1　右の地図上の a に位置する岬で正しいものはどれか、次の①～④から一つ選びなさい。　(3 点)

① 伊良湖岬
② 御前崎
③ 石廊崎
④ 潮岬

9

問 2　空欄 [b] に入る川で正しいものはどれか、次の①～④から一つ選びなさい。　(3 点)

① 柿田川　② 富士川　③ 大井川　④ 天竜川

10

6

長野県北佐久郡 a 軽井沢町の [b] は、紅葉の時期になると木々が鮮やかな赤や黄色に染まり、カモが水面を泳ぐ姿などを見るために台湾などから多くの外国人観光客が訪れる。海外での評判は SNS などを通じて広まったとみられ、香港のガイドブックにも掲載されている。

問 1　下線部 a の軽井沢町には設計・施工が日本人の手による明治後期の純西洋式木造ホテルの「旧三笠ホテル」が重要文化財に指定されているが、ジョン・レノンも滞在したことがあり、現在も軽井沢町で営業しているホテルはどれか、次の①～④から一つ選びなさい。　(3 点)

① 川奈ホテル　② 富士屋ホテル　③ 金谷ホテル　④ 万平ホテル

11

問 2　空欄 [b] に入る池で正しいものはどれか、次の①～④から一つ選びなさい。　(3 点)

① 大正池　② 田代池　③ 雲場池　④ 明神池

12

7

a 栃木県の b では、天然記念物に指定されている樹齢約150年の大藤棚の紫の花が満開になる時期、早朝から行列ができるほどの大混雑になる。特に最近は、米国放送局 CNN の選出した「世界の夢の旅行先10選」に日本国内で唯一選ばれ、テレビ・インターネットで紹介されてから外国人観光客が増加している。



問 1　下線部 a に関連して、温泉と観光地（観光施設）の組合せで栃木県に所在するものはどれか、次の①～④から一つ選びなさい。 (3 点)

① 袋田温泉 —— 偕楽園　② 伊香保温泉 —— 鬼押出し園
③ 湯河原温泉 —— 大涌谷　④ 湯西川温泉 —— 竜化の滝　13

問 2　空欄 b に入る語句で正しいものはどれか、次の①～④から一つ選びなさい。 (3 点)

① 館林つつじが岡公園　② 国営海浜ひたち公園
③ あしかがフラワーパーク　④ 羊山公園　14

8

島根県では毎年旧暦の 10 月を神在月と呼び、 a に全国の神々が集い、様々な縁を結ぶ会議が開かれることから、この神社は縁結びの神社としても知られている。

雲南市と b にまたがるエリアでは、良質な砂鉄と燃料となる木炭に恵まれたことから、かつて「たたら製鉄」で栄え国内の和鉄の大半を産出していた。

安来市にある c は、アメリカの日本庭園専門誌「ジャーナル・オブ・ジャパニーズ・ガーデニング」で 15 年連続で日本一に選ばれている。

「出雲国風土記」（733 年）では、その効能から「神の湯」とされ古より多くの人に親しまれてきた d は、古代には街の東側にある花仙山から良質の青めのうが採れたため、まがたま作りが盛んであった。

山陰の小京都と呼ばれる e は、SL やまぐち号の終着地である。参道に連なる朱の鳥居が壮麗な太皷谷稲成神社や西周旧居、森鴎外旧宅などたくさんの観光スポットがある。



問 1　空欄 a は 2016 年 3 月の「平成の大遷宮」により、全ての社殿の修造遷宮を完了した。空欄 a に入る神社で正しいものはどれか、次の①～④から一つ選びなさい。 (2 点)

① 出雲大社　② 太鼓谷稲成神社　③ 日御碕神社　④ 八重垣神社　15

問 2　雲南市と b にまたがるエリアでは、今もこの技術は承継され、日本刀製作の素材となる玉鋼を国内で唯一生産している。空欄 b に入る語句で、正しいものはどれか、次の①～④から一つ選びなさい。 (3 点)

① 飯南町　② 奥出雲町　③ 大田市　④ 江津市　16

問 3 空欄 c の美術館は「名園と横山大観コレクション」すなわち日本庭園と日本画の調和を創設以来の基本方針としている。空欄 c に入る美術館で、正しいものはどれか、次の①～④から一つ選びなさい。 (2 点)

① 足立美術館 ② MOA 美術館 ③ 大原美術館 ④ 島根県立美術館 17

問 4 空欄 d の湯は、奈良時代初期に開湯し、まるで化粧水のような潤い美肌温泉で温泉街の街歩きも楽しめ、女性に人気がある。空欄 d に入る温泉で、正しいものはどれか、次の①～④から一つ選びなさい。 (2 点)

① 有福温泉 ② 皆生温泉 ③ 玉造温泉 ④ 三朝温泉 18

問 5 空欄 e は江戸時代の面影を色濃くとどめる武家屋敷や森鴎外、西周の旧宅があり、殿町通りの土塀に面した掘割には鯉が悠々と泳いでいる。空欄 e の地名で、正しいものはどれか、次の①～④から一つ選びなさい。 (2 点)

① 津和野 ② 益田 ③ 松江 ④ 温泉津 19

9

広島県には二つの世界遺産があり、川辺に佇む「原爆ドーム」と、海に立つ鳥居を有する a は、広島を代表する観光地である。

日本の周辺海域を分割して防備するために、静かな農漁村ながら天然の良港であった b は、1889 年に鎮守府がおかれたところで、日本の近代化の歴史そのものといわれる b の歴史や造船・航空機などの科学技術を紹介する博物館「大和ミュージアム」は人気の観光スポットである。

「しまなみ海道」は広島県 c と愛媛県今治の間に浮かぶ島々を七つの橋でつないでおり、サイクリストの聖地として、国内外から大勢の人が訪れている。



問 1 空欄 a は満潮時には海に浮かぶかのような優美な姿、干潮時には大鳥居まで歩いて行ける干潟が現れるなど、潮の干満によって多彩な表情をみせる。空欄 a にあてはまるもので、正しいものはどれか、次の①～④から一つ選びなさい。 (2 点)

① 厳島神社 ② 鵜戸神宮 ③ 耕三寺 ④ 広島東照宮 20

問 2 空欄 b は 2016 年に「鎮守府 横須賀・ b ・佐世保・舞鶴～日本近代化の躍動を体感できるまち～」として日本遺産の認定を受けた。空欄 b の都市で、正しいものはどれか、次の①～④から一つ選びなさい。 (2 点)

① 岩国 ② 呉 ③ 竹原 ④ 三原 21

問 3 空欄 c は、「しまなみ海道」の本州側の起点となっており、市内には千光寺がある。空欄 c の都市で、正しいものはどれか、次の①～④から一つ選びなさい。 (2 点)

① 大竹 ② 尾道 ③ 児島 ④ 福山 22

10

陸・海・空のアクセスがよく四国の玄関となる高松市には高松城跡や、街中とは思えない優美な回遊式大名庭園の［ a ］などの史跡や名勝がある。

香川県で高松市に次ぐ第二の都市の［ b ］市は、香川のソウルフード骨付鳥発祥の地と言われている。市内にある築城 400 年の歴史を誇る［ b ］城は、日本一高い石垣と日本一小さな天守、日本一深い井戸と三つの日本一を持ち、見晴らしが良い。

瀬戸内海に浮かぶ［ c ］は、1990 年代から現代アートの活動が民間企業により行われ、作品が散りばめられている島である。

問 1　空欄［ a ］は西に位置する紫雲山を背景に、6 つの池、13 の築山、約 1400 本もの松があり、特別名勝に指定された庭園では日本一の大きさである。空欄［ a ］の公園で、正しいものはどれか、次の①～④から一つ選びなさい。 (2 点)

① 琴引公園　② 玉藻公園　③ 中津万象園　④ 栗林公園　［ 23 ］

問 2　空欄［ b ］に入る都市名で、正しいものはどれか、次の①～④から一つ選びなさい。 (2 点)

① 観音寺　② 坂出　③ さぬき　④ 丸亀　［ 24 ］

問 3　空欄［ c ］には周囲の美しい景観を損なわないよう地中に埋設された地中美術館や、アーティスト李禹煥の作品がある李禹煥美術館、宿泊できる美術館ベネッセハウスミュージアムがある。空欄［ c ］の島で、正しいものはどれか、次の①～④から一つ選びなさい。 (3 点)

① 男木島　② 豊島　③ 直島　④ 女木島　［ 25 ］

11

徳島県の観光スポットの一つに［ a ］海峡の渦潮がある。これは日本だけでなく世界的にも珍しい自然現象で、1日2回満潮時と干潮時に見ることができ、満潮時と干潮時の前後1時間半が見頃と言われている。

徳島市で例年8月12日から15日の4日間開催される活気に満ちた［ b ］は、400年の歴史を持ち、人出は約130万人、踊り子は約10万人が徳島市中心街へ繰り出す夏祭りである。

吉野川の急流の侵食で出来た［ c ］は、遊覧船から美しい岩の彫刻美や四季折々の風景が間近で楽しめる。



問 1　空欄［ a ］海峡は、大毛島の東北端孫崎と淡路島の門崎との間の瀬戸である。空欄［ a ］に入るもので、正しいものはどれか、次の①～④から一つ選びなさい。 (2 点)

① 明石　② 紀淡　③ 来島　④ 鳴門　［ 26 ］

問 2　空欄 b は「踊る阿呆に見る阿呆、同じ阿呆なら踊らにゃソンソン」で知られる祭りである。空欄 b の祭りで、正しいものはどれか、次の①～④から一つ選びなさい。（2 点）

① 阿波踊り　② おはら祭り　③ ホーランエンヤ　④ よさこい祭り　27

問 3　空欄 c は国の名勝天然記念物に指定されている。空欄 c に入るもので、正しいものはどれか、次の①～④から一つ選びなさい。（2 点）

① 大歩危峡　② 面河渓　③ 三段峡　④ 中津渓谷　28

12

博多湾に浮かぶ志賀島で発見され、「漢委奴国王」と刻まれた金印が所蔵されている a は、1990 年に地域の歴史と民俗を研究・展示する博物館として福岡タワー近くに開館した。

福岡県には、学問の神として菅原道真公を祀り年中参拝者でにぎわう b をはじめ、東京、奈良、京都に次いで四番目に開館した国立博物館があるなど、見どころが多い。

問 1　空欄 a にあてはまる場所で、正しいものはどれか、次の①～④から一つ選びなさい。（3 点）

① 九州国立博物館　② 鴻臚館跡展示館　③ 福岡アジア美術館　④ 福岡市博物館　29

問 2　空欄 b には桃山様式の本殿や御神木の飛梅、国宝を収めた宝物殿などがあり、受験合格などを祈願する参拝者が国内外から訪れる。空欄 b にあてはまるもので、正しいものはどれか、次の①～④から一つ選びなさい。（2 点）

① 櫛田神社　② 櫛原天満宮　③ 太宰府天満宮　④ 筥崎宮　30

問 3　福岡県農業総合試験場で育成され、2005 年に登録された大粒で甘みの強いイチゴを使った福岡の土産品は数多くある。このイチゴの登録商標で、正しいものはどれか、次の①～④から一つ選びなさい。（3 点）

① あまおう　② こいのか　③ 紅ほっぺ　④ とちおとめ　31

問 4　約 830 年前の慶祝行事であった博多松囃子を博多町人が発展させた、博多を代表する祭りの一つで、毎年 5 月 3 日と 4 日の二日間かけて市民総参加で賑やかに行われる祭りについて、正しいものはどれか、次の①～④から一つ選びなさい。（3 点）

① 玉取祭（玉せせり）　② 博多祇園山笠　③ 博多どんたく　④ 火の国祭り　32

13

鹿児島県は、幕末から明治へ移る激動の時代を動かした西郷隆盛や大久保利通が生まれ育った場所である。

1865 年に完成した日本に現存する洋式工場として最も古い建物a旧集成館は「明治日本の産業革命遺産 製鉄・製鋼、造船、石炭産業」として世界文化遺産に登録されている。

鹿児島港から高速船で最速 1 時間 50 分の場所に位置し、島一番の巨木として君臨する「縄文杉」を見るための登山コースがある [b] は 1 ヵ月のうち 35 日雨が降ると言われるほど雨が多い島である。



問 1　下線部 a の旧集成館のある場所に隣接した大名庭園で、桜島を築山に錦江湾を池に見立てるという、他に類をみない雄大な景観を持つ島津家の別邸で、正しいものはどれか、次の①～④から一つ選びなさい。(3 点)

① 縮景園　② 松濤園　③ 仙巌園　④ 天赦園　[33]

問 2　薩摩半島に位置し「砂むし温泉」で有名な温泉で、正しいものはどれか、次の①～④から一つ選びなさい。(3 点)

① 指宿温泉　② 日奈久温泉　③ 古里温泉　④ 湯の児温泉　[34]

問 3　空欄 [b] に入る島の名前で、正しいものはどれか、次の①～④から一つ選びなさい。(2 点)

① 硫黄島　② 口永良部島　③ 種子島　④ 屋久島　[35]

14

沖縄県は、日本で唯一全域が亜熱帯に属する県で、那覇市の年間平均気温は23.1℃と温暖な気候である。47の有人島からなり、与那国島は日本最西端で、波照間島は人の住む島としては日本最南端に位置している。

a 宮古島では、トリップアドバイザー日本のベストビーチに３年連続１位に選ばれた与那覇前浜ビーチや日本百景に数えられる［ e ］など数多くの美しい景観が楽しめる。

b 竹富島の魅力はその町並みであり、南国の花々が咲く集落は、まさに沖縄の原風景そのものといえる。

c 西表島は約 90%以上がジャングルにおおわれ、手つかずの自然が残っており、イリオモテヤマネコが生息していることでも知られている。

d 石垣島は、八重山の経済・行政・観光の中心で、代表する景勝地として［ f ］が有名である。

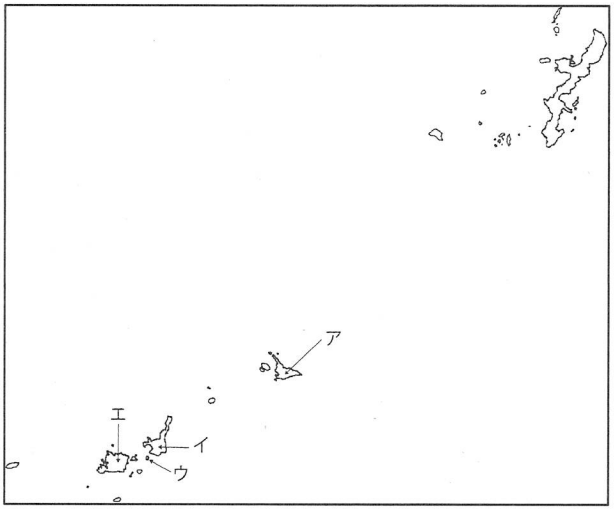

問１　下線部 a～d の島は右上の地図中のア～エのいずれかに位置する。島の名前とその正しい位置の組み合わせはどれか、次の①～④から一つ選びなさい。 (3 点)

①	アー石垣島	イー西表島	ウー竹富島	エー宮古島
②	アー宮古島	イー竹富島	ウー西表島	エー石垣島
③	アー宮古島	イー石垣島	ウー竹富島	エー西表島
④	アー西表島	イー宮古島	ウー石垣島	エー竹富島

［ 36 ］

問２　空欄［ e ］は、宮古島の南東端にあり、春には岬一帯でテッポウユリが咲き乱れる。
空欄［ e ］に入る名前で正しいものはどれか、次の①～④から一つ選びなさい。 (2 点)

① 残波岬　② 東平安名崎　③ 辺戸岬　④ 辺野古崎

［ 37 ］

問３　空欄［ f ］はミシュランで三つ星に格付けられたほどに美しく、湾内を周遊するグラスボートの船底から、泳ぎまわる熱帯魚やサンゴ礁を見ることができる。
空欄［ f ］に入る名前で正しいものはどれか、次の①～④から一つ選びなさい。 (2 点)

① 川平湾　② 金武湾　③ 舟浮湾　④ 宮良湾

［ 38 ］

問４　琉球王朝の王族や貴族が祝い事の際に食べる菓子として珍重され、かつては庶民の食べ物ではなかった琉球独自の菓子で、小麦粉・砂糖・ラードを混ぜ合わせて焼き上げられた、さっくりとした食感と上品な甘さが人気の菓子の名前で正しいものはどれか、次の①～④から一つ選びなさい。 (3 点)

① きっぱん　② くんぺん　③ サーターアンダギー　④ ちんすこう

［ 39 ］

日本地理—1（解答番号 1 ～ 4 ）　平成29年度

各問題に対する解答は配付したマークシートの解答欄にマークすること。例えば 1 と表示のある問題に対して④と解答する場合は、解答番号 1 の解答欄の④にマークすること。

1

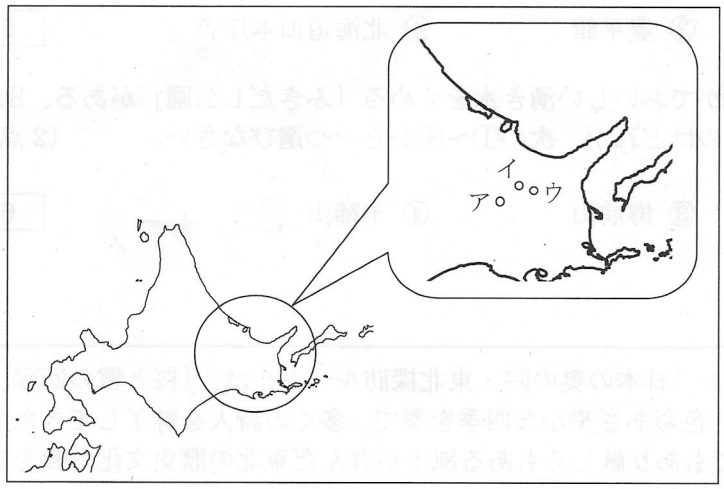



北海道は、日本の国土の約22%を占め都道府県の中では最も広い面積で、山地や傾斜地が比較的少なく、なだらかな土地が多いのが特徴となっている。
多くの美しいカルデラ湖があり観光名所となっており、日本一大きいカルデラ湖の a 屈斜路湖、透明度の高い b 摩周湖、マリモが生育する c 阿寒湖、は有名である。
北海道の政治・経済・文化の中心は札幌。およそ80年に渡り道政を担った北海道旧本庁舎や、札幌市時計台など、北海道の歴史を語る建物が今も残っている。

問1　下線部a～cの湖は地図中のア～ウのいずれかに位置する。湖の名前とその正しい位置の組み合わせはどれか、次の①～④から一つ選びなさい。（3点）

① アー屈斜路湖　イー摩周湖　ウー阿寒湖
② アー摩周湖　イー阿寒湖　ウー屈斜路湖
③ アー屈斜路湖　イー阿寒湖　ウー摩周湖
④ アー阿寒湖　イー屈斜路湖　ウー摩周湖　[1]

問2　札幌市は日本最北の政令指定都市である。自然に囲まれた美しい風景や様々な観光スポットがあるが、次の観光地のうち札幌市にあるものはどれか、次の①～④から一つ選びなさい。（2点）

① 北方文化博物館　② モエレ沼公園　③ 天狗山展望所　④ 北一硝子　[2]

問3　札幌市の住所は「条丁目」形式であり、南北の基点となっているのは「大通り」である。東西の基点となっている川で正しいものはどれか、次の①～④から一つ選びなさい。（2点）

① 新川　② 創成川　③ 豊平川　④ 真駒内川　[3]

問4　平成28年に国土交通大臣が認定した広域観光周遊ルート「日本のてっぺん。きた北海道ルート」は、札幌・旭川ときた北海道の日本のてっぺんを目指すルートである。岬の先端に「日本最北端の地」の碑がある岬で、正しいものはどれか、次の①～④から一つ選びなさい。（2点）

① 宗谷岬　② 納沙布岬　③ ノシャップ岬　④ スコトン岬　[4]

問 5　昭和 45 年に国の重要文化財に指定された札幌市内にある観光スポットで、旧札幌農学校演武場であった建物はどれか、次の①～④から一つ選びなさい。（2 点）

① 札幌市資料館　② 時計台　③ 豊平館　④ 北海道旧本庁舎　5

問 6　日本百名山の一つで、山麓には清らかでおいしい湧き水をくめる「ふきだし公園」がある、別名蝦夷富士と呼ばれる山で、正しいものはどれか、次の①～④から一つ選びなさい。（2 点）

① 有珠山　② 昭和新山　③ 樽前山　④ 羊蹄山　6

2



広域観光周遊ルート「日本の奥の院・東北探訪ルート」は、「桜と雪の回廊、祭り、紅葉、樹氷。色彩あざやかな四季を奏で、多くの詩人を魅了してきた美しい自然と、豊かでもあり厳しくもある風土が育んだ東北の歴史文化と食を探訪する旅」がコンセプト。
主要な訪問地や宿泊先では、東北の名産や郷土料理を楽しめるだけでなく、体験や交流を通して、日本の未知の領域を感じることができるルートとなっている。

問 1　春は「さくらまつり」・夏は「ねぷたまつり」で有名な、関東以北で唯一、江戸時代の天守が往時のまま現存する青森県の都市で、正しいものはどれか、次の①～④から一つ選びなさい。（2 点）

① 青森市　② 黒石市　③ 弘前市　④ むつ市　7

問 2　秋田県には効能の良さから湯治を目的とした温泉が数多くあるが、次の温泉または温泉郷のうち秋田県に所在するものはどれか、次の①～④から一つ選びなさい。（2 点）

① 大鰐温泉　② 玉川温泉　③ 鶯宿温泉　④ 不老ふ死温泉　8

問 3　最上川舟運の終点地で、船乗りが老松に鍋をかけて作ったのがルーツと伝えられ、山形市で 9 月の敬老の日の前日に馬見ヶ崎河川敷を会場に直径 6m の大鍋で作られる郷土料理で正しいものはどれか、次の①～④から一つ選びなさい。（2 点）

① 芋煮　② 粕汁　③ しょっつる鍋　④ ひっつみ　9

問 4　松尾芭蕉が 1689 年 46 才の時、門人を伴って「奥の細道」行脚に出立し、東北地方を巡った際、「閑さや岩にしみ入蝉の声」と詠んだ場所で、正しいものはどれか、次の①～④から一つ選びなさい。（2 点）

① 平泉　② 中尊寺　③ 湯殿山　④ 立石寺　10

3



新潟県は本州の日本海沿岸のほぼ中央に位置し、朝日山地、飯豊山地、越後山脈が東側に連なり、西側には妙高山などの山々がそびえている。県内に有する温泉地数は全国第3位を誇り、a 日本海に沈む夕日を眺められる温泉や、雪が舞うなかの露天風呂など雪国固有の楽しみがある。

開湯は明治37年に石油掘削の際に噴出したのがきっかけである、日本海に沈む夕日を眺めながら湯浴みを楽しめる村上市にある下線部 a の温泉で、正しいものはどれか、次の①～④から一つ選びなさい。（3点）

① 岩室温泉　② 温海温泉　③ 瀬波温泉　④ 月岡温泉　11

4

群馬県は、標高13mの関東平野から2578mの日光白根山まで、2500mを超える高低差があり、山・湖・高原・川・森林・四季折々の美しい自然がすぐ手の届くところにある。雪解け水がしぶきを上げる東洋のナイアガラとも呼ばれる［ a ］、東西6km、幅2kmにも及ぶ本州最大の高層湿原で900種類以上の花が咲き多くの登山者を魅了する［ b ］、日本三大奇勝の1つとして荒々しい岩肌が創り出す自然景観の美しさが特徴となっている［ c ］、など県内各地に魅力的なポイントがある。

問1　空欄［ a ］は昭和11年に「天然記念物及び名勝」に指定された。空欄［ a ］に入る滝の名前で、正しいものはどれか、次の①～④から一つ選びなさい。（2点）

① 常布の滝　② 棚下不動滝　③ 吹割の滝　④ 袋田の滝　12

問2　空欄［ b ］に入る地名で、正しいものはどれか、次の①～④から一つ選びなさい。（2点）

① 尾瀬　② 北軽井沢　③ 万座　④ 水上高原　13

問3　空欄［ c ］に入る山の名前で、正しいものはどれか、次の①～④から一つ選びなさい。（3点）

① 赤城山　② 子持山　③ 榛名山　④ 妙義山　14

5

長野県北信濃エリアは、善光寺や戸隠神社などの信仰を集め栄えた地や、a 小布施、須坂など街道沿いに発展した商都が点在する一方で、日本の原風景ともいわれるのどかな里山風景が広がるところである。外国人観光客にお薦めできる信州を満喫できる旅のモデルコースとしては、1400年の歴史を誇る国宝善光寺、世界的に有名なスノーモンキー、歴史的な町並みが美しいa 小布施を巡り、日本の避暑地を代表する軽井沢での楽しいショッピングなどがある。

問1 下線部aの小布施は蔵を活かした町づくりで人気が高く、年間100万人以上が訪れる観光地で、晩年を小布施で過ごした、[b]の作品を収蔵する施設がある。
空欄[b]に入る語句として、最も適切なものはどれか、次の①～④から一つ選びなさい。（3点）

① 小林一茶　② 堀辰夫　③ 葛飾北斎　④ 歌川広重　[15]

問2 北信濃エリアの観光地を説明した次の組み合わせで、正しいものはどれか、次の①～④から一つ選びなさい。（3点）

① 秋山郷 － 長野県と群馬県にまたがる日本の秘境100選の1つ。
② 善光寺 － 毎年4月から5月の2ヵ月間は御開帳として「北向観音」を拝むことができる。
③ 戸隠神社 － 奥社参道には樹齢400年を超える桜並木が約2kmに渡って続く。
④ 姨捨の棚田 － 国の重要文化的景観に選定されている。　[16]

問3 スノーモンキーとして外国人観光客にも人気の野猿の入浴が見られる地獄谷温泉や、古くから文人墨客たちに愛されてきた上林温泉など、夜間瀬川沿いの9つの温泉地の総称で、正しいものはどれか、次の①～④から一つ選びなさい。（3点）

① 大町温泉郷　② 信州高山温泉郷　③ 蓼科温泉郷　④ 湯田中渋温泉郷　[17]

6

国内外問わず、多くの観光客が訪れる富士山を望むことのできる観光スポットとして、桜と五重塔と富士山を同時に見ることのできる［ a ］、2015年に開業した日本一長い歩行者用b 吊り橋の三島スカイウォーク、 千円札裏面の図案のモデルとなった本栖湖などがある。

問1 空欄［ a ］に入る語句として、最も適切なものはどれか、次の①～④から一つ選びなさい。（3点）

① 新倉山浅間公園 ② 日本平 ③ 笛吹川フルーツ公園 ④ 三保の松原 ［18］

問2 下線部bに関連して、観光客が多く訪れる吊り橋とその所在する都道府県の組合せとして、正しいものはどれか、次の①～④から一つ選びなさい。（3点）

① 竜神大吊橋 － 栃木県 ② 九重〝夢〟大吊橋 － 宮崎県
③ 谷瀬の吊り橋 － 奈良県 ④ 綾の照葉大吊橋 － 熊本県 ［19］

山梨県内には、武田信玄ゆかりの史跡が数多く残されている。信玄が生前に菩提寺として定めていた［ a ］や、甲府市内には居住した館跡に創建された信玄を御祭神とする武田神社、信州伊那駒場で急逝した信玄の秘喪の3年間密かに埋葬されていた武田信玄公墓所などがある。また、富士五湖の1つ［ b ］は、富士山が美しく眺められる場所として、「外国人に人気の日本の観光スポットランキング2016（トリップアドバイザー）」で23位に選出されている。

問3 空欄［ a ］は、元徳2年に夢窓国師により開山され、武田家滅亡後、織田信長による焼き討ちの際、三門に立てこもった快川国師が「安禅必ずしも山水を須いず、心頭滅却すれば火も自ら涼し」の言葉を残したと伝えられていることで知られている。
空欄［ a ］に入る寺の名前で、正しいものはどれか、次の①～④から一つ選びなさい。（3点）

① 恵林寺 ② 大泉寺 ③ 龍潭寺 ④ 長禅寺 ［20］

問4 空欄［ b ］は、標高が833mと富士五湖の中では最も低く、面積では5.78平方キロメートルの富士五湖では2番目の大きさで、湖の中には鵜の島がある。大月とを結ぶ富士急行線の終着駅名にもなっている、空欄［ b ］に入る湖の名前で正しいものはどれか、次の①～④から一つ選びなさい。（3点）

① 河口湖 ② 西湖 ③ 精進湖 ④ 山中湖 ［21］

問5 山梨県小淵沢駅と長野県小諸駅を結ぶ小海線は、ＪＲ線で最も標高の高いところを走る路線で高原列車の旅が楽しめる。ＪＲ線で日本一標高が高い駅で、正しいものはどれか、次の①～④から一つ選びなさい。（3点）

① 甲斐大泉駅 ② 清里駅 ③ 信濃川上駅 ④ 野辺山駅 ［22］

7



江戸と京を結ぶ中山道は、山深い木曽路を通ることから木曽街道とも呼ばれ、中山道六十九次のうち江戸から数えて四十二番目の妻籠宿は、中山道と伊那街道が交叉する交通の要衝として古くから賑わいをみせている。

中山道にある宿場で四十二番目の妻籠宿と四十三番目の馬籠宿の間をハイキングコースとして歩くツアーは外国人観光客にも人気がある。その途中にある滝で最も適切なものはどれか、次の①～④から一つ選びなさい。（3点）

① 男滝・女滝　② 華厳の滝　③ 秋保大滝　④ 浄蓮の滝　23

8



滋賀県には歴史・文化豊かな人気観光地を巡る楽しみが豊富なお薦めコースがある。
和船で水郷を巡る近江八幡、狸の焼き物で有名な信楽、国宝彦根城、a 長浜などがある。

下線部 a に関連して、長浜の［ b ］は、ガラスをテーマにした町で、世界各国の美しいガラス製品が展示販売されている他、ガラス制作の体験ができる工房などがある。
空欄［ b ］に入る語句として最も適切なものはどれか、次の①～④から一つ選びなさい。（3点）

① 黒壁スクエア　② 国際通り　③ 境町通り　④ ハルニレテラス　24

9



外国人観光客の多い京都では、年間 300 余りの祭りがあると言われている。その中でも「京都三大祭り」といえば「下鴨神社と上賀茂神社の例祭で5月に催される（ ア ）」、「7月に行われ、1000年以上の伝統を有する八坂神社の例祭（ イ ）」、「10月に平安神宮が実施する（ ウ ）」をいう。

空欄（ア）（イ）（ウ）に当てはまる語句の組合せとして、最も適切なものはどれか、次の①～④から一つ選びなさい。 (3点)

	（ア）	（イ）	（ウ）
①	葵祭	時代祭	祇園祭
②	時代祭	祇園祭	葵祭
③	葵祭	祇園祭	時代祭
④	時代祭	葵祭	祇園祭

25

10



近畿地方南部の太平洋に突出する紀伊半島は、古くからの信仰の地であり、世界遺産に登録されている「紀伊山地の霊場と参詣道」には、熊野三山に至る熊野参詣道、落差133mの名瀑 a 、高野山真言宗の総本山金剛峯寺、熊野詣での湯垢離場として知られる b などがある。

問1 空欄 a に入る語句として、最も適切なものはどれか、次の①～④から一つ選びなさい。 (3点)

① 赤目四十八滝 ② 那智の滝 ③ 箕面の滝 ④ 養老の滝 26

問2 空欄 b に入る語句として、最も適切なものはどれか、次の①～④から一つ選びなさい。 (3点)

① 金泉 ② 崎の湯 ③ 仙人風呂 ④ つぼ湯 27

11



兵庫県北部にある自然と温泉を楽しめる観光コースとして、虎が臥せているように見えることから「虎臥城」とも呼ばれ、秋から冬にかけての良く晴れた早朝に発生する雲海で有名な a や、「鴻の湯」などの7つの外湯めぐりを楽しむことのできる b 等がある。

問1 空欄 a に入る語句として、最も適切なものはどれか、次の①～④から一つ選びなさい。 (3点)

① 上田城 ② 春日城跡 ③ 竹田城跡 ④ 備中松山城 28

問2 空欄 b に入る語句として、最も適切なものはどれか、次の①～④から一つ選びなさい。 (3点)

① 有馬温泉 ② 城崎温泉 ③ 宝塚温泉 ④ 湯村温泉 29

12

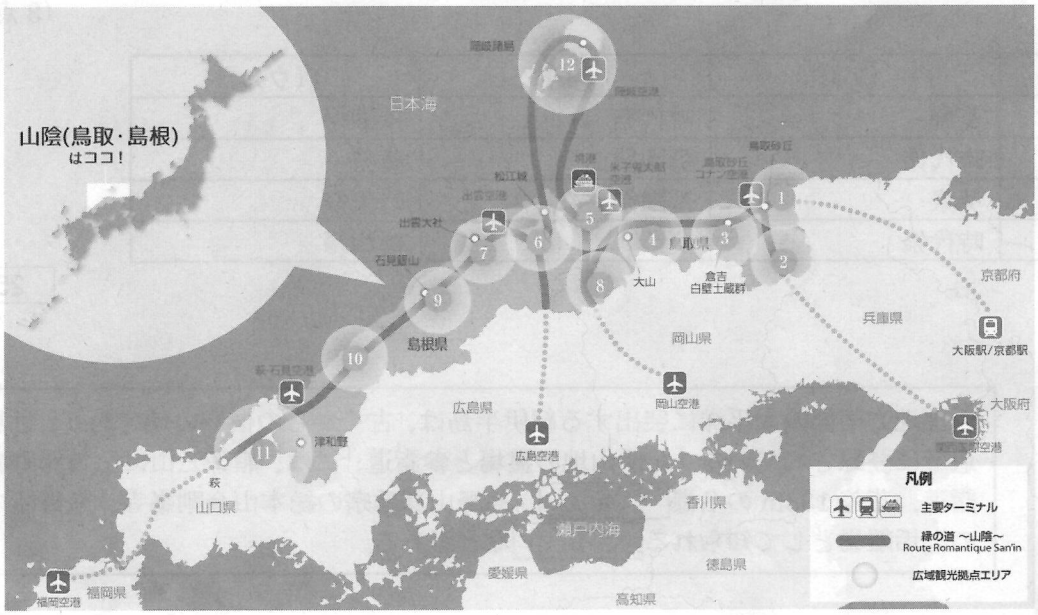

訪日外国人観光客の誘致を目的とした「広域観光周遊ルート」に「縁の道～山陰～」が選定されている。「縁の道～山陰～」は、古い歴史を持つ山陰で「神話」や「伝説」をテーマにして鳥取県、a 島根県、b 山口県萩市までの東西に長い地域の12地区の観光拠点を軸に構成されている。

問1　下線部 a の島根県内にある以下の観光地説明文の空欄［ c ］に入る語句として、最も適切なものはどれか、次の①～④から一つ選びなさい。（3点）

＜観光地説明文＞
隠岐にある［ c ］は隠岐を代表するダイナミックな景勝地です。アーチ状の通天橋や摩天崖など大断崖・奇岩がそそり立ち、大自然の造形美に圧倒されます。その中でも摩天崖は、海面から257mの高さで垂直にそそり立っています。

① 浦富海岸　② 国賀海岸　③ 白兎海岸　④ 丹後海岸　［30］

問2　下線部 a の島根県内にある以下の観光地説明文の空欄［ d ］に入る語句として、最も適切なものはどれか、次の①～④から一つ選びなさい。（3点）

＜観光地説明文＞
日本五大稲荷のひとつとも言われている［ d ］は、願望成就の他、商売繁盛、開運厄除の神として信仰を集めており、特に正月の初詣には毎年数十万人の参拝客が押し寄せます。参道には、1000本の朱塗りの鳥居がまるでトンネルのように並び壮観です。小高い境内から見下ろせば、津和野の町並みが箱庭のように広がっています。

① 豊川稲荷　② 太皷谷稲成神社　③ 伏見稲荷大社　④ 福徳稲荷神社　［31］

問3　下線部 b の山口県萩市内に所在する世界遺産「明治日本の産業革命遺産」の構成資産としては、萩城下町や松下村塾などがある。「明治日本の産業革命遺産」の構成資産に関連して、その他の構成資産と所在地の組合せで正しいものはどれか、次の①～④から一つ選びなさい（3点）

① 静岡県 ― 橋野鉄鉱山
② 熊本県 ― 旧集成館
③ 長崎県 ― 端島炭坑
④ 鹿児島県 ― 旧グラバー住宅　［32］

13

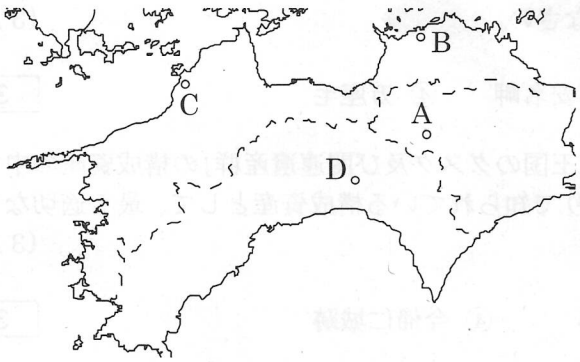



a 四国の香川県にある金刀比羅宮は、古くから「さぬきのこんぴらさん」として親しまれている海の神様である。参道の両脇には土産物やうどんの店が並び御本宮までは785段の石段のぼりを楽しむことができる。
また周辺にある日本最古の芝居小屋「旧金毘羅大芝居」は、［ b ］の愛称で親しまれている。

問1　下線部 a に関連して、地図上の A・B・C・D の各点と四国各県に所在する観光地（観光施設）の位置との組合せで最も適切なものはどれか、次の①～④から一つ選びなさい。（3点）

① A － 石手寺　② B － 祖谷のかずら橋
③ C － 栗林公園　④ D － 龍河洞　［ 33 ］

問2　空欄［ b ］に入る語句として、最も適切なものはどれか、次の①～④から一つ選びなさい。（3点）

① 歌舞伎座　② 金丸座　③ 斜陽館　④ 康楽館　［ 34 ］

14



環境省は、日本国内にある国立公園を「世界水準のナショナルパーク」としてブランド化し、訪日外国人旅行者の増加をはかるため8つの国立公園を選定した。
その中の「a 慶良間諸島国立公園」は、b 沖縄県那覇市の西方にある30余りの島々と岩礁からなる島嶼部で、地元ダイビング事業者によるサンゴ保全の取り組み、エコツーリズム全体構想などが評価されたことにより選定された。

問1　下線部 a の代表的な島として、最も適切なものはどれか、次の①～④から一つ選びなさい。（3点）

① 伊江島　② 久米島　③ 竹富島　④ 渡嘉敷島　［ 35 ］

問2　下線部bに関連して、沖縄県にある国立公園「やんばる国立公園」に所在する観光地等で最も適切なものはどれか、次の①～④から一つ選びなさい。（3点）

① マリユドゥの滝　② 大石林山　③ 東平安名岬　④ 万座毛　36

問3.　下線部b に関連して、沖縄県に所在する「琉球王国のグスク及び関連遺産群」の構成資産の中で、毎年1月下旬から2月上旬に開催される桜祭りで知られている構成資産として、最も適切なものはどれか、次の①～④から一つ選びなさい。（3点）

① 勝連城跡　② 座喜味城跡　③ 首里城跡　④ 今帰仁城跡　37

日本地理—1（解答番号 1 ～ 5 ）　平成28年度

各問題に対する解答は配付したマークシートの解答欄にマークすること。例えば 20 と表示のある問題に対して⑤と解答する場合は、解答番号 20 の解答欄の⑤にマークすること。

1

「広域観光周遊ルート」に認定された「アジアの宝　悠久の自然美への道　ひがし北・海・道」は、道東地方の富良野地区、十勝川地区、知床地区、釧路地区等を周遊する観光ルートである。

問1　「ひがし北・海・道」エリアのゲートウェイ空港として、このエリアに含まれない空港はどれか、次の①～④から選びなさい。（2点）

① 稚内空港　② 紋別空港　③ 女満別空港　④ 中標津空港　[1]

問2　「ひがし北・海・道」エリアには、北海道の代表的な美しい8つのガーデンが集中していることから「北海道ガーデン街道」と呼ばれている街道がある。この街道は、大雪～[a]～十勝を結び全長約250 kmの街道となっている。[a]には「風のガーデン」があるが、そこはどれか、次の①～④から選びなさい。（3点）

① 恵庭　② トマム　③ 富良野　④ 美幌　[2]

問3　「ひがし北・海・道」エリアには、阿寒国立公園があるが、この公園内にある湖はどれか、次の①～④から選びなさい。（2点）

① サロマ湖　② 屈斜路湖　③ 十和田湖　④ 支笏湖　[3]

問4　「ひがし北・海・道」エリアには、石狩川沿いに24 kmにわたって続く渓谷があり、断崖絶壁に流れ落ちる美しい銀河・流星の滝が見られる。この渓谷の名称はどれか、次の①～④から選びなさい。（3点）

① 天人峡　② ふきだし公園　③ 錦仙峡　④ 層雲峡　[4]

2

函館は1859年、横浜・長崎とともに日本最初の国際貿易港として開港し、異国の文化が上陸したところである。
赤レンガ倉庫群のある a ベイエリア、旧函館区公会堂や函館ハリストス正教会など異国情緒が色濃く残るレトロな街並みの b 元町エリア、戊辰戦争の最後の舞台となった[c]エリア、350余年の歴史を持ち水平線に並ぶ漁火を数えながらお湯に浸かれる湯の川エリアがある。
本年3月26日には北海道新幹線が開業し、トラピスト修道院へ続くポプラ並木をイメージした大きな柱が特徴の新函館北斗駅は、北海道の新たな玄関口となっている。



問1　下線部 a には、北洋漁業の基礎を築き、函館の発展に貢献した[a]の、北前船にまつわる品々を中心に展示した資料館がある。「箱館発展の恩人」と言われる[a]の人物は誰か、次の①～④から選びなさい。（3点）

① 榎本武揚　② 坂本龍馬　③ 高田屋嘉兵衛　④ 土方歳三　[5]

問2　下線部bには、眺望がミシュラン・グリーンガイド・ジャポンに三つ星として掲載された b があり、ここからの夜景は特に有名である。 b に入る語句として最も適切なものはどれか、次の①～④から選びなさい。（2点）

① 恵山　② 五稜郭タワー　③ 立待岬　④ 函館山　6

問3　空欄 c は、北方防備の目的で作られた日本初のフランス築城方式の星型要塞であり、戊辰戦争の最後の舞台となった。最も適切なものはどれか、次の①～④から選びなさい。（2点）

① 香雪園　② 五稜郭　③ 千畳敷　④ 函館公園　7

3



宮城県仙台は、街の中央を a が流れ、都市の洗練さと緑豊かな杜の都としての二つの表情を持っている。
それまで「千代」と書いて「せんだい」と読ませていたものを、仙台藩祖伊達政宗が「仙台」という名前をつけた。市内には仙台藩祖の霊屋（墓所） b がある。
伊達藩祖は美食家としても知られ「伊達美味（だてうま）」と呼ばれる c 定番人気グルメは有名である。

問1　空欄 a は、100万都市仙台の街の中央を流れる「青葉城恋唄」にもうたわれた川である。最も適切なものはどれか、次の①～④から選びなさい。（2点）

① 名取川　② 七北田川　③ 鳴瀬川　④ 広瀬川　8

問2　伊達政宗を祀った仙台市中心部の南西、経ケ峯にある豪華絢爛な御廟 b の名称で最も適切なものはどれか、次の①～④から選びなさい。（2点）

① 感仙殿　② 瑞鳳殿　③ 善応殿　④ 大極殿　9

問3　下線部cについて、仙台の定番人気グルメに入っていないものはどれか、次の①～④から選びなさい。（2点）

① 牛タン焼き　② 笹かまぼこ　③ ずんだ餅　④ 治部煮　10

問4　「仙台の奥座敷」と呼ばれ、本年5月にG7サミット財務大臣・中央銀行総裁会議が開催された温泉はどれか、次の①～④から選びなさい。（3点）

① 秋保温泉　② 作並温泉　③ 遠刈田温泉　④ 鳴子温泉　11

4

栃木県の北西部にある日光市は、明治から昭和初期にかけて外国人の避暑地として賑わったところである。
東京の下町 a 駅から東武鉄道の特急「スペーシアけごん」が東武日光駅までを結んでいる。1999年に「日光の社寺」として世界遺産に登録された b は徳川家康公の霊廟として創建されたものである。境内では陽明門をはじめ、絢爛豪華な彫刻や彩色の建築装飾に目を奪われる。
日光市街から48か所もの急カーブがあることから「 c 」と名付けられた観光道路を上ると、周囲25㎞、およそ2万年前に d の噴火による溶岩で渓谷がせきとめられて出来た中禅寺湖がある。

問1 空欄 a は東京都台東区に位置し、近くには「雷門」などの観光スポットがあり、特急「スペーシア」が発着する東武鉄道の始発終着駅名である。最も適切なものはどれか、次の①～④から選びなさい。 (2点)

① 浅草　② 上野　③ 押上　④ 北千住　12

問2 空欄 b に入る語句として、最も適切なものはどれか、次の①～④から選びなさい。 (2点)

① 大谷寺　② 日光山輪王寺　③ 日光東照宮　④ 二荒山神社　13

問3 空欄 c の日光市街と奥日光とを結ぶ観光道路は、下り専用と上り専用の二つの坂を合計すると48か所もの急カーブがあることから名づけられた。この観光道路の名称で最も適切なものはどれか、次の①～④から選びなさい。 (2点)

① いろは坂　② 四十八坂　③ 椎坂峠　④ 地獄坂　14

問4 奥日光の入り口に位置する中禅寺湖は、周囲25㎞、最大水深163mで、およそ2万年前に d の噴火による溶岩で渓谷がせきとめられ、原形ができたといわれている。空欄 d に入る語句として、最も適切なものはどれか、次の①～④から選びなさい。 (3点)

① 鬼怒沼山　② 白根山　③ 男体山　④ 女峰山　15

5

東京は1603年に徳川家康がこの地に幕府を開いた江戸時代から発展し続け、現在では世界有数の大都市になっている。
2012年に復元された日本で最大級の煉瓦建築である a 東京駅、634m と高さ世界一の自立式電波塔 b スカイツリーなど国内外から多くの旅行者が訪れている。
太平洋上にある伊豆諸島などの火山島群や c 小笠原諸島も東京都に属している。
小笠原諸島は、島のほぼ全域が小笠原国立公園に指定され、世界自然遺産にも登録されている。

問 1　下線部 a の 1914 年に創建された東京駅丸の内駅舎は、1945 年の戦災により南北のドームと屋根・内装を焼失した。戦後、3 階部分を取り除き 2 階建て駅舎に復興していたが、2012 年 10 月に約 100 年前の姿に復元された。
この東京駅丸の内駅舎や日本銀行本店などを設計した者は誰か、次の①～④から選びなさい。
（3 点）

① ジョサイア・コンドル　② 辰野金吾　③ フランク・ロイド・ライト　④ 本野精吾　16

問 2　下線部 b にあるスカイツリータウンには、「東京諸島」の海をテーマに、小笠原の海を再現した東京大水槽がある水族館があるが、この水族館の名称で最も適切なものはどれか、次の①～④から選びなさい。
（2 点）

① サンシャイン水族館　② スカイツリー水族館　③ すみだ水族館　④ ソラマチ水族館　17

問 3　下線部 c の小笠原諸島へは、東京港竹芝客船ターミナルと小笠原の二見港とを小笠原海運の「おがさわら丸」が結んでいる。小笠原諸島で最も人口が多く、二見港のある島はどれか、次の①～④から選びなさい。
（2 点）

① 兄島　② 弟島　③ 父島　④ 母島　18

6

「昇龍道」は国内にある「広域観光周遊ルート」のひとつで、日本列島の「まん中」にある愛知県・岐阜県・富山県・石川県を南から北へと縦断する新しい旅の観光ルートである。

「昇龍道」には 6 つのネットワークルートがあり、その中の「ドラゴン・ルート」は、能登半島を頭とする龍がこのエリア最大の都市の名古屋から天に昇っていく様子に見立てた昇龍道の象徴的なルートである。

「中部国際空港～名古屋～a 郡上八幡～下呂温泉～b 高山～富山～c 高岡～d 金沢～和倉温泉～e 輪島～小松空港」等は「ドラゴン・ルート」の代表的な観光ルートとなっている。

問 1　下線部 a に関連して、「郡上八幡」は a 上流の名水百選第 1 号宗祇水や郡上おどりがある江戸時代を感じることのできる奥美濃の城下町である。
空欄 a に入る語句として、最も適切なものはどれか、次の①～④から選びなさい。（3 点）

① 長良川　② 鈴鹿川　③ 黒部川　④ 九頭竜川　19

問 2　下線部 b に関連して、「高山の古い町並」では、情緒豊かな雰囲気を残す江戸時代の町屋を散策することができる。
「高山」に所在しない観光地（観光施設）はどれか、次の①～④から選びなさい。（3 点）

① 合掌造り民家園　② 吉島家住宅　③ 日下部民藝館　④ 宮川朝市　20

問 3　下線部 c に関連して、高岡市内にある日本の白砂青松・渚百選に選ばれた c からは、富山湾越しに 3000m 級の立山連峰を望むことができる。
空欄 c に入る語句として、最も適切なものはどれか、次の①～④から選びなさい。（3 点）

① 越前海岸　② 雨晴海岸　③ 気比の松原　④ 虹の松原　21

問4　下線部dに関連して、金沢駅から和倉温泉までを下記のルートで観光した場合、次の空欄 d に入る語句として、最も適切なものはどれか、次の①～④から選びなさい。（3点）

<観光ルート>
金沢駅～千里浜なぎさドライブウエー～巌門～ d ～禄剛崎灯台～
見附島（軍艦島）～穴水～和倉温泉

① 東尋坊　② 兼六園　③ 白米千枚田　④ 永平寺　22

問5　下線部eに関連して、石川県輪島の「朝市」には多くの観光客が訪れる。日本各地の朝市とその所在する都道府県にある観光地等の組み合わせとして、誤っているものはどれか、次の①～④から選びなさい。（3点）

① あつみ温泉朝市 － 中尊寺　② 勝浦朝市 － 犬吠埼灯台
③ 函館朝市 － トラピスチヌ修道院　④ 呼子の朝市 － 吉野ヶ里遺跡　23

7

本年5月に開催された「伊勢・志摩サミット」は、三重県a 志摩半島南部の b に浮かぶ景勝地の賢島で開催された。
伊勢・志摩は、リアス式海岸と大小さまざまな島々や20年に1度、式年遷宮の行われる伊勢神宮などがあり、日本の美しい自然と豊かな文化、伝統を一度に味わえる観光地である。

問1　下線部aに関連して、日本各地の半島に所在する観光地等の組み合わせで誤っているものはどれか、次の①～④から選びなさい。（3点）

① 牡鹿半島 － 金華山　② 三浦半島 － 御前崎
③ 伊豆半島 － 石廊崎　④ 渥美半島 － 伊良湖岬　24

問2　空欄 b に入る語句として最も適切なものはどれか、次の①～④から選びなさい。（3点）

① 英虞湾　② 伊勢湾　③ 三河湾　④ 的矢湾　25

8



「天橋立」は、a 京都府北部、日本海の宮津湾にあり、幅は約20m～170m、全長約 b kmの砂嘴（さし）でできた砂浜に大小約8000本もの松が生い茂っている珍しい地形で、その形が天に架かる橋のように見えることから「天橋立」と名がつけられた。

問1　下線部aに関連して、京都府に所在しない温泉、観光地、観光施設等の組み合わせはどれか、次の①～④から選びなさい。（3点）

① 伊根の舟屋 ― 経ヶ岬灯台　② 貴船神社 ― 鞍馬温泉
③ 城崎温泉 ― 玄武洞　④ 保津峡 ― 嵯峨野トロッコ列車　26

問2　空欄 b に入る数字として、最も適切なものはどれか、次の①～④から選びなさい。（3点）

① 1 km　② 3 km　③ 10 km　④ 30 km　27

9

2007年に「石見銀山遺跡とその文化的景観」として世界文化遺産に登録された a 石見銀山では、16世紀から17世紀に大量の銀が採掘された。石見銀山はその功績や町並みだけでなく採掘当時から周囲の自然に配慮した環境保全が成されていた。石見銀山の港町として栄えた b 温泉は、1300年以上の歴史があり静かで落ち着きのある温泉街である。

問1　下線部 a の石見銀山と同一の県に所在しない下記の観光施設として、最も適切なものはどれか、次の①～④から選びなさい。（3点）

① 足立美術館　② 水木しげる記念館
③ 森鴎外旧宅・森鴎外記念館　④ 小泉八雲記念館　28

問2　下線部aに関連して、日本各地に存在した鉱山と県名の組み合わせとして誤っているものはどれか、次の①～④から選びなさい。（3点）

① 足尾銅山 ― 群馬県　② 生野銀山 ― 兵庫県
③ 佐渡金山 ― 新潟県　④ 別子銅山 ― 愛媛県　29

問3　空欄 b に入る語句として、最も適切なものはどれか、次の①～④から選びなさい。（3点）

① 湯田　② 玉造　③ 皆生　④ 温泉津　30

10

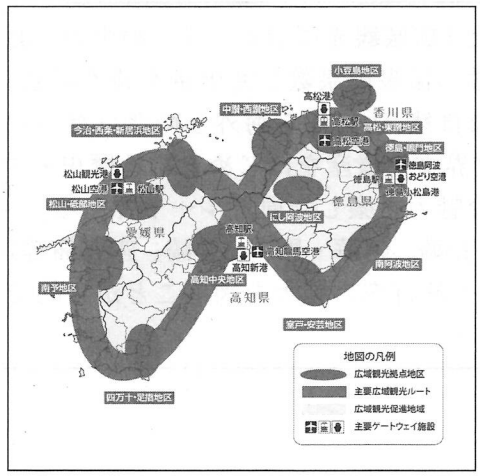

a 四国４県（徳島県、香川県、愛媛県、高知県）は、「スピリチュアルな島～四国遍路～」として広域観光周遊ルートに選ばれた。
b「四国遍路とお接待の心の文化」「日本の原風景が残る未知なる観光地」「1200 年の歴史や文化に触れる旅」をコンセプトに外国人旅行者に満足してもらえる観光地を目指している。

問１　下線部 a に関連して、各県の代表的な河川、観光施設等の記述として誤っているものはどれか、次の①～④から選びなさい。（3 点）

① 徳島県を西から東に流れる仁淀川は、「四国三郎」とも呼ばれる四国最大の大河である。
② 香川県高松市にある栗林公園は、紫雲山を借景に池と築山を配した庭園である。
③ 愛媛県宇和島市にある天赦園は、池泉廻遊式の大名庭園である。
④ 高知県にある四万十川は、「日本最後の清流」として知られ、増水すると沈む、沈下橋を見ることができる。

31

問２　下線部 a に関連して、各県とお祭り・イベントと名物料理の組み合わせで正しいものはどれか、次の①～④から選びなさい。（3 点）

	県名	お祭り・イベント	名物料理
①	徳島県	阿波おどり	さぬきうどん
②	香川県	琴弾八幡宮大祭	ふくめん
③	愛媛県	新居浜太鼓祭り	祖谷そば
④	高知県	よさこい祭り	皿鉢料理

32

問３　下線部 b に関連して、「四国八十八ヶ所めぐり」の以下の各寺院についての記述で、［　　］に当てはまる語句の組み合わせとして正しいものはどれか、次の①～④から選びなさい。（3 点）

・徳島県にある霊山寺は、四国八十八ヶ所の第一番札所で、［（ア）］として知られる。
・香川県にある善通寺は、四国八十八ヶ所の第七十五番札所で、お大師様の［（イ）］として、京都府の東寺、和歌山県の高野山と並ぶ弘法大師三大霊跡のひとつである。
・愛媛県にある石手寺は、四国八十八ヶ所の第五十一番札所で、日本最古といわれる［（ウ）］の近くにある。
・高知県にある竹林寺は、四国八十八ヶ所の第三十一番札所で、［（エ）］にありその頂上からは高知市街と浦戸湾が一望できる位置にある。

	（ア）	（イ）	（ウ）	（エ）
①	発願の寺	御誕生所	道後温泉	石鎚山
②	御誕生所	発願の寺	鈍川温泉	五台山
③	発願の寺	御誕生所	道後温泉	五台山
④	御誕生所	発願の寺	鈍川温泉	石鎚山

33

11

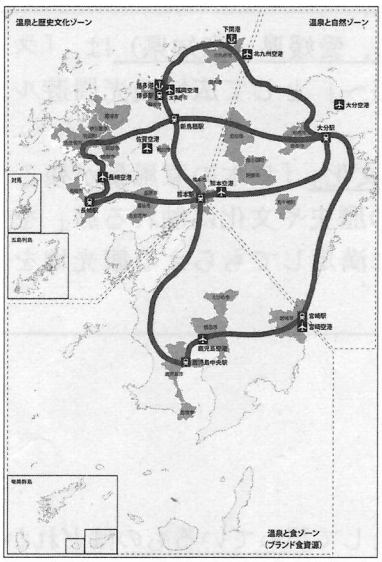

外国人旅行客向けに選定された「広域観光周遊ルート」の中の「温泉アイランド九州」は、日本有数の温泉源泉数と湧出量を誇る温泉、その温泉を育むダイナミックな自然、古くから海外との窓口だった歴史が育んだ豊かな食文化、世界文化遺産をはじめとする歴史・文化資源など、九州7県の多様な魅力を楽しむ周遊ルートである。主な広域観光拠点地区（福岡、長崎、阿蘇・黒川、宮崎、鹿児島等）に韓国、中華圏、欧州からの個人旅行客の拡大を図ることが目的である。

問1　広域観光拠点のひとつであり、江戸時代は立花氏の城下町として発展し、どんこ船で水郷めぐりのできる都市として最も適切なものはどれか、次の①～④から選びなさい。（2点）

① 柳川市　② 潮来市　③ 小城市　④ 飫肥市　34

問2　広域観光拠点のひとつであり、明治の頃に外国人の避暑地として開かれた国際的な観光地で、古湯・新湯・小地獄の3つに分かれ、湯けむりが漂う街並みの温泉街として最も適切なものはどれか、次の①～④から選びなさい。（2点）

① 武雄温泉　② 由布院温泉　③ 平戸温泉　④ 雲仙温泉　35

問3　広域観光拠点の熊本地区の近くにあり、日本最大級の石造りアーチ水路橋で、国の重要文化財に指定されているものとして最も適切なものはどれか、次の①～④から選びなさい。（3点）

① 眼鏡橋　② 錦帯橋　③ 西田橋　④ 通潤橋　36

問4　宮崎県にある観光地等に関する次の文章について誤っているものはどれか、次の①～④から選びなさい。（3点）

① 高千穂峡には、日本の滝百選に指定されている「真名井の滝」がある。
② えびの高原では、「御崎馬」と呼ばれる野生馬が静かに草を食んでいる姿を見ることができる。
③ 西都市には、日本全国有数の大古墳群である「西都原古墳群」がある。
④ 青島には、「鬼の洗濯板」と呼ばれている波状岩がある。　37

問5　広域観光拠点の鹿児島地区に関連して、下記のルートで観光した場合、［a］に入る語句として最も適切なものはどれか、次の①～④から選びなさい。（3点）

<観光ルート>
鹿児島中央駅～仙巌園（磯庭園）～指宿温泉（砂蒸し温泉体験）～［a］～池田湖～知覧武家屋敷～鹿児島中央駅

① 長崎鼻　② 桜島　③ 佐多岬　④ 霧島神宮　38

日本地理—1（解答番号 1 ～ 10 ）　平成27年度

各問題に対する解答は配付したマークシートの解答欄にマークすること。例えば 20 と表示のある問題に対して④と解答する場合は、解答番号 20 の解答欄の④にマークすること。

1　次の(1)～(4)は日本における世界遺産及び日本ジオパークの写真とそれに関する説明である。それらを参照して、それぞれの問いに答えなさい。（各3点×20＝60点）

(1)

小笠原諸島の父島に隣接した南島は、①海成段丘の隆起と沈降によってできた沈水カルスト地形の無人島です。島には、ドリーネと呼ばれる②窪地やラピエとよばれる③鋭くとがった岩が幻想的な自然の風景をつくりだし、海鳥の棲息地や④ウミガメの産卵地にもなっており、エコツーリズムが満喫できる島です。

問1　この島が位置する自治体として、最も適切なものはどれか、次の①～④から選びなさい。 1

① 北海道　② 東京都　③ 鹿児島県　④ 沖縄県

問2　この島のエコツーリズムは、人数や時間および散策するコースを制限し、自然保護・保全に努めている。このようなエコツーリズムの方法や制度はどこのものを参考にしているのか、最も適切なものを次の①～④から選びなさい。

① イエローストーン　② グレートバリアリーフ　③ ガラパゴス　④ シュバルツバルト　2

問3　小笠原諸島の南島に関する説明の中で、誤っているものが1つある。それはどれか、説明文の①～④から選びなさい。 3

問4　日本の世界自然遺産は、(A) 知床、(B) 白神山地、(C) 小笠原諸島、(D) 屋久島の4つである。4つを北から南に順番に並べるとどのような組み合わせになるか、最も適切なものを次の①～④から選びなさい。 4

① ABCD　② ACBD　③ ABDC　④ ADCB

問5　小笠原諸島における世界自然遺産を維持管理していくうえで問題となっている外来種として、最も適切なものはどれか、次の①～④から選びなさい。 5

① 犬　② 猫　③ 鶏　④ 兎

(2)

三笠ジオパークは① 日本ジオパークの1つです。この地域では、クビナガリュウなどの恐竜などが生息していた② 1億年前の時代から、石炭がつくられた③ 5000万年前の時代を経て、その石炭が発見されて炭鉱の町になるまでの時間旅行を楽しめます。古い時代のこの地域の海底で泳いでいた生物の1つに④ 巨大な三葉虫があり、それらの化石は1億年前の古い地層から発見され、この三笠市内の博物館に展示されています。

問1　このジオパークのJRの最寄り駅として、最も適切なものはどれか、次の①～④から選びなさい。 6

① 岩見沢　② いわき　③ 宇部　④ 直方

問2　このジオパークに関する説明の中で、誤っているものが1つある。それはどれか、説明文の①～④から選びなさい。 7

問3　このジオパークはかつて炭鉱として栄えた。この炭鉱の発展に寄与した人物として、正しいものはどれか、次の①～④から選びなさい。 8

① 徳川慶喜　② 大久保利通　③ 榎本武揚　④ 伊藤博文

問4　このジオパークの近くに過去に立地していた炭鉱として、最も適切なものはどれか、次の①～④から選びなさい。 9

① 三池炭鉱　② 高島炭鉱　③ 夕張炭鉱　④ 美祢炭鉱

問5　このジオパークと同様に石炭の鉱山、ないしは炭田が主要なジオサイトとなっているジオパークとして、最も適切なものはどれか、次の①～④から選びなさい。 10

① 霧島ジオパーク　② 室戸ジオパーク　③ 糸魚川ジオパーク　④ 茨城県北ジオパーク

(3)

日本の古都である京都は、a 8世紀末、当時の中国の都城を規範に、b 平安京として建設され、以後約1000年の長きにわたって繁栄した。世界遺産に登録されている17の資産は、いずれも芸術的価値が高く、c 約200棟に及ぶ建造物（国宝・重要文化財）を擁するほか、優美な庭園によって構成されている。創建当初の建造物は、過去に相当部分を焼失してしまっているが、再建を繰り返し、現在も日本文化の象徴として大切に守られている。

問1 世界遺産「古都京都の文化財」に関する説明文の中で、下線部a～cの語句の表現として、最も適切なものはどれか、次の①～④から選びなさい。 11

① aとbは正しい ② bとcは正しい ③ aとcは正しい ④ aとbとcのいずれも正しい

問2 世界遺産「古都京都の文化財」の構成資産のうち、それぞれの社寺の本堂が京都府に所在しない建造物はどれか、次の①～④から選びなさい。 12

① 天龍寺 ② 延暦寺 ③ 龍安寺 ④ 醍醐寺

問3 京都市に所在する建造物のうち、世界遺産「古都京都の文化財」の構成資産に含まれていないものはどれか、次の①～④から選びなさい。 13

① 慈照寺 ② 伏見稲荷大社 ③ 清水寺 ④ 西芳寺

問4 世界遺産「古都京都の文化財」の構成資産のうち、日本の十円硬貨に描かれている鳳凰堂の社寺が所在する場所はどこか、次の①～④から選びなさい。 14

① 長岡京市 ② 亀岡市 ③ 宮津市 ④ 宇治市

問5 世界遺産「古都京都の文化財」を構成する社寺に関する次の文章について、誤っている内容のものはどれか、次の①～④から選びなさい。 15

① 二条城は、JR京都駅から見て北方向に位置する江戸時代の城跡である。徳川家康の将軍宣下の賀儀と徳川慶喜の大政奉還が行われ、250年以上続く江戸時代の始まりと終焉の場所である。

② 鹿苑寺は、寺院全体を「金閣寺」として知られ、最も距離の近い資産としては龍安寺がある。1950年の放火により焼失したが、5年後に再建・復元された。

③ 教王護国寺（東寺）は、真言宗の根本道場であり、東寺真言宗の総本山でもある。東本願寺・西本願寺とともに、JR京都駅から徒歩圏内に位置する。

④ 高山寺は、皇室とゆかりの深い寺で、出家後の宇多法皇が住んだことから、「御室御所」と称されている。「古都京都の文化財」を構成する社寺において、最も西に位置する。

(4)



富士山は、日本最高峰の山であり、古来より、日本の象徴的存在として山頂への登拝や山麓にある霊地への巡礼などが行われてきた。こうした山岳信仰とともに、葛飾北斎の浮世絵（富嶽三十六景）に代表される芸術上の主要な題材として、日本国内のみならず国際的にも大きな影響を及ぼした文化的景観を形成している。「富士山—信仰の対象と芸術の源泉」として、静岡県と山梨県にまたがる、信仰遺跡群や登山道、富士五湖、山麓の浅間神社など、25の構成資産が世界遺産に登録されている。

問1 世界遺産「富士山—信仰の対象と芸術の源泉」の構成資産のうち、山梨県に所在するものはどれか、次の①～④から選びなさい。 16

① 三保松原 ② 白糸ノ滝 ③ 富士山本宮浅間大社 ④ 忍野八海

問2 富士五湖のうち、一番西側は本栖湖、一番東側は山中湖であるが、西から東に並べた順番として正しいものはどれか、次の①～④から選びなさい。 17

① 本栖湖—西湖—精進湖—河口湖—山中湖 ② 本栖湖—精進湖—河口湖—西湖—山中湖

③ 本栖湖—西湖—河口湖—精進湖—山中湖 ④ 本栖湖—精進湖—西湖—河口湖—山中湖

問3 富士五湖のうち、日本の現在の千円紙幣に描かれている湖はどれか、次の①～④から選びなさい。 18

① 本栖湖 ② 山中湖 ③ 河口湖 ④ 精進湖

問4 富士山観光のひとつでもある箱根を訪ねる場合に、箱根登山鉄道、箱根登山ケーブルカー、箱根ロープウェイ、芦ノ湖遊覧船を利用する観光ルートがある。箱根登山鉄道の箱根湯本を出発し、芦ノ湖遊覧船の箱根町に出る場合、その乗り換え地点の経路として正しいものはどれか、次の①～④から選びなさい。 19

① 箱根湯本—強羅—大涌谷—早雲山—桃源台—箱根町 ② 箱根湯本—強羅—大涌谷—桃源台—早雲山—箱根町

③ 箱根湯本—強羅—早雲山—大涌谷—桃源台—箱根町 ④ 箱根湯本—強羅—早雲山—桃源台—大涌谷—箱根町

問5 上の問4による観光ルートの周辺には、多くの観光客の訪れる美術館がある。上の問4による観光ルート以外にあるものはどれか、次の①～④から選びなさい。 20

① 彫刻の森美術館 ② ガラスの森美術館 ③ 森美術館 ④ ラリック美術館

2 次の(1)～(5)は日本の観光地に関連する写真と説明である。それらを参照して、それぞれの問いに答えなさい。

（各3点×10＝30点）

(1)

長野県にある国宝「松本城」は、別名「深志城」ともいわれ、現在の天守は、築城から約400年余り経過している。二の丸正門、太鼓門などが復元され、現存する五層六階の天守閣からは、松本市内と遠くには北アルプスを眺めることができる。

姫路城、彦根城、犬山城、[a]とともに国宝の天守のひとつである。

問1 空欄aに入る語句は、2015年5月に国宝の指定を受けた城である。最も適切なものはどれか、次の①～④から選びなさい。 21

① 岡山城（岡山県） ② 熊本城（熊本県） ③ 松江城（島根県） ④ 松山城（愛媛県）

問2 松本城と同じ長野県に所在し、スノーモンキーで有名な「地獄谷野猿公苑」が所在する市町村として正しいものはどれか、次の①～④から選びなさい。 22

① 上田市 ② 諏訪市 ③ 野沢温泉村 ④ 山ノ内町

(2)



立山黒部アルペンルートは、ケーブルカー、ロープウェイ、トロリーバスなどを乗り継ぎ、富山県立山町—長野県大町市間の、[a]国立公園内にある北アルプスを貫く観光ルートである。広大な景観、可憐な高山植物、秋の紅葉、期間限定（4月～6月）のb「雪の大谷」などの大自然を楽しむことができる。

問1 空欄aに入る語句として、最も適切なものはどれか、次の①～④から選びなさい。 23

① 上信越高原 ② 妙高戸隠連山 ③ 白山 ④ 中部山岳

問2 下線部bの見学ができる地点として、最も適切なものはどれか、次の①～④から選びなさい。 24

① 美女平 ② 室堂 ③ 大観峰 ④ 黒部平

(3)

2015年3月14日に開業した北陸新幹線により、観光客が急増した金沢市内の観光地としては、a 日本三名園の一つである兼六園、前田利家が創建した加賀百万石の居城跡である金沢城公園、b 利家とその正室が祀られている尾山神社、江戸時代の雰囲気を残すひがし茶屋街、c 加賀藩二代藩主前田利長の菩提寺である妙立寺、近江町市場などが挙げられる。

問1 下線部a～cの語句の表現として、最も適切なものはどれか、次の①～④から選びなさい。 25

① aは誤り ② bは誤り ③ cは誤り ④ aとbとcいずれも誤り

問2 近江町市場に関連して、外国人旅行者が多く訪れる市場と所在地の組み合わせとして、誤っているものはどれか、次の①～④から選びなさい。 26

① 築地場外市場＝東京都 ② 錦市場＝京都府 ③ 黒門市場＝兵庫県 ④ 牧志公設市場＝沖縄県

(4)

高尾山は、東京の中心部から約50㎞離れた a 青梅市に位置する標高約 b 600mの山であり、ミシュランガイドの「三ツ星」に選ばれたことにより、世界中の観光客がハイキングに訪れる名所となっている。代表的な1号路（表参道コース）は、ケーブルカー清滝駅前広場から上りはじめ、高尾山駅、さる園、たこ杉、山門などを通り、参拝すると幸福に恵まれるという c 薬王院を経て、山頂へと至る約 d ㎞の道である。

問1 下線部a～cの語句の表現として、最も適切なものはどれか、次の①～④から選びなさい。 27

① aは誤り ② bは誤り ③ cは誤り ④ bとcは誤り

問2 空欄dに入る数字として、最も適切なものはどれか、次の①～④から選びなさい。 28

① 0.8 ② 1.8 ③ 2.8 ④ 3.8

(5)



広島県尾道市と愛媛県今治市を結ぶ a「瀬戸内しまなみ海道」（西瀬戸自動車道）は、b「本州四国連絡道路」の3ルートの中で唯一、自転車専用道（有料）を併設しており、世界的にも有名なサイクリングロードとして知られ、最近では香港・台湾・インドネシア・シンガポールなどから多くのサイクリストが訪れている。

問1 下線部aの「瀬戸内しまなみ海道」のルート上に所在しない観光地はどこか、次の①～④から選びなさい。 29

① 大山祇神社 ② 耕三寺 ③ 平山郁夫美術館 ④ 大和ミュージアム

問2 下線部bの「本州四国連絡道路」に関する記述として誤っているものはどれか、次の①～④から選びなさい。 30

① 瀬戸中央自動車道にある瀬戸大橋は、瀬戸内海をまたいで岡山県倉敷市と香川県坂出市を結ぶ橋の総称で、海峡部の全長は9,000mを超えている。

② 瀬戸大橋は、5つの島を上下2段構造（上部：自動車道、下部：鉄道）の6つの橋で結んでおり、鉄道と道路を併用した橋としては世界最大級の総延長約13㎞を誇る。

③ 神戸淡路鳴門自動車道は、兵庫県神戸市と徳島県鳴門市を結ぶ高速道路で、途中にある明石海峡大橋に造られた海上遊歩道の先端にある展望室からは渦潮を見ることができる。

④ 西瀬戸自動車道は、レンタサイクルのターミナルが10か所以上設置されており、相互に乗り捨てが自由にできる。

3 日本の大都市に関する次の文章を読んで、それぞれの問いに答えなさい。 （各2点×5＝10点）

日本では、高度経済成長期において農山村から(1)大都市への人口移動が著しく、その時期における(2)東京・大阪・名古屋の大都市圏での流入人口と流出人口の差である社会増加は1100万人にものぼった。このような(3)東京・大阪・名古屋などの大都市圏に人口が集中する状況は、都市部における経済発展と産業の高度化にともなう人手不足が大きな要因のひとつとなっており、労働力が都市に流出した農山村は過疎地域になっている。一方、大都市では人口増加に社会資本の投入が追いつかず、環境汚染や公害、地価の高騰、住宅難、交通の混雑といった都市問題に直面した。また、大都市には、金融や情報など多くの都市機能も集中し、雇用機会も多い。なかでも(4)東京は、中枢管理機能や資本の集中・集積の程度が特に高く、一極集中が進んでいる。このような集中や都市と地方の格差も日本における都市問題となっている。そのため、大都市では、地方への都市機能や工場の分散、あるいは都市計画の実施やニュータウンの建設などによって、都市問題を克服する努力を続けている。

問1 下線(1)に関連して、日本の大都市とそれが立地する平野の組み合わせとして、誤っているものはどれか、次の①～④から選びなさい。 31

① 仙台市：仙台平野 ② 横浜市：関東平野 ③ 名古屋市：濃尾平野 ④ 福岡市：筑紫平野

問2 下線(1)に関連して、日本の大都市で最も北に位置しているのは札幌市である。世界の大都市において、札幌市とほぼ同じ緯度に位置するものとして、最も適切なものはどれか、次の①～④から選びなさい。 32

① ローマ ② パリ ③ 北京 ④ ロサンゼルス

問3 下線(2)に関連して、2014年国連統計における世界最大の人口を擁する東京大都市圏に次ぐ人口規模の大都市圏として、最も適切なものはどれか、次の①～④から選びなさい。 33

① 上海 ② ジャカルタ ③ 北京 ④ ロサンゼルス

問4 下線(3)に関連して、都市に居住する人口の総人口に対する割合は都市人口率で示される。2014年国連統計における日本のおよその都市人口率として、最も適切なものはどれか、次の①～④から選びなさい。 34

① 30% ② 50% ③ 70% ④ 90%

問5 下線(4)に関連して、東京の中心的な駅のひとつである東京駅は、各地から鉄道が集まるターミナル駅になっている。それぞれのJR線の鉄道を利用して最初に停車する県庁所在地として、誤っているものはどれか、次の①～④から選びなさい。 35

① 東海道本線：横浜市 ② 東北本線：さいたま市 ③ 高崎線：前橋市 ④ 中央本線：甲府市